الجمهورية اليمنية
وزارة التربية والتعليم والبحث العلمي
قطاع المناهج وتخطيط التعليم
الإدارة العامة للمناهج



الرياضيات

للصف الأول الثانوي

(الجزء الأول)

حقوق الطبع محفوظة لوزارة التربية والتعليم والبحث العلمي
١٤٤٧هـ - ٢٠٢٦م

http://E-learning-moe.edu.ye



النشيد الوطني

رددي أيتها الدنيا نشيدي ورديه وأعيدي وأعيدي
واذكري في فرحتي كل شهيدٍ وامنحيه خلّداً من ضوءِ عيدي

رددي أيتها الدنيا نشيدي
رددي أيتها الدنيا نشيدي

وحدتي .. وحدتي .. يا نشيداً رائعاً يملأ نفسي أنت عهدٌ عالقٌ في كل ذمّة
رايتي .. رايتي .. يا نسيجاً حِكتهُ من كل شمس أخلَدِي خافقةً في كل قمّة
أمتي .. أمتي .. إمنحيني البأس يا مصدر بأسي واذخُريني لكِ يا أكرمَ أمة

عشتُ إيماني وحبّي أمميًا
ومسيري فوق دربي عربيا
وسيبقى نبضُ قلبي يمنيا
لن ترى الدنيا على أرضي وصيا

المصدر: قانون رقم (٣٦) لسنة ٢٠٠٦م بشأن السلام الجمهوري ونشيد الدولة الوطني للجمهورية اليمنية

http://Yaman.E-learning-moe.edu.ye

بسم الله الرحمن الرحيم

تَصْدِيرٌ

الحمد لله رب العالمين وصلى الله وسلم على سيدنا محمد وآله الطاهرين ورضي الله عن صحابته المنتجبين وعنا معهم برحمتك يا أرحم الراحمين.

وبعد :

تحرص وزارة التربية والتعليم والبحث العلمي على تجويد وتطوير العملية التعليمية من خلال إرساء قواعد منظومة تعليمية متكاملة تلبي احتياجات البيئة اليمنية وتتناسب مع هويتها الإيمانية.

وبعد مراجعة النظام التعليمي وقياس مستوى أدائه، وتحديد أهم التحديات التي تواجهه، قامت وزارة التربية والتعليم والبحث العلمي بإعادة أولوياتها، وتنظيم جهودها لإحداث التطوير بما يتماشى مع توجهات الدولة ورؤيتها المستقبلية؛ حيث أصبحت تعنى بالمتعلم باعتباره محور العملية التعليمية التعلمية.

إن النقلة النوعية التي نشهدها حاليًا أحدثت الكثير من المتغيرات الجذرية، فجاءت الكتب الدراسية متسمة بالحداثة والمرونة، والتوافق في موضوعاتها مع مستويات أبنائنا الطلبة والطالبات، وخصائص نموهم العقلي والنفسي، وثقافتهم الاجتماعية، واهتمت بالجوانب المهارية والفنية؛ تحقيقًا لمبدأ أصيل من مبادئ فلسفة التربية وبناء الشخصية المتكاملة للفرد، وعززت دور المتعلم في عملية التعليم من خلال إكسابه مهارات التعلم الذاتي والتعلم التعاوني، ولم يعد الكتاب المدرسي إلا دليلاً يسترشد به الطالب للوصول إلى ما تختزنه مصادر المعلومات المختلفة، كالمراجع المكتبية، ومصادر التعلم الإلكترونية الأخرى وعلى الطالب القيام بعملية البحث والتقصي للوصول إلى ما هو أعمق وأشمل.

وستظل الوزارة بإذن الله في سعي مستمر لتطوير العملية التعليمية بما يحقق البناء المنشود ويواكب متطلبات التنمية.

والله ولي الهداية والتوفيق ؛؛؛

وزارة التربية والتعليم والبحث العلمي

بسم الله الرحمن الرحيم

المقدمـــــة

الحمد لله رب العالمين والصلاة والسلام على خاتم المرسلين وآله وصحبه وسلم .

إن إعادة النظر في مناهج الرياضيات وكتبها المدرسية أمر ضروري تحتمه مواكبة التطور العلمي وتحديث تربويات الرياضيات إضافة إلى مسايرة التغيرات الاجتماعية .

واستجابة لذلك يأتي هذا الكتاب « كتاب الرياضيات للصف العاشر من التعليم العام » كحلقة ضمن سلسلة متكاملة على مرحلتين : الأساسية (١ – ٩) والثانوية (١٠ – ١٢) .

لقد عُرضت مواضيع الكتاب في تماسك وتكامل وفق تسلسل علمي ونفسي تربوي ومراعاة للفروق الفردية تم تقديم المادة الدراسية بأسلوب سلس واضح لاغموض فيه ولاتعقيد ، حيث أوردنا قدراً كافياً من الأمثلة بعد العرض النظري وأتبعنا ذلك بعدد من التمارين والمسائل آملين إتاحة فرص كثيرة للتعامل مع المادة ليكون الطالب محور التعلم معتمداً على النشاط ويكون النشاط بدافع ذاتي محققاً بذلك الأهداف الوجدانية .

ومقارنة بالكتب السابقة فإن هذا الكتاب وما يرافقه من كتاب التمارين ودليل المعلم يهتم اهتماماً كبيراً بالمفاهيم الأساسية إلى جانب تقديمه معارف سليمة ومراعاته انسجام الموضوعات مع عمليات التعلم الطبيعي للطلبة كما تحفز المدرسين على ابتكار أساليب تدريس جديدة بما يضمن لطلبتهم تعلماً فاعلاً .

ومن أهم أهداف وزارة التربية والتعليم والبحث العلمي أن يظل التطوير في نمو وتطور مستمرين، بمتابعة كل جديد في تدريس الرياضيات وهذا لا يأتي إلا بالاستفادة من واقع التطبيق في الميدان التدريسي. فإذا راعينا كل المبادئ المذكورة أعلاه بقدر ما وفقنا المولى عز وجل بإعداد هذه المواد التربوية في ضوء استراتيجيات تهدف إلى تقديم الأجود، مادة وطريقة . . فإننا ننظر بشوق بالغ أن يوافينا كافة ذوي العلاقة بملاحظاتهم بغية الاستفادة منها.

نسأل المولى العلي القدير أن نكون قد وفقنا في كل ما نصبو إليه فهو ولي التوفيق والهادي إلى سواء السبيل.

فريق التطوير

http://Yaman.E-learning-moe.edu.ye

المحتويات

الموضوع	الصفحة
الوحدة الأولى : المنطق الرياضي	**٧**
١ – ١ القضية المنطقية ونفيها	٧
١ – ٢ القضايا المركبة وأدوات الربط	٩
١ – ٣ التكافؤ المنطقي	١٦
١ – ٤ الاقتضاء المنطقي	٢٠
١ – ٥ المسورات	٢٢
الوحدة الثانية : التطبيقات	**٢٧**
٢ – ١ مراجعة	٢٧
٢ – ٢ الصورة العكسية للتطبيق (معكوس التطبيق)	٣١
٢ – ٣ أنواع التطبيقات	٣٥
٢ – ٤ التطبيق العكسي	٤١
٢ – ٥ تركيب تطبيقين	٤٤
الوحدة الثالثة : القوى والجذور	**٤٨**
٣ – ١ القوى	٤٨
٣ – ٢ الجذور والأسس النسبية	٥٤
٣ – ٣ تبسيط الجذور	٦٢
٣ – ٤ جمع وطرح الجذور	٦٥
٣ – ٥ ضرب وقسمة الجذور	٦٨
٣ – ٦ حل المعادلات الأسية والجذرية	٧٣
الوحدة الرابعة : الحدوديات	**٧٨**
٤ – ١ الصورة العامة للحدودية في متغير	٧٨

http://E-learning-moe.edu.ye

تابع المحتويات

الموضـــــوع		الصفحة
٤ – ٢	العمليات الأربع على الحدوديات	٨٠
٤ – ٣	مبرهنتا الباقي والعامل	٨٨
٤ – ٤	أصفار الحدودية	٩٢
الوحدة الخامسة : البنى الجبريـــة		**٩٦**
٥ – ١	العمليات الثنائية	٩٦
٥ – ٢	خواص العملية الثنائية	١٠٠
٥ – ٣	النظام الرياضي	١٠٨
٥ – ٤	الزمرة	١١٠

http://Yaman.E-learning-moe.edu.ye

١ : ١ القضية المنطقية ونفيها

من دراستك لقواعد اللغة العربية ، تعلم أن الجمل في اللغة نوعان :

جمل إنشائية . مثل : لاتهمل دروسك .
ارسم مثلثاً متساوي الساقين .
في أي دولة يقع المسجد الأقصى ؟

جمل خبرية . مثل : اليمن دولة عربية .
الصلاة ركن من أركان الاسلام .
دمشق عاصمة الأردن .

تأمل الجمل السابقة بنوعيها تجد أن جميعها مفيدة ، وفي النوع الأول تجد جملتين طلبيتين ، تليهما جملة استفهامية ، لايمكن وصف مدلول أي منها بالصواب أو الخطأ . أما في النوع الآخر (الجمل الخبرية) فنجد ثلاث جمل كلٌ منها يحمل معنى يمكن أن يوصف بأنه صائب أو خاطئ ، لذلك نسمي كلاً منها قضية منطقية .

تعريف (١ : ١)

القضية المنطقية هي جملة خبرية مفيدة يحتمل معناها الصواب أو الخطأ وليس كليهما معاً .

نستخدم لفظ « قضية » لنعني به « قضية منطقية » .

مثال (١ - ١) ميز فيما يأتي القضايا من الجمل :

١) تعز مدينة في اليمن .
٢) ٥ + ٤ = ٧ .
٣) لا تؤجل عمل اليوم إلى الغد .
٤) هل أتممت دراستك ؟
٥) السماء صافية .

الحـــل

١) قضية صائبة .
٢) قضية خاطئة .

٣) ليست قضية لأنها جملة طلبية .
٤) ليست قضية لأنها جملة استفهامية .
٥) قضية يمكن أن تكون صائبة أو خاطئة حسب واقع الحال .

نرمز عادة لقضية ما بحرف ، فنقول القضية أ ، والقضية ب ، والقضية جـ ، وهكذا . وإذا سلمنا أن أ قضيـــة ما فإما أن تكون صائبة، ونرمز لقيمة صوابها بالرمز (ص) أو تكون خاطئة ، ونرمز لقيمة خطئها بالرمز (خ) .

أ
ص
خ

جدول (١ – ١)

ويسمى صواب أو خطأ القضية أ بقيمتي صواب القضية أ .

نلخص ما سبق في الجدول (١–١) الذي يسمى جدول صواب القضية أ .

نفي القضية :

لنرمز للقضية « الجو ممطر » بالرمز أ . وللقضية « ليس الجو ممطراً » بالرمز ب ، ونعلم أنه لايمكن أن يكون الجو ممطر وغير ممطر في نفس الوقت ، لذلك عندما نتحقق من واقع الحال سنجد أحد الاحتمالين :

– إما القضية أ صائبة وعندئذ تكون القضية ب خاطئة .
– أو القضية أ خاطئة وعندئذ تكون القضية ب صائبة .

بمعنى أن قيم الصواب للقضيتين أ ، ب متعاكسة ، لذلك نقول أن كلاً منهما نفي للأخرى . فإذا بدأنا بالقضية أ فتكون القضية ب نفي القضية أ ونعبر عنها بالرمز « ~ أ » ، وتقرأ (نفي أ) أو (ليس أ) ، حيث « ~ » هو رمز النفي ، ويقرأ « نفي » أو « ليس » .

أ	~ أ
ص	خ
خ	ص

جدول (١ – ٢)

نلخص ما سبق في الجدول (١ – ٢) ، الذي يسمى جدول صواب القضية أ ونفيها .

مثال (١ – ٢) أنفِ كلاً من القضايا التالية :

١) بيروت عاصمة لبنان .
٢) زوايا المربع ليست قائمة .
٣) يقع المسجد النبوي في مكة المكرمة .
٤) ٧ ∋ ط .
٥) ٢ + ٣ = ٤ .
٦) ٩ > ٥ .

الحـــل

١) ليس صحيحاً أن بيروت عاصمة لبنان . أو بيروت ليست عاصمة لبنان .
٢) زوايا المربع قائمة .
٣) لا يقع المسجد النبوي في مكة المكرمة .
٤) ٧ ∌ ط .
٥) ٢ + ٣ ≠ ٤ .
٦) ٩ ≯ ٥ أو ٩ ≯ ٥ .

http://Yaman.E-learning-moe.edu.ye

تمارين ومسائل (١ - ١)

[١] ميز القضايا من الجمل الآتية ، مع ذكر السبب عندما لا تكون الجملة قضية :

١ – صنعاء عاصمة اليمن .
٢ – مجموعة الأعداد الطبيعية منتهية .
٣ – متى أعيد بناء سد مأرب ؟
٤ – اكتب الكسر ٠,٢ في صورة عدد نسبي .
٥ – ما أجمل مناخ مدينة إب !
٦ – $\frac{١}{٥} \in ص$.
٧ – يحتل الوطن العربي موقعاً إستراتيجياً .
٨ – لايكلف الله نفساً الأ وسعها .
٩ – أحل الله البيع وحرَّم الربا .
١٠ – جدّة ميناء على البحر الأحمر .

[٢] إنفِ كلاً من القضايا التالية ، وبين قيمة صواب كل قضية ونفيها :

١ – القاهرة عاصمة العراق .
٢ – عدد سكان اليمن أقل من عشرين مليون .
٣ – أضلاع المعين متساوية في الطول .
٤ – لايقبل العدد ٥ القسمة على ٢ .
٥ – قطرا متوازي الأضلاع متناصفان .
٦ – $-٢ \notin ط$.
٧ – $٣ > ٧$.
٨ – $٢٥ = ٢٥$.
٩ – المثلث المتساوي الأضلاع قائم الزاوية .

١ : ٢ القضايا المركبة وادوات الربط

تأمل القضايا التالية :

أ : عندي كتاب

ب : عندي قلم

جـ : عندي كتاب وعندي قلم .

تجد أن كلاً من القضيتين أ ، ب تحمل خبراً واحداً فقط ، لذلك نسمي كلاً منهما « قضية بسيطة » أما القضية جـ فهي مركبة من القضيتين أ ، ب يربط بينهما حرف العطف « و » الذي نسميه هنا أداة ربط ، لذلك نقول أن القضية جـ « قضية مركبة » والقضيتين أ ، ب مركباتها .

تُركب الجمل باللغة بأدوات ربط كثيرة ، منها : (و) ، (أو)، (لأن) ، (لكن) ، (إذا كان ... فإن) ، (... إذا وفقط إذا ....) . وقد يستخدم الرابط الواحد لعدة معانٍ مما قد يؤدي إلى الالتباس والإبهام . لذا سنستخدم في تركيب القضايا المنطقية عدداً قليلاً من أدوات الربط ، بحيث لايعطي الرابط الواحد إلاّ معنى واحداً فقط . وأدوات الربط التي سنستخدمها في هذه الوحدة هي :

حرف العطف « و » ويرمز له بالرمز « ∧ » ، حرف العطف « أو » ويرمز له بالرمز « ∨ »

أداة الشرط « إذا كان ... فإن » ويرمز له بالرمز « ← »،أداة الشرط « ... إذا وفقط إذا ... » ويرمز له بالرمز « ↔ ».

http://E-learning-moe.edu.ye

ومن أمثلة القضايا المركبة :

١) القمر تابع للأرض وهو أصغر منها . ٢) أ ب جـ مثلث قائم الزاوية أو متساوي الساقين .

٣) إذا مرض الشخص فإنه يذهب إلى الطبيب .

٤) يكون الشكل الرباعي متوازي أضلاع إذا وفقط إذا كان مجموع قياسي زاويتين غير متجاورتين فيه ١٨٠° .

يلاحظ من الأمثلة السابقة أن كل قضية من القضايا الأربع مركبة من قضيتين بسيطتين ، رُبط بينهما بإحدى أدوات الربط . فإذا أخذنا على سبيل المثال القضية المركبة (١) ورمزنا للقضية البسيطة الأولى منها (القمر تابع للأرض) بالرمز أ ، وللقضية البسيطة الأخرى « القمر أصغر من الأرض » بالرمز ب ، فإن القضية المركبة (١) يعبر عنها رمزياً أ ∧ ب ، وبالمثل في كل من القضايا المركبة (٢)، (٣)،(٤) إذا رمزنا للقضية البسيطة الأولى بالرمز أ ، وللقضية البسيطة الأخرى بالرمز ب ، فإن التعبير الرمزي للقضايا الثلاث يكون كما يلي :

٢) أ ∨ ب ٣) أ ← ب ٤) أ ↔ ب .

إن غاية دراسة القضايا المركبة هي تحديد قيم صواب قضية انطلاقاً من قيم صواب القضايا الداخلة في تركيبها، والأداة الأساس لتحقيق تلك الغاية هي ما يطلق عليه جداول الصواب .

لتكن أ ، ب قضيتين بسيطتين مختلفتين ، ونعلم أن لكل قضية منفردة قيمتي صواب محتملتين (ص أو خ) ولتحديد قيم الصواب المختلفة للقضية المركبة من القضيتين أ ، ب لابد من استعراض الحالات (الإمكانات) المختلفة لقيم صواب المركبة أ وقيم صواب المركبة ب وهي :

الحالة الأولى : أن تكون أ صائبة ، ب صائبة . الحالة الثانية : أن تكون أ صائبة ، ب خاطئة .

الحالة الثالثة : أن تكون أ خاطئة ، ب صائبة . الحالة الرابعة : أن تكون أ خاطئة ، ب خاطئة .

ونلخص ما سبق في الجدول (١ – ٣) .

إن الفكرة التي بني عليها الجدول (١–٣) سنعتمدها أساساً لإنشاء جدول صواب أي قضية مركبة من قضيتين بسيطتين . لاحظ أن عدد الحالات الممكنة لقيم صواب قضية مركبة من قضيتين يساوى (٢)^{٢} = ٤ حالات .

أما عندما يكون عدد القضايا البسيطة الداخلة في تركيب (قضية) هو ثلاث قضايا مثل أ ، ب ، جـ فإن عدد الحالات الممكنة لقيم الصواب = ٢^{٣} = ٨ حالات ، نبينها في الجدول (١ – ٤) :

أ	ب
ص	ص
ص	خ
خ	ص
خ	خ

جدول (١ – ٣)

أ	ب	جـ
ص	ص	ص
ص	ص	خ
ص	خ	ص
ص	خ	خ
خ	ص	ص
خ	ص	خ
خ	خ	ص
خ	خ	خ

جدول (١ – ٤)

وبصورة عامة : يكون عدد إمكانات قيم صواب قضية مركبة من ن من القضايا البسيطة يساوى (٢^{ن}) .

http://Yaman.E-learning-moe.edu.ye

٢) القضية المركبة بأداة الربط «و» :

تعلم مما سبق أن القضية المركبة من القضيتين ا ، ب بأداة الربط «و» هي القضية ا و ب ، وتكتب رمزياً ا ∧ ب .

متى تكون القضية (ا ∧ ب) صائبة ؟

قبل الإجابة عن السؤال لنعتبر القول الآتي الذي أخبرنا به أيمن عن أخيه أشرف : استيقظ أشرف مبكراً وذهب إلى مدرسته .

ونبحث معاً متى يكون أيمن صادقاً في قوله هذا : من الواضح أن أيمن يكون صادقاً في قوله إذا كان أشرف قد استقيظ مبكراً وذهب إلى مدرسته فعلاً، ولكن أيمن ل ايكون صادقاً في قوله في أيٍ من الحالات الاتية :

استيقظ أشرف مبكراً ولكنه لم يذهب إلى مدرسته .

لم يستيقظ أشرف مبكراً ولكنه ذهب إلى مدرسته .

لم يستيقظ أشرف مبكراً ولم يذهب إلى مدرسته .

وعليه :

القضية (ا ∧ ب) تكون صائبة فقط عندما تكون كلٌ من ا ، ب صائبتين معاً .

ا	ب	ا ∧ ب
ص	ص	ص
ص	خ	خ
خ	ص	خ
خ	خ	خ

جدول (١ – ٥)

وقد اتفق على أن يكون جدول صواب القضية (ا ∧ ب) كما في الجدول (١ – ٥) :

مثال (١ – ٣)

لتكن ف ، وهـ قضيتين بسيطتين بحيث :

ف : العدد ٣ يقسم العدد ٩ .

وهـ : الهواء ضروري للحياة .

فبين قيم صواب كلٍ من القضيتين المركبتين التاليتين : ١) ف ∧ وهـ . ٢) ف ∧ ~ وهـ .

الحـــل

١) حيث إن كلاً من ف ، وهـ قضية صائبة فإن القضية المركبة (ف ∧ وهـ) صائبة .

٢) لاحظ أولاً أن ~ وهـ (الهواء ليس ضرورياً للحياة)هي قضية خاطئة ، لذلك فالقضية المركبة (ف ∧ ~ وهـ) خاطئة لأن إحدى مركبتيها خاطئة .

ب) القضية المركبة بأداة الربط « أو » :

أداة العطف « أو » تستخدم بمعنى التخيير كما في الجملة « خالد في صنعاء أو في تعز » والتي تستبعد أن يكون خالد في صنعاء وفي تعز في الوقت ذاته، أي أن صحة إحدى مركبتي القضية ، تستبعد أن تكون المركبة الأخرى لها صائبة.

http://E-learning-moe.edu.ye

فإذا كانت أ ، ب قضيتين مختلفتين فإن قيم صواب القضية المركبة (أ ∨ ب) تعطى بالجدول (١–٦) .

من الجدول (١ – ٦) نلاحظ أن :

القضية (أ ∨ ب) تكون خاطئة فقط عندما تكون أ ، ب خاطئتين معاً .

أ	ب	أ ∨ ب
ص	ص	ص
ص	خ	ص
خ	ص	ص
خ	خ	خ

جدول (١ – ٦)

مثال (١ – ٤) لتكن أ ، ب ، جـ قضايا بسيطة بحيث :

أ : بغداد عاصمة العراق .

ب : للمثلث أربعة أضلاع .

جـ : أبو بكر الصديق أول الخلفاء الراشدين .

اذكر قيم الصواب لكلٍ من القضايا المركبة التالية :

١) أ ∨ جـ ٢) أ ∨ ب ٣) ~ أ ∨ ب .

الحـــل

١) صائبة لأن كلاً من أ ، جـ صائبة . ٢) صائبة لأن أ صائبة .

٣) خاطئة لأن كلاً من ~ أ ، ب خاطئة .

مثال (١ – ٥) لتكن ف ، هـ ، ك ثلاث قضايا بسيطة بحيث أن :

كل من ف ، ك صائبة ، هـ خاطئة .

اذكر قيمة صواب كلٍ من القضايا المركبة التالية :

١) ف ∧ هـ ٢) ف ∨ هـ ٣) هـ ∧ ك

٤) ف ∧ ك ٥) ف ∨ ك ٦) هـ ∨ ك .

الحـــل

١) خاطئة لأن هـ خاطئة . ٢) صائبة لأن ف صائبة .

٣) خاطئة لأن هـ خاطئة . ٤) صائبة لأن كلاً من ف ، ك صائبة .

٥) صائبة . لماذا ؟ . ٦) صائبة لأن ك صائبة .

جـ) القضية الشرطية « إذا كان .... فإن .... »

نستعمل في اللغة بصفةٍ عامة وفي الرياضيات بصفةخاصة الكثير من التراكيب الشرطية التي تتكون من جملتين تربط بينهما أداة الشرط « إذا كان .... فإن .... » .

وعندما تكون الجملتان المكونتان لهذا التركيب الشرطي قضيتين ، فإننا نسمي مثل هذا التركيب قضية شرطية .

فمثلاً القضية « إذا كان س ص ع مثلثاً فإن مجموع قياسات زواياه الداخلية ١٨٠° » هي قضية شرطية .

http://Yaman.E-learning-moe.edu.ye

وإذا رمزنا للقضية « س ص ع مثلث » بالرمز أ ، وللقضية « مجموع قياسات زوايا المثلث الداخلية ١٨٠° » بالرمز ب فإن القضية الشرطية تأخذ الشكل الرمزي التالي : أ ← ب .

وتقرأ إذا كانت أ فإن ب ، وتسمى أ المقدمة (أو الشرط) وتسمى ب النتيجة (أو جواب الشرط) .

سوف نتعرف على جدول صواب القضية الشرطية (أ ← ب) بعد المثال التمهيدي التالي :

مثال (١ - ٦) قال رجل لولده : إذا نجحت في الامتحان فسأقدم لك هدية .

إن قول الوالد هو قضية شرطية ، ولمعرفة قيم صوابها سوف نستعرض الحالات المختلفة التالية :

١ – نجح الولد في الامتحان وقدم الوالد له هدية . صدق الوالد وعده (القضية صائبة) .

٢ – نجح الولد في الامتحان ولم يقدم الوالد له هدية . لم يصدق الوالد وعده (القضية خاطئة) .

٣ – لم ينجح الولد في الامتحان وقدم الوالد له هدية . صدق الوالد وعده (القضية صائبة) .

٤ – لم ينجح الولد في الامتحان ولم يقدم الوالد له هدية . صدق الوالد وعده (القضية صائبة) .

لاحظ أننا في الحالة (٤) قلنا أن الوالد صدق وعده ، بالرغم من أن الولد لم ينجح في الامتحان ، ذلك لأننا لم نجد في قوله ما يلزمه بعدم تقديم هدية لابنه إذا هو لم ينجح .

وبصورة عامة لأي قضيتين أ ، ب تكون قيم صواب القضية الشرطية أ ← ب كما يبينها الجدول (١–٧) التالي والذي يسمى جدول صواب القضية أ ← ب :

أ	ب	أ ← ب
ص	ص	ص
ص	خ	خ
خ	ص	ص
خ	خ	ص

جدول (١ – ٧)

من الجدول (١ – ٧) نلاحظ أن :

القضية أ ← ب تكون خاطئة فقط عندما تكون أ صائبة و ب خاطئة .

مثال (١ - ٧) اكتب قيمة صواب كلٍ من القضايا الشرطية التالية :

١) إذا كان ٥ + ٧ = ١٠ فإن ٤ × ٤ = ٨

٢) إذا كان ٥ + ٧ = ١٠ فإن ٤ × ٤ = ١٦

٣) إذا كان ٥ + ٧ = ١٢ فإن ٤ × ٤ = ٨

٤) إذا كان ٥ + ٧ = ١٢ فإن ٤ × ٤ = ١٦

الحـــل

١) صائبة لأن الشرط خاطئ « انظر السطر الرابع من الجدول (١–٧) » .

٢) صائبة لأن الشرط خاطئ .

٣) صائبة لأن الشرط وجوابه صائبين .

٤) خاطئة لأن الشرط صائب وجوابه خاطئ .

مثال (١ - ٨) لتكن أ ، ب ، جـ ثلاث قضايا معرفة كما يلي :

أ : $٢^{٣} + ٥ = ١٣$ ، ب : ٧٢ > ٢٧ ، جـ : القمر أصغر حجماً من الأرض .

فبين قيمة صواب كلٍ من القضايا الشرطية التالية :

١) أ ← ب ٢) أ ← جـ ٣) ب ← أ ٤) جـ ← أ .

http://E-learning-moe.edu.ye

الحـــل

١) خاطئة لأن ا صائبة و ب خاطئة .
٢) صائبة لأن كلاً من ا ، جـ صائبة .
٣) صائبة لأن ب خاطئة و ا صائبة .
٤) صائبة لماذا ؟

د) القضية الشرطية « .... إذا وفقط إذا .... »

لتكن (ا ← ب) قضية شرطية و (ب ← ا) معكوسها ، وإذا ربطنا بين هاتين القضيتين الشرطيتين بأداة الربط « ∧ » سنحصل على القضية المركبة [(ا ← ب) ∧ (ب ← ا)] والتي يرمز لها بالرمز (ا ↔ ب)، وتقرأ « ا إذا وفقط إذا ب » تسمى القضية (ا ↔ ب) قضية شرطية مزدوجة .

أن قيم صواب القضية (ا ↔ ب) تعتمد على قيم صواب القضية (ا ← ب) ومعكوسها (ب ← ا) إضافة إلى قيم صواب القضية المركبة بأداة الربط ∧ . والجدول (١ – ٨) التالي يبين ذلك :

ا	ب	ا ← ب	ب ← ا	(ا ← ب) ∧ (ب ← ا) ا ↔ ب
ص	ص	ص	ص	ص
ص	خ	خ	ص	خ
خ	ص	ص	خ	خ
خ	خ	ص	ص	ص

جدول (١ – ٨)

يتضح من الجدول (١–٨)

إن القضية الشرطية المزدوجة (ا ↔ ب) تكون صائبة عندما تكون القضيتان ا ، ب صائبتين معاً أو خاطئتين معاً ، وتكون خاطئة عندما تكون إحدى القضيتين ا أو ب صائبة والأخرى خاطئة .

مثال (١ – ٩) لتكن ا : ٢ × ٣ = ٥ ، ب : ٢ + ٣ = ٦ ، جـ : ٣ عدداً أولياً .

فبين قيمة صواب كلٍ من القضايا التالية :

١) ا ↔ ب . ٢) ا ↔ جـ . ٣) ~ ب ↔ جـ .

الحـــل

١) صائبة لأن كلاً من ا ، ب خاطئة .
٢) خاطئة لأن ا خاطئة و جـ صائبة .
٣) صائبة لأن ~ ب صائبة و جـ صائبة .

http://Yaman.E-learning-moe.edu.ye

تمارين ومسائل (١ - ٢)

[١] بين مركبات كلٍ من القضايا المركبة الآتية وأداة الربط في كلٍ منها :

١) الجو ليس حاراً والرطوبة عالية .
٢) السودان دولة أفريقية أو سوريا دولة غير أسيوية .
٣) الدب حيوان آكل للحوم أو آكل للنبات .
٤) في الصباح تشرق الشمس وتنفتح الزهور وتغرد الطيور .
٥) كان الخيام شاعراً وكان الخوارزمي طبيباً .
٦) تقع مدينة الخرطوم على نهر النيل أو ٦ < ٨ .
٧) إذا كانت أضلاع المثلث متساوية في الطول فإن زواياه متساوية في القياس .
٨) تتقدم الأمم إذا وفقط إذا أخذت بالعلم .

[٢] إذا كانت أ ترمز للقضية « نزل المطر » ، ب ترمز للقضية « اخضرّت الأرض » ، فاكتب قضايا وصفية للقضايا الرمزية الآتية :

١) أ ∧ ب .
٢) أ ∨ ب .
٣ - أ ∨ ~ ب .
٤) ~ أ ∧ ~ ب .
٥) أ ↔ ب .

[٣] عيّن قيمة صواب كلٍ من القضايا المركبة الآتية :

١) الشمس كوكب و ٣ + ٤ = ٧ .
٢) القمر كوكب أو ٢ + ١ = ٦ .
٣) الصفر هو العنصر المحايد الجمعي أو تعز عاصمة اليمن .
٤) الأكسجين غاز و ٤ ≤ ٥ .
٥) إذا كانت زوايا المستطيل قائمة فإن زوايا المربع حادة .
٦) سلوى أخت أشرف إذا وفقط إذا كان أشرف أخا سلوى .

[٤] أكمل القضايا التالية ما يجعلها صائبة :

١) ٥٤ عدد صحيح ويقبل القسمة على العدد ... .
٢) ٢ + ٧ = ٤ أو ٢ × ٧ = ...
٣) ١٠ > ٨ ← ٩ > ..... .
٤) ٢ + ٣ ≠ ٥ ↔ ٢ + ٢ ≠ ... .

[٥] أنشئ جداول صواب القضايا التالية :

١) أ ∧ ~ ب .
٢) ~ (أ ∨ ب) .
٣) ~ أ ← ب .
٤) أ ← ~ ب .

[٦] أكمل جدول الصواب التالي : ثم قارن بين العمودين الخامس ، والسابع . ماذا تستنتج ؟

أ	ب	جـ	ب ∧ جـ	أ ∧ (ب ∧ جـ)	أ ∧ ب	(أ ∧ ب) ∧ جـ
ص	ص	ص				
ص	ص	خ				
ص	خ	ص				
ص	خ	خ				
خ	ص	ص				
خ	ص	خ				
خ	خ	ص				
خ	خ	خ				

جدول (١ - ٩)

http://E-learning-moe.edu.ye

١ : ٣ التكافؤ المنطقي للقضايا

تأمل جدول الصواب (١ – ١٠) الآتي :

أ	~ أ	~(~ أ)
ص	خ	ص
خ	ص	خ

جدول (١ – ١٠)

بمقارنة قيم صواب القضيتين أ ، ~(~ أ) [العمودان الأول والثالث من الجدول (١ – ١٠)] نجد أن للقضيتين قيم الصواب نفسها . أي أنه عندما تكون أ صائبة تكون ~(~ أ) صائبة ، وعندما تكون أ خاطئة تكون ~(~ أ)خاطئة .

لذلك نقول أن القضيتين أ ، ~(~ أ) متكافئتان منطقياً ونكتب ~(~ أ) ≡ أ .

وبصورة عامة يُعَرَّف التكافؤ المنطقي على النحو التالي :

تعريف (١ : ٢)

يقال عن قضيتين م ، د أنهما متكافئتان منطقياً إذا كان لهما قيم الصواب نفسها . ونرمز لذلك بالرمز م ≡ د « وتقرأ م تكافئ د » .

مثال (١ – ١٠) بين أنه لأي قضيتين أ ، ب يكون : أ ∧ ب ≡ ب ∧ أ «١» .

الحل

ننشئ جدول الصواب للقضيتين (أ ∧ ب) ، (ب ∧ أ) كما يلي :

أ	ب	أ ∧ ب	ب ∧ أ
ص	ص	ص	ص
ص	خ	خ	خ
خ	ص	خ	خ
خ	خ	خ	خ

جدول (١ – ١١)

نلاحظ من الجدول(١ –١١) أن للقضيتين (أ ∧ ب) ، (ب ∧ أ) قيم الصواب نفسها (أنظر العمودين الأخيرين) وعليه فهما متكافئتان .

أي أن أ ∧ ب ≡ ب ∧ أ .

تدريب (١-٢) باستخدام فكرة المثال (١ – ١٠) ، بين أن : أ ∨ ب ≡ ب ∨ أ . «٢»

ملاحظة : تسمى العلاقة « ١ »خاصية الإبدال للرابط (∧) ، وتسمى العلاقة « ٢ » خاصية الإبدال للرابط (∨) .

مبرهنة (١ : ١)

لأي قضيتين أ ، ب :

١) ~ (أ ∧ ب) ≡ ~ أ ∨ ~ ب . ٢) ~ (أ ∨ ب) ≡ ~ أ ∧ ~ ب .

http://Yaman.E-learning-moe.edu.ye

البرهان : ١) ننشئ جدول صواب القضايا المعطاة في (١) كما يلي :

ا	ب	~ا	~ب	ا ∧ ب	~(ا ∧ ب)	~ا ∨ ~ب
ص	ص	خ	خ	ص	خ	خ
ص	خ	خ	ص	خ	ص	ص
خ	ص	ص	خ	خ	ص	ص
خ	خ	ص	ص	خ	ص	ص

≡

جدول (١ – ١٢)

من الجدول (١–١٢) نلاحظ أن للقضيتين ~(ا ∧ ب) ، ~ا ∨ ~ب قيم الصواب نفسها (انظر العمودين الأخيرين من الجدول) ، وعليه فهما متكافئتان .

٢) استخدم فكرة البرهان في (١) لبرهان تكافؤ القضيتين في (٢) .

مبرهنة (١ – ١) تعرف بقانوني دي مورجان .

مثال (١ – ١١) اكتب نفي كلٍّ من القضيتين التاليتين وبين قيمة صواب كلٍ منها بعد النفي :

١) أضلاع المعين متساوية في الطول وقطراه متعامدان . ٢) الأرض كوكب أو القمر نجم .

الحـــل ١) لنرمز للقضية البسيطة « أضلاع المعين متساوية في الطول » بالرمز ا ، وللقضية البسيطة « قطرا المعين متعامدان » بالرمز ب ، فتكون القضية المعطاة هي (ا ∧ ب) [وبحسب الفرع (١) من المبرهنة (١–١)] فإن نفي القضية المعطاة هي إحدى القضيتين المتكافئتين التاليتين :

~(ا ∧ ب) : ليس صحيحاً أن « أضلاع المعين متساوية في الطول وقطراه متعامدان » أو

~ا ∨ ~ب : أضلاع المعين ليست متساوية في الطول أو قطراه غير متعامدين .

٢) لنرمز للقضية البسيطة « الأرض كوكب » بالرمز ا ، وللقضية البسيطة « القمر نجم » بالرمز ب .

فتكون القضية المعطاة هي (ا ∨ ب) ونفيها [بحسب الفرع (٢) من المبرهنة (١–١)] هو إحدى القضيتين المتكافئتين التاليتين :

~(ا ∨ ب) : ليس صحيحاً أن « الأرض كوكب أو القمر نجم » أو

~ا ∧ ~ب : الأرض ليست كوكب والقمر ليس نجماً .

واضح أن كلاً من القضيتين (١) ، (٢) صائبة ، وعليه تكون نفي كلٍ منهما قضية خاطئة .

مبرهنة (١ : ٢)

لأي قضيتين ا ، ب :

١) ا ← ب ≡ ~ا ∨ ب ≡ ~ب ← ~ا . ٢) ~ (ا ← ب) ≡ ا ∧ ~ب .

http://E-learning-moe.edu.ye

البرهان : ١) ننشئ جدول صواب القضايا الثلاث كما يلي :

أ	ب	~أ	~ب	أ ← ب	~أ ∨ ب	~ب ← ~أ
ص	ص	خ	خ	ص	ص	ص
ص	خ	خ	ص	خ	خ	خ
خ	ص	ص	خ	ص	ص	ص
خ	خ	ص	ص	ص	ص	ص

جدول (١ – ١٣)

نلاحظ من الجدول (١–١٣) أن القضايا أ ← ب ، ~أ ∨ ب ، ~ب ← ~أ لهما قيم الصواب نفسها (انظر الأعمدة الثلاثة الأخيرة من الجدول (١–١٣) ، وعليه فإنها متكافئة .

٢) ∵ أ ← ب ≡ ~أ ∨ ب [الفرع (١) من المبرهنة (١ : ٢)] .

∴ ~(أ ← ب) ≡ ~(~أ ∨ ب) [نفي قضيتين متكافئتين] .

≡ ~(~أ) ∧ ~ب [الفرع (٢) من المبرهنة (١ : ١)] .

≡ أ ∧ ~ب [~(~أ) ≡ أ] .

أي أن : ~(أ ← ب) ≡ أ ∧ ~ب وهو المطلوب .

تـدريـب (٢–٢) أعد برهان الفرع (٢) من المبرهنة (١ : ٢) باستخدام جداول الصواب .

مثال (١ – ١٢) لتكن أ : ارتوت الأرض بالماء . ب : الزرع ينمو .

١) اكتب القضية (أ ← ب) بثلاث طرق متكافئة .

٢) اكتب نفي القضية(أ ← ب) بطريقتين متكافئتين .

الحـل

١) أ ← ب ≡ ~أ ∨ ب ≡ ~ب ← ~أ [الفرع (١) من المبرهنة (١ : ٢)] أي أن القضايا الثلاث الآتية متكافئة :

« إذا ارتوت الأرض بالماء فإن الزرع ينمو »

« لم ترتو الأرض بالماء أو الزرع ينمو »

« إذا لم ينمو الزرع فإن الأرض لم ترتو بالماء »

٢) ~(أ ← ب) ≡ أ ∧ ~ب [الفرع (٢) من المبرهنة (١ : ٢)] أي أن القضيتين التاليتين متكافئتان :

– ليس صحيحاً أنه « إذا أرتوت الأرض بالماء فإن الزرع ينمو » .

– ارتوت الأرض بالماء ولم ينمو الزرع .

http://Yaman.E-learning-moe.edu.ye

القضايا الصائبة منطقياً :

تعريف (١ : ٣)

يقال للقضية المركبة أنها صائبة منطقياً (أو تحصيل حاصل) إذا كانت صائبة دائماً مهما كانت قيم صواب مركباتها ، كما يقال لها خاطئة منطقياً (أو تناقض) إذا كانت خاطئة دائماً مهما كانت قيم صواب مركباتها .

مثال (١ - ١٣) باستخدام جدول الصواب ، أثبت أن القضية (أ ∨ ب) ← (~ أ ← ب) صائبة منطقياً .

الحـــل ننشئ جدول الصواب الآتي :

أ	ب	~أ	أ ∨ ب	~ أ ← ب	(أ ∨ ب) ← (~ أ ← ب)
ص	ص	خ	ص	ص	ص
ص	خ	خ	ص	ص	ص
خ	ص	ص	ص	ص	ص
خ	خ	ص	خ	خ	ص

جدول (١ - ١٤)

يلاحظ من الجدول (١-١٤) ، العمود الأخير أن قيم صواب القضية المعطاة هي صائبة دائماً ، وعليه فإنها صائبة منطقياً .

تمارين ومسائل (١-٣)

[١] لأية قضيتين أ ، ب أثبت أن :

١) (أ ∨ ب) ≡ (أ ← ب) ← ب .
٢) ~(~أ ∧ ~ب) ≡ أ ∨ ب .
٣) أ ← ب ≢ ب ← أ .
٤) ~(أ ← ب) ≢ ~أ ← ~ب .

[٢] انفِ كل قضية مما يأتي بطريقتين مختلفتين ، وعين قيمة صواب كلٍ منها قبل وبعد النفي .

١) السعودية دولة نفطية والخرطوم عاصمة سوريا . ٢) يدور القمر حول الأرض أو يدور حول نفسه .
٣) إذا زاد علم الإنسان زاد تواضعه .

[٣] لأية قضيتين أ ، ب بيّن أن كلاً من القضايا المركبة الآتية هي قضية صائبة منطقياً : (استخدم جداول الصواب) .

١) (أ ∧ ب) ← أ .
٢) أ ← أ ∨ ب .
٣) أ ∨ ~ (أ ∧ ب) .
٤) (أ ∧ ب) ← (أ ∨ ب) .

http://E-learning-moe.edu.ye

[٤] إذا كانت ا ، ب ، جـ ثلاث قضايا مختلفة فأثبت أن :

١) ا ∨ (ب ∨ جـ) ≡ (ا ∨ ب) ∨ جـ . ٢) ا ∨ (ب ∧ جـ) ≡ (ا ∨ ب) ∧ (ا ∨ جـ) .

٣) ا ∧ (ب ∨ جـ) ≡ (ا ∧ ب) ∨ (ا ∧ جـ) .

٤) [(ا ← ب) ∧ (ب ← جـ)] ← (ا ← جـ) صائبة منطقياً .

١ : ٤ الاقتضاء المنطقي

تعلم أن القضية الشرطية (ا ← ب) تكون خاطئة فقط عندما تكون ا صائبة و ب خاطئة ، وعليه إذا وجدنا قضية شرطية (ا ← ب) تتميز بأنها حيثما تكون ا صائبة تكون ب صائبة ، بمعنى أن (ا ← ب) صائبة منطقياً . فإننا نسمي هذه القضية الشرطية اقتضاءً منطقياً ، ونعبر عن هذا الاقتضاء رمزياً كما يلي : ا ⇐ ب .

ونقرأ ا تقتضي ب .

تعريف (١ : ٤)

لأية قضيتين ا ، ب نقول أن ا تقتضي ب (ونكتب ا ⇐ ب) إذا كانت القضية ا ← ب صائبة منطقياً .

ملاحظات :

١) إذا كانت القضية (ا ← ب) ليست صائبة منطقياً فمعنى ذلك أن ا لاتقتضي ب ونكتب (ا ⇍ ب) .

٢) إذا كان ا ⇐ ب ، ب ⇐ ا فإننا نكتب ذلك رمزياً ا ⇔ ب (ونقرأ ا شرط ضروري وكافٍ لـ ب)

وفي هذه الحالة يكون للرمزين ⇔ ، ≡ نفس المعنى الرياضي .

٣) إذا كان ا ⇐ ب بينما ب ⇍ ا عندئذٍ نكتب ا ⇍ ب (ونقرأ ا لايكافئ ب) .

بعض طرق البرهان الرياضي :

يلعب مفهوم الاقتضاء دوراً هاماً في الرياضيات ، إذ يشكل أساساً للعديد من أساليب البرهان الرياضي ، فيما يلي نتناول منها أسلوبين :

١) طريقة البرهان المباشر : إن الفكرة الأساسية التي يعتمد عليها الأسلوب المباشر للبرهان هي أن علاقة الاقتضاء « ⇐ » هي علاقة متعدية ، أي أن لأي ثلاث قضايا ا ، ب ، جـ :

[(ا ⇐ ب) ∧ (ب ⇐ جـ)] ⇐ (ا ⇐ جـ) .

وفي هذه الطريقة نبدأ بافتراض صحة المقدمة (الشرط ا) لنستنتج بطريقة منطقية صحة النتيجة الأولى ب، وهكذا حتى نصل إلى صحة النتيجة المطلوبة .

مثال (١ - ١٤) برهن أن : إذا كان س عدداً فردياً فإن س٢ عدد فردي ، علماً بأن العدد الفردي ممكن كتابته على الصورة: ٢ د + ١ ، د ∈ صـ .

http://Yaman.E-learning-moe.edu.ye

البرهان : نقوم بإثبات أن إذا كان س عدد فردي ⟸ س^{٢} عدد فردي كما يلي :

∴ س عدد فردي ⟸ س = ٢ د + ١ ، د ∈ صـ .

⟸ س^{٢} = (٢ د + ١)^{٢} بالتربيع للطرفين

⟸ س^{٢} = ٤ د^{٢} + ٤ د + ١

⟸ س^{٢} = ٢ (٢ د^{٢} + ٢ د) + ١

⟸ س^{٢} = ٢ م + ١ ، م = (٢ د^{٢} + ٢ د) ∈ صـ .

⟸ س^{٢} عدد فردي .

أي أن س عدد فردي ⟸ س^{٢} عدد فردي وهو المطلوب .

ب) طريقة نقض الفرض : وهي إحدى طرق البرهان غير المباشر .

إن الأساس النظري لهذه الطريقة هو ما برهناه في المبرهنة (١-٢) من أن : أ ← ب ≡ ~ ب ← ~ أ .

وبما أن الاقتضاء (أ ⟸ ب) يتحقق عندما تكون (أ ← ب) صائبة منطقياً ، فإن الاقتضاء ~ ب ⟸ ~ أ يتحقق عندما تكون (~ ب ← ~ أ) صائبة منطقياً .

وتتلخص خطوات البرهان بطريقة نقض الفرض بما يلي :

لإثبات أن صواب الشرط أ يقتضي صواب النتيجة ب ، نفرض أن ب خاطئة (أي أن ~ ب صائبة) رغم صواب أ ، فننطلق من (~ ب) وبطرق مباشرة متتالية حتى إذا توصلنا إلى أن ~ أ صائبة (أي أن أ خاطئة) وهذا يناقض ما فرضناه سلفاً أن أ صائبة ، وهذا التناقض يُعزى إلى خطأ الفرض بأن ب خاطئة . فنستنتج أن ب صائبة .

مثال (١ - ١٥) أثبت أن : إذا كان س^{٢} عدداً زوجياً فإن س عدد زوجي .

البرهان : سنبرهن المطلوب باستخدام طريقة نقض الفرض .

نفرض أن س^{٢} عدد زوجي ، س عدد فردي .

س عدد فردي ⟸ س = ٢ د + ١ ، د ∈ صـ ومن المثال (١-١٤) نجد أن :

س عدد فردي ⟸ س^{٢} عدد فردي، وهذا يناقض الفرض س^{٢} عدد زوجي ، وهذا التناقض نتج عن خطأ الفرض (س عدد فردي) إذاً نفي (الفرض) صواب . أي أن س عدد زوجي وهو المطلوب .

تمارين ومسائل (١ - ٤)

[١] أكمل ما يلي بوضع أحد الرمزين (⟸) أو (⟸̸) في الفراغ المناسب :

١) أ ب جـ مربع ... أ ب جـ مستطيل . ٢) س ∈ ط .... س ∈ صـ .

٣) أ عدد زوجي ... أ يقبل القسمة على ٢ .

٤) أ ب جـ مثلث متساوي الساقين ... أ ب جـ مثلث متساوي الأضلاع .

٥) س^{٢} = ٤ .... س = -٢ .

http://E-learning-moe.edu.ye

[٢] بين ما إذا كان يمكننا كتابة ما يلي ، وعلل إجابتك :

١) س = ٢ ⇐ س^{٣} = ٨ .
٢) س = ٢ ⇔ س^{٣} = ٨ .
٣) س > ٠ ⇐ س^{٢} > ٠ .
٤) س > ٠ ⇏ س^{٢} > ٠

[٣] لأي قضيتين أ ، ب بين أن :

١) (أ ∧ ب) ⇐ ب .
٢) [(أ ∨ ب) ∧ ~ ب] ⇐ أ .
٣) [(أ ∨ ب) ∧ ~ أ] ⇐ ب .
٤) [(أ ← ب) ∧ أ] ⇐ ب .
٥) (أ ↔ ب) ⇐ (أ ← ب) .

[٤] باستخدام طريقة البرهان المباشر ، أثبت أن :

١) س = ٣ ⇐ س^{٢} = ٩ .
٢) س = ٥ ⇔ س^{٣} = ١٢٥ .

[٥] أثبت بطريقة نقض الفرض أن : س^{٢} عدد فردي ⇐ س عدد فردي .

١ : ٥ المسوَّرات

علمت من دراستك في المرحلة الأساسية أن :

الجملة المفتوحة : هي جملة خبرية تتضمن متغيراً أو أكثر .

وفي البند (١ : ١) من هذه الوحدة عرّفنا القضية المنطقية بأنها جملة خبرية يحتمل معناها الصواب أو الخطأ وليس كليهما معاً .

في ضوء ما سبق تأمل الجمل الآتية :

١) س عدد طبيعي أصغر من ٥ .
٢) ص + ع = ٣ حيث ص ، ع ∈ ص .
٣) .... أحد الخلفاء الراشدين .

تجد أن كلاً منها جملة مفتوحة ، لكنها ليست قضية في وضعها الراهن ، وعندما نعوض عن س بالعدد ٣ مثلاً ، تصبح (١) « ٣ عدد طبيعي أصغر من ٥ » قضية صائبة .

أما عندما س = ٦ تصبح (١) « ٦ عدد طبيعي أصغر من ٥ » قضية خاطئة .

بالمثل لو عوضنا عن ص = ٢ ، ع = ١ في (٢) نحصل على « ٢ + ١ = ٣ » قضية صائبة بينما ص = ع = ٢ تجعل (٢) قضية خاطئة .

كذلك الجملة (٣) تتحول إلى قضية صائبة إذا وضعنا أيّاً من الأسماء (أبو بكر ، عمر ، عثمان ، علي) بدلاً عن .... ، وتكون خاطئة فيما عدا ذلك .

في كلٍ من الجمل الثلاث السابقة نجد متغيراً أو متغيرين هي عناصر من مجموعة تسمى مجموعة التعويض ، وعندما نعوض في الجملة بعنصر من مجموعة التعويض الخاصة بهذا المتغير نحصل على قضية .

لذلك يمكن إعادة تعريف الجملة المفتوحة كما يلي :

http://Yaman.E-learning-moe.edu.ye

تعريف (١ : ٥)

الجملة المفتوحة هي جملة خبرية تتضمن متغيراً أو أكثر ، وتتحول إلى قضية عندما نعوّض عن كل متغير بعنصر من مجموعة التعويض .

تسمى مجموعة العناصر التي يأخذها المتغير من مجموعة التعويض وتحقق الجملة المفتوحة (تحولها إلى قضية صائبة) مجموعة الحل .

تستخدم الرموز م (س) ، هـ (س) ، ق (س) ، ... لتدل على جمل مفتوحة تحتوي على المتغير س .

فنكتب مثلاً : م (س) = س^{٢} − س − ٦ = ٠ ، س ∈ ح

لتدل على الجملة المفتوحة س^{٢} − س − ٦ = ٠ ، س ∈ ح .

فيما يلي سوف نتعرف على نوعين من القضايا المنطقية هما : القضايا المسوَّرة كلياً ، والقضايا المسوَّرة جزئياً .

٢) القضايا المسوَّرة كلياً :

تأمل الجملة المفتوحة :

م (س) : س + ٢ < ٥ ، س ∈ ط .

إن مجموعة الحل لها هي المجموعة { ٠ ، ١ ، ٢ } ، لماذا ؟

فإذا رمزنا لمجموعة الحل بالرمز س، أي أن س = { ٠ ، ١ ، ٢ } ، فإن الجملة (∀ س ∈ س : م (س)) قضية صائبة ـــــ (١)

أما الجملة : « لكل س ∈ ط : م (س) » والتي تعني أن (جميع عناصر ط تحقق س + ٢ < ٥) .

هي قضية خاطئة ، ونكتب ذلك رمزياً كما يلي : « ∀ س ∈ ط : م (س) » ـــــ (٢) .

يسمى كل من (١) ، (٢) قضية مسوَّرة كلياً ، الرمز ∀ مسوّراً كلياً .

تعريف (١ : ٦)

لتكن م (س) جملة مفتوحة ، س مجموعة تعويضها . تكون القضية المسوَّرة كلياً « ∀ س ∈ س : م (س) » صائبة : إذا كانت م (س) قضية صائبة لجميع قيم س ∈ س ، وتكون القضية خاطئة : إذا وجد على الأقل عنصر س ∈ س يجعل م (س) قضية خاطئة .

مثال (١ − ١٦) لتكن هـ (س) : س + ٥ = ٥ + س ، س ∈ ط ،

ق (س) : س^{٢} − ٩ = ٠ ، س ∈ ح .

فبين قيم صواب كلٍ من :

١ − « ∀ س ∈ ط : هـ (س) » ٢ − « ∀ س ∈ ح : ق (س) » .

الحل ١ − صائبة لأن كل تعويض عن س بعدد طبيعي يجعل هـ (س) قضية صائبة .

http://E-learning-moe.edu.ye

٢ – خاطئة لأنه توجد اعداد حقيقية تجعل هـ (س) قضية خاطئة .

فمثلاً ١ ∈ ح ، هـ(١) : (١)^{٢} – ٩ = ٨ – ≠ ٠ .

ب) القضايا المسوَّرة جزئياً : لنعد إلى الجملة المفتوحة هـ(س) المعرفة في المثال (١ – ١٦) ولنكتب « لبعض قيم س ∈ ح تتحقق هـ(س) » فإننا نكون بذلك قد حددنا قضية صائبة من الجملة المفتوحة هـ(س) ، ذلك لأن العدد ٣ ∈ ح مثلاً يجعل هـ(س) قضية صائبة .

أي أن هـ(٣) : (٣)^{٢} – ٩ = ٠ .

نعبّر عن القضية السابقة رمزياً كما يلي : « ∃ س ∈ ح : هـ(س) » «٣»

تسمى «٣» قضية مسوَّرة جزئياً ، والرمز ∃ مسوَّر جزئي ، ويقرأ « يوجد على الأقل » .

تعريف (١ : ٧)

لتكن هـ (س) جملة مفتوحة ، ص مجموعة تعويضها . تكون القضية المسوَّرة جزئياً « ∃ س ∈ ص : هـ(س) »

صائبة : إذا وجُد على الأقل عنصر س ∈ ص يجعل هـ(س) قضية صائبة .

خاطئة : إذا كان كل تعويض لـ س ∈ ص يجعل هـ(س) قضية خاطئة .

مثال (١ – ١٧) لتكن م(س) : س > ٥ ، س ∈ ط ، هـ(س) : ٢ س = ٣ ، س ∈ ص.

فبين قيم صواب كلٍ من :

١ – « ∃ س ∈ ط : م(س) » . ٢ – « ∃ س ∈ ص : هـ(س) » .

الحل

١ – صائبة : لأن العدد ٢ ∈ ط يحقق م(س) .

٢ – خاطئة لأن أي تعويض لـ س ∈ ص يجعل هـ(س) قضية خاطئة .

وبأسلوب أخر نجد أن العدد الوحيد الذي يحقق هـ(س) هو العدد $\frac{٣}{٢}$ ∉ ص .

مثال (١ – ١٨) لتكن م(س) : س^{٢} > ٣ ، س ∈ ص .

* كوّن بدلالة م(س) قضيتين إحداهما مسوَّرة كلياً، والأخرى مسوَّرة جزئياً، وبين قيم صواب كلٍ من القضيتين.

الحل

∀س ∈ ص : م(س) وهي قضية خاطئة لأن ١ ∈ ص لايحقق م(س)

∃ س ∈ ص : م(س) وهي قضية صائبة لأن ٢ ∈ ص يحقق م(س) .

http://Yaman.E-learning-moe.edu.ye

نفي القضايا المسوَّرة :

تأمل أزواج القضايا المسوَّرة المتقابلة الآتية :

* جميع المناطق اليمنية تشتهر بزراعة البن — بعض المناطق اليمنية لاتشتهر بزراعة البن .
* بعض الطلاب مجتهدون — جميع الطلاب غير مجتهدين .
* بعض الحيوانات أليف — جميع الحيوانات غير أليفة .
* جميع التمارين الرياضية مفيدة — بعض التمارين الرياضية غير مفيدة .

تلاحظ أن معنى كل قضية موجودة على اليسار تنفي معنى القضية المقابلة لها على اليمين .

وبوجه عام إن نفي القضية التي تشتمل على (الجميع ... يكون) هي قضية تشتمل على (البعض ... لايكون) بينما نفي القضية التي تشتمل على « البعض ... يكون » هي قضية تشتمل على « الجميع ... لايكون » ، ونعبر عن ذلك رمزياً كما يلي :

$\sim [\ \forall\ س \in ص : م(س)\ ] \equiv [\ \exists\ س \in ص : \sim م(س)\ ]$ ،

$\sim [\ \exists\ س \in ص : ق(س)\ ] \equiv [\ \forall\ س \in ص : \sim ق(س)\ ]$.

مثال (١ - ١٩) اكتب نفي القضايا المسوَّرة الآتية :

١ – بعض الطلاب يحبون دراسة المنطق .
٢ – بعض الأعداد الصحيحة سالبة .
٣ – لكل إنسان أقارب .
٤ – كل كائن حي يحتاج إلى الماء .
٥ – بعض علماء الرياضيات فلاسفة .

الحـــل

١ – كل الطلاب لايحبون المنطق .
٢ – جميع الأعداد الصحيحة ليست سالبة .
٣ – بعض الناس ليس لهم أقارب .
٤ – بعض الكائنات الحية لاتحتاج إلى الماء .
٥ – كل علماء الرياضيات ليسو فلاسفة .

مثال (١ - ٢٠) أنفِ كل قضية من القضايا الآتية ، وبين قيمة صوابها بعد النفي :

١) $\exists\ س \in ط : ٨ س + ٦ = ٧$.
٢) $\forall\ س \in ح : س \times ١ = ١ \times س$.
٣) $\exists\ س \in ص_{\sim} : س^{٢} > ٠$.

الحـــل

١) $\forall\ س \in ط : ٨ س + ٦ \neq ٧$ ، وهي قضية صائبة لأنها نفي لقضية خاطئة .

٢) $\exists\ س \in ح : س \times ١ \neq ١ \times س$ ، وهي قضية خاطئة لأنها نفي لقضية صائبة .

٣) $\forall\ س \in ص_{\sim} : س^{٢} \not> ٠$ أو $\forall\ س \in ص_{\sim} : س^{٢} \leq ٠$ ، وهي قضية صائبة لأنها نفي لقضية خاطئة .

http://E-learning-moe.edu.ye

مثال (١ - ٢١) عبّر عن كلٍ من القضايا التالية رمزياً ، وبين قيمة صواب كلٍ منها :

أ – جميع الأعداد الطبيعية أكبر من ٢٥ .

ب – بعض الأعداد الفردية هي أعداد أولية .

جـ – عملية جمع الأعداد الصحيحة مغلقة .

الحـــل

أ – لنرمز للعدد الطبيعي بالرمز س ، فتكون القضية المعطاة هي « $\forall$ س $\in$ ط : س > ٢٥ » ، وهي قضية خاطئة ، لأن العدد ٥ $\in$ ط ، ٥ > ٢٥ قضية خاطئة .

ب – لنرمز لمجموعة الأعداد الفردية بالرمز ف ولمجموعة الأعداد الأولية بالرمز ل ، وليكن س عدداً فردياً اختيارياً

فتكون القضية المعطاة هي : $\exists$ س $\in$ ف : س $\in$ ل أو $\exists$ س : س $\in$ (ف $\cap$ ل) حيث $\cap$ رمز تقاطع المجموعات ، وهي قضية صائبة ، لأن العدد ٣ مثلاً هو عدد فردي وأولي .

جـ – ليكن س ، ص عددين صحيحين اختياريين ، فتكون القضية المعطاة هي :

$\forall$ س ، ص $\in$ صـ : (س + ص) $\in$ صـ وهي قضية صائبة .

تمارين ومسائل (١ - ٥)

[١] لتكن صـ = { أ ، ٢ ، ٤ ، هـ ، و } فبين أياً مما يلي قضية وأياً جملة مفتوحة :

١) س $\in$ صـ (حيث س متغير) .

٢) ٢ س $\in$ صـ .

٣) ٧ $\in$ صـ .

٤) هـ $\in$ صـ .

[٢] لتكن صـ = { ١ ، ٢ ، ٣ ، ٤ ، ٥ } حدّد قيمة صواب كلٍ من القضايا المسوَّرة التالية :

١) $\forall$ س $\in$ صـ : س + ٣ = ١٠ .

٢) $\forall$ س $\in$ صـ : س + ٣ > ١٠ .

٣) $\exists$ س $\in$ صـ : س + ٣ > ٥ .

٤) $\forall$ س $\in$ صـ : س + ٣ $\geq$ ٧

[٣] انفِ كلاً من القضايا الواردة في التمرين [٢] ، وبين قيمة صوابها .

[٤] نعلم أن الصفر هو العنصر المحايد الجمعي في مجموعة الأعداد الطبيعية ، ونعبر عن ذلك رمزياً باستخدام المسورات كما يلي : $\forall$ س $\in$ ط : س + صفر = صفر + س = س ، استخدم الفكرة السابقة وعبِّر عن الخواص الآتية رمزياً :

١) العدد ١ هو العنصر المحايد الضربي في مجموعة الأعداد الصحيحة .

٢) عملية جمع الأعداد الطبيعية إبدالية .

٣) مربع أي عدد حقيقي هو عدد غير سالب .

٤) يوجد على الأقل عددان طبيعيان الفرق بينهما ليس عدداً طبيعياً .

[٥] انفِ كلاً من القضايا الواردة في [٤] ، وبين أن كلاً منها قضية خاطئة .

http://Yaman.E-learning-moe.edu.ye

٢ : ١ مـــراجعـــة

تـذكـــر أن :

التطبيق من س ← ص هو علاقة تربط كل عنصر من المجال (س) بعنصر وحيد من المجال المقابل (ص) .

وبذلك نرى أن التطبيق يتعين بمعرفة ثلاث مكونات هي : أ) المجال . ب) المجال المقابل .
جـ) قاعدة التطبيق .

تـذكـــر أن :

قاعدة التطبيق هي العلاقة التي تربط كل عنصر من المجال بصورته من المجال المقابل ، ونعبر عنها رمزياً : ت (س) = ص .

مثال (٢ - ١) لتكن س = { أ ، ب ، جـ } ، ص = { ١ ، ٣ ، ٥ ، ٧ } ، فبيّن أيّ العلاقات التالية تمثل تطبيقاً ؟

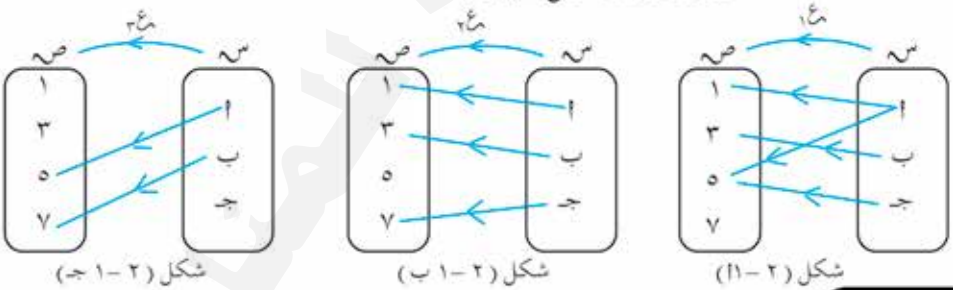

شكل (٢ - ١ أ) شكل (٢ - ١ ب) شكل (٢ - ١ جـ)

الحـــل

نجد أن العلاقات :

ع١ ليست تطبيقاً ؛ لأن أ ∈ س ارتبط بعنصرين هما ١ ، ٥ من ص .

ع٢ تطبيق ؛ لأن كل عنصر في المجال ارتبط بعنصر وحيد من المجال المقابل .

ع٣ ليست تطبيقاً ؛ لأن جـ ∈ س لم يرتبط بأي عنصر من ص .

مثال (٢ - ٢) حدّد قاعدة التطبيق ت : س ← ص والمعرّف بالمخطط السهمي في الشكل (٢ - ٢) .

http://E-learning-moe.edu.ye

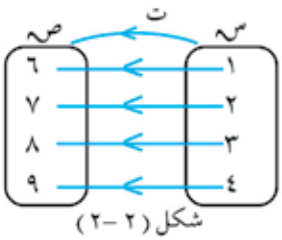

شكل (٢ – ٢)

الحل

تلاحظ من الشكل (٢–٢) أن كل عنصر من المجال ارتبط بعنصر وحيد من المجال المقابل يكبره بمقدار ٥ ، أي أن س $\xrightarrow{ت}$ س + ٥ ، إذن تتحدد قاعدة التطبيق ت : س ← ص بالمعادلة ت (س) = س + ٥ .

تذكر أن :

مدى التطبيق هو مجموعة صور عناصر مجال التطبيق ، وهو مجموعة جزئية من المجال المقابل .

مثال (٢ – ٣) ليكن ت تطبيقاً من س ← ص معرفاً بالقاعدة ت (س) = س + ١ حيث س = { ٢ ، ٤ ، ٥ } ، ص = { ١ ، ٣ ، ٥ ، ٦ ، ٧ } حدّد عناصر المدى .

الحل

∵ ت (س) = س + ١ ، ∴ ت (٢) = ٢ + ١ = ٣ ،

ت (٤) = ٤ + ١ = ٥ ، ت (٥) = ٥ + ١ = ٦ .

المدى = { ٣ ، ٥ ، ٦ } لاحظ أن المدى مجموعة جزئية من المجال المقابل .

أي أن { ٣ ، ٥ ، ٦ } ⊂ ص .

أساليب التعبير (التمثيل) عن التطبيق :

هناك أساليب عديدة للتعبير عن التطبيق والتي تعين لكل س ∈ س صورة ص ∈ ص ، هذه الأساليب تحدد العلاقة بين العنصر وصورته وهي كالتالي :

أ) القاعدة (معادلة رياضية) .
ب) الأزواج المرتبة .
جـ) المخططات السهمية .
ء) التمثيل الجدولي .
هـ) الرسم البياني .

مثال (٢ – ٤) ليكن التطبيق ت : س ← ص والمعرف بالقاعدة ت (س) = ١ – س ، حيث س = { ٣ ، ٥ ، ٨ } ، ص = { –٢ ، –٤ ، –٧ ، –٨ } ، مثل التطبيق كأزواج مرتبة ، وكمخطط سهمي .

الحل

∵ ت (س) = ١ – س .

∴ ت (٣) = ١ – ٣ = –٢ ، ت (٥) = ١ – ٥ = –٤ ، ت (٨) = ١ – ٨ = –٧ .

وهذا يعتبر أسلوباً من أساليب التعبير عن التطبيق باستخدام قاعدة التطبيق مباشرة .

أما التعبير عن التطبيق كأزواج مرتبة فهو : { (٣ ، –٢) ، (٥ ، –٤) ، (٨ ، –٧) } .

http://Yaman.E-learning-moe.edu.ye

والتعبير عن التطبيق كمخطط سهمي موضح في الشكل (٢ – ٣)

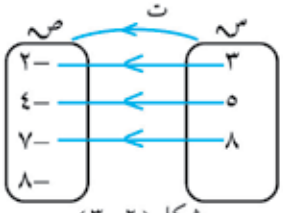

شكل (٢ – ٣)

مثال (٢ – ٥) مثل بيانياً التطبيق م : صـ ← صـ

الحـــل

والمعرف بالقاعدة م (س) : ٢ – س ؛ حيث (صـ هي مجموعة الأعداد الصحيحة) .

التمثيل البياني لهذا التطبيق يتحقق بعدد لانهائي من الأزواج المرتبة (س ، م (س)) ، والجدول التالي يوضح بعض هذه الأزواج :

س	....	١–	٠	١	٢	....
م (س)	....	٣	٢	١	٠	....

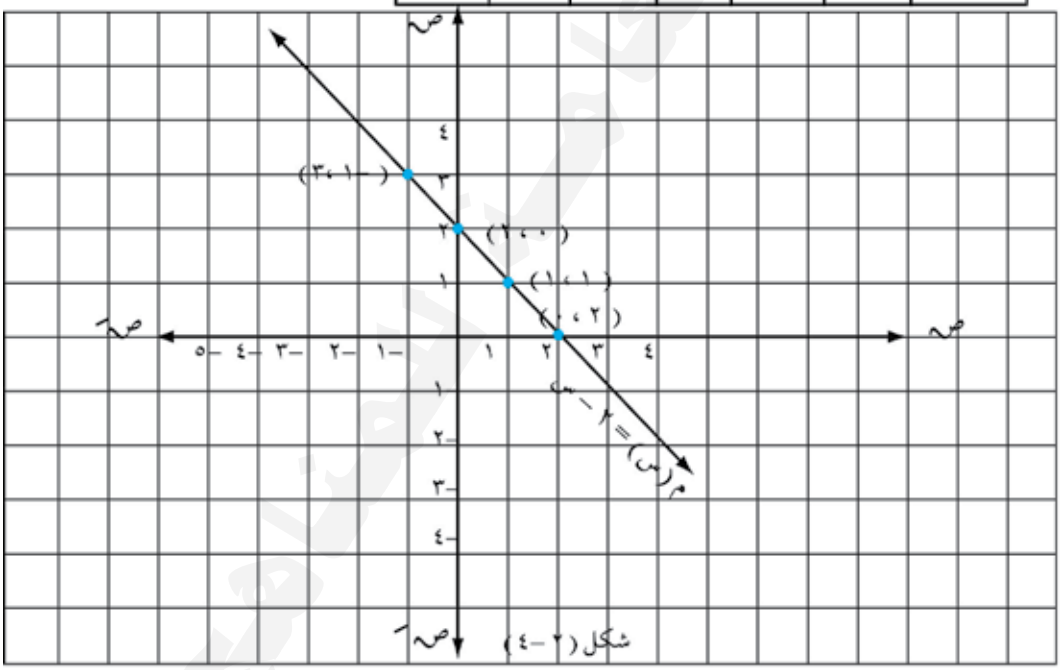

شكل (٢ – ٤)

لاحظ أن هذا التمثيل يتكون من مجموعة من النقاط على استقامة واحدة كما في الشكل (٢ – ٤) .

مثال (٢ – ٦) ليكن التطبيق ت : ح ← ح معرفاً بالقاعدة ت(س) = س – ٣ ، مثّل هذا التطبيق بيانياً .

الحـــل

من الواضح أن ت(س) = س – ٣ يتحقق بعدد لانهائي من الأزواج المرتبة (س ، ت(س)) .

http://E-learning-moe.edu.ye

والجدول التالي يعطي بعض هذه الأزواج :

س	....	٠	١	٢	....
ت (س)	....	٣-	٢-	١-	....

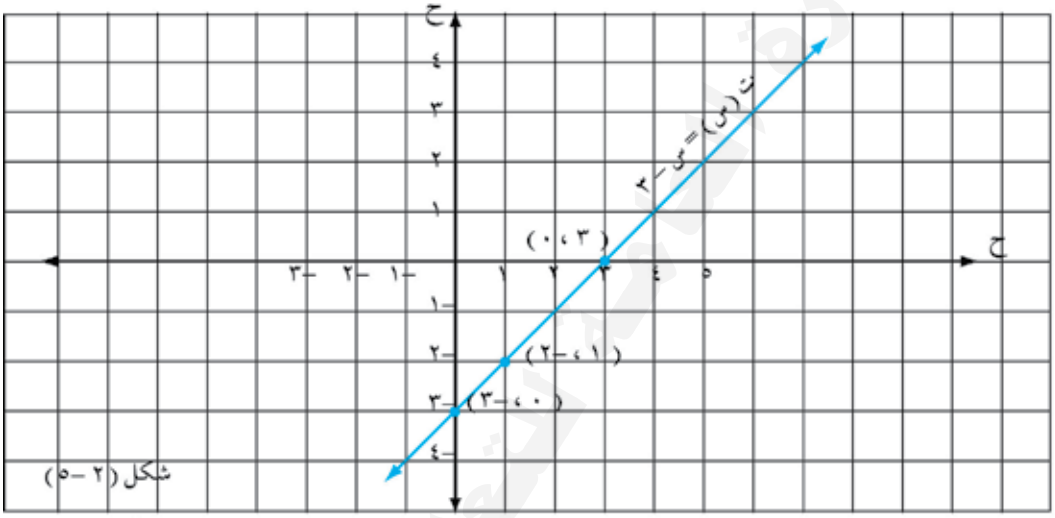

شكل (٢ -٥)

وحيث إن هذا التطبيق من ح ← ح فإن تمثيله البياني هو خط مستقيم كما هو موضح في الشكل (٢- ٥) .

تمارين ومسائل (٢ - ١)

[١] لتكن س = { ٢ ، ٤ ، ٦ ، ٨ } ، ص = { ٣ ، ٥ ، ٧ ، ٩ } ، بيّن أيّاً من العلاقات الآتية تمثّل تطبيقاً ؟

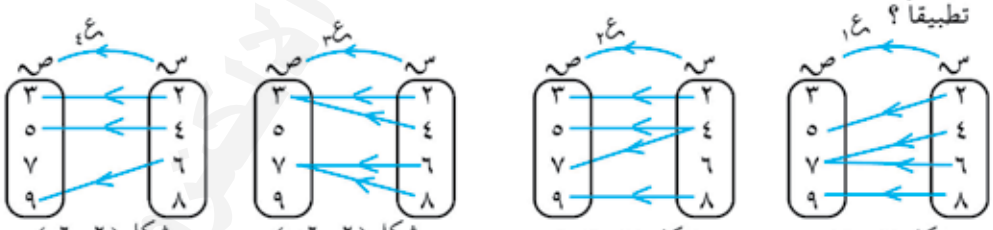

شكل (٢ -٦أ) شكل (٢ -٦ب) شكل (٢ -٦جـ) شكل (٢ -٦د)

[٢] إذا كانت العلاقة ع = { (-٢ ، ٠) ، (٠ ، ١) ، (١ ، ٣) ، (٢ ، -١) ، (٣ ، ١) } تمثّل تطبيقاً، فحدّد مجال ومدى هذا التطبيق .

[٣] لتكن ت تطبيقاً من س إلى ص حيث س = { أ ، ب ، جـ } ، ص = { ٠ ، ٤ ، ٥ } ،

ت (أ) = ٤ ، ت (ب) = ٠ ، ت (جـ) = ٥ :

أ) مثّل التطبيق كأزواج مرتبة . ب) مثّله كمخطط سهمي .

جـ) حدّد مجاله ومداه .

http://Yaman.E-learning-moe.edu.ye

[٤] لتكن س = { ٢ ، ٤ ، ٦ ، ٨ } ، وعرّفنا العلاقة ع ، من س إلى ص بالمخطط السهمي شكل (٢ –٧) .

أ) أثبت أن العلاقة ع تطبيقاً .

ب) حدّد قاعدة هذا التطبيق .

جـ) حدّد عناصر مداه .

ء) هل مدى هذا التطبيق يساوى مجاله المقابل ؟

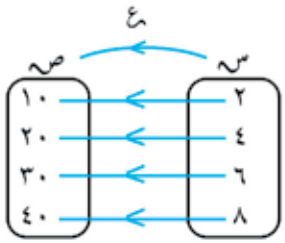

شكل (٢ –٧)

[٥] ليكن ت : ط ← ط تطبيقاً قاعدته ت (س) = ٢ س + ٣

أ) أوجد ت (٢) ، ت (٤) ، ت (٦) ، ت (٨) . ب) حدّد مدى هذا التطبيق .

[٦] إذا كانت ع علاقة معرفة بالقاعدة ق (س) = س + ١ فبيّن أيّاً من العلاقات الآتية تمثل تطبيقاً :

أ) ع : ط ← ط . ب) ع : ص ← ط .

جـ) ع : ط ← ص . ء) ع : ص ← ص .

[٧] ليكن التطبيق ق : س ← ص معرفاً بالقاعدة ق (س) = ٢ س ، حيث س = { ٢ ، ٣ ، ٥ ، ٧ } ، ص = { ٢ ، ٤ ، ٦ ، ٨ ، ١٠ ، ١٢ ، ١٤ ، ١٦ } ، حدّد مدى التطبيق ثم مثّل هذا التطبيق كازواج مرتبة .

[٨] إذا كان ت تطبيقاً من ح ← ح معرفاً بالقاعدة ت (س) = ٣ س – ١ ، مثّل هذا التطبيق بيانياً .

[٩] التطبيق ت : س ← ص معرّف بالقاعدة ت (س) = س – ٢ حيث س = { ٥ ، ٦ ، ٤ ، ٧ } ، ص = { ٠ ، ١ ، ٢ ، ٣ ، ٤ ، ٥ } ، كوّن جدولاً لهذا التطبيق ، ثم ارسم مخططه السهمي .

[١٠] لتكن س = { –٢ ، –١ ، ٠ ، ١ ، ٢ } ، ص = { –١ ، ٠ ، ٢ ، ٣ } ، التطبيق م : س ← ص معرفاً بالقاعدة م (س) = س^{٢} – ١ ، حدّد مدى التطبيق ، ثم مثله جدولياً .

٢ : ٢ الصورة العكسية للتطبيق (معكوس التطبيق)

تدريب (٢–١)

من المخطط السهمي الموضح بالشكل (٢ – ٨) أوجد ما يلي :

١) ت (أ) ، ت (ب) ، ت (جـ) .

٢) العناصر التي صورها ١ ، ٢ ، ٣ .

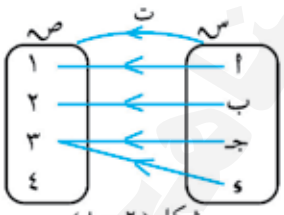

شكل (٢ – ٨)

لمعرفة العناصر التي صورها ١ ، ٢ ، ٣ نعكس اتجاه الأسهم باتجاه عناصر المجال ، أي نوجد الصور العكسية لعناصر المجال المقابل كما هو موضح بالشكل (٢–٩) .

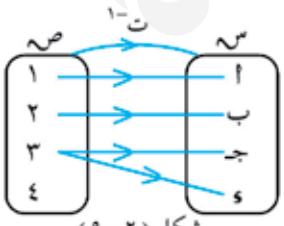

شكل (٢ –٩)

فنجد أن :

الصورة العكسية للعنصر ١ هي أ ، ونعبر عن ذلك رمزياً : ت$^{-١}$ (١) = أ .

http://E-learning-moe.edu.ye

(وتقرأ الصورة العكسية للعنصر ١ هي أ) ، وبالمثل الصورة العكسية للعنصر ٢ هي ب ،
أي أن ت$^{-1}$ (٢) = ب ، أما الصورة العكسية ت$^{-1}$(٣) = جـ ، ء .
والعنصر ٤ ليس له صورة عكسية ، والصورة العكسية للمجموعة { ١ ، ٢ } هي { أ ، ب } ، ونعبر عن ذلك رمزياً ت$^{-1}$({ ١ ، ٢ }) = { أ ، ب } وبالمثل ت$^{-1}$({ ١ ، ٢ ، ٣ }) = { أ ، ب ، جـ ، ء } ،
والسؤال الذي نطرحه الآن :
هل الصورة العكسية للتطبيق (معكوس التطبيق ت) تمثل تطبيقاً ؟ من الشكل (٢-٩) نجد أن :
الصورة العكسية للتطبيق ت ، أو معكوس التطبيق ليس بالضرورة أن تكون تطبيقاً ؛ لأن ٣ ∈ صـ ارتبط بعنصرين من سـ ، أي أن ت$^{-1}$(٣) = جـ ، ء بالإضافة إلى أن العنصر ٤ ليس له صورة عكسية ، كما أن التمثيل بالأزواج المرتبة يوضح أن المسقط الأول (٣) تكرر مرتين كالتالي : { (١ ، أ) ، (٢ ، ب) ، (٣ ، جـ) ، (٣ ، ء) } وبالتالي نقول أن :

١ - الصورة العكسية لأي عنصر من المجال المقابل لأي تطبيق إمّا أن تكون عنصراً واحداً أو أكثر من عنصر ، أو لاتوجد له أي صورة عكسية .
٢ - الصورة العكسية لأية مجموعة جزئية من المجال المقابل هي مجموعة جزئية من المجال .
٣ - معكوس أي تطبيق هو علاقة وأنّ هذه العلاقة قد تكون تطبيقاً أو ليست تطبيقاً .

مثال (٢ - ٧) ليكن التطبيق ت : ح ← ح معرفاً بالقاعدة ت (س) = س + ٣ ، أوجد :
أ) ت$^{-1}$ (٣) ، ت$^{-1}$ (٤) ، ت$^{-1}$ (٢) .
ب) ت$^{-1}$ { د : د ∈ ح ، ٤ ≤ د ≤ ٧ } .

الحـــل

أ) ت$^{-1}$ (٣) هي الأعداد التي تحقق المعادلة ت (س) = ٣ ، أي أن س + ٣ = ٣ ⇐ س = ٠ .
∴ ت$^{-1}$ (٣) = ٠
ت$^{-1}$ (٤) هي الأعداد التي تحقق المعادلة ت (س) = ٤ ، أي أن س + ٣ = ٤ ⇐ س = ١ .
∴ ت$^{-1}$ (٤) = ١ .
ت$^{-1}$ (٢) هي الأعداد التي تحقق المعادلة ت(س) = ٢ ، أي أن س + ٣ = ٢ ⇐ س = -١ .
∴ ت$^{-1}$ (٢) = -١ .
ب) ت$^{-1}$ ({ د : د ∈ ح ، ٤ ≤ د ≤ ٧ }) هي مجموعة الأعداد الطبيعية التي تحقق المتراجحة :
٤ ≤ س + ٣ ≤ ٧ ⇐ ١ ≤ س ≤ ٤ .
∴ ت$^{-1}$ ({ د : د ∈ ح ، ٤ ≤ د ≤ ٧ }) = { د : د ∈ ح ، ١ ≤ د ≤ ٤ } .

http://Yaman.E-learning-moe.edu.ye

مثال (٢ - ٨) إذا كانت س = { ١ ، ٢ ، ٣ ، ٤ } ، ص = { ٧ ، ٨ ، ١٠ } ، وعرّفنا التطبيق ق : س ← ص على النحو التالي :

ق = { (١ ، ٨) ، (٢ ، ٨) ، (٣ ، ١٠) ، (٤ ، ٨) } ، فأوجد معكوس التطبيق ق ، وهل يمثل تطبيقاً؟

الحل

معكوس التطبيق هو : ق$^{-١}$ = { (٨ ، ١) ، (٨ ، ٢) ، (١٠ ، ٣) ، (٨ ، ٤) } تلاحظ أن المسقط الأول في الأزواج المرتبة تكرر ثلاث مرات ، أي أن معكوس التطبيق ق ليس تطبيقاً .

مثال (٢ - ٩) إذا كانت س = { ٢ ، ٣ ، ٤ } ، ص = { ٤ ، ٥ ، ٦ } ، وعرفنا التطبيق م : س ← ص بالقاعدة م (س) = س + ٢ .

فبيّن أن معكوس التطبيق م تطبيقاً .

الحل

لكي نبين أن م$^{-١}$ تطبيقاً ، نوجد جميع الصور العكسية للمجال المقابل (ص) .

م$^{-١}$ (٤) هي العناصر التي تحقق المعادلة م (س) = ٤ ، أي أن س + ٢ = ٤ ⟸ س = ٢ .

∴ م$^{-١}$ (٤) = ٢ ،

وبالمثل م$^{-١}$ (٥) = ٣ ، م$^{-١}$ (٦) = ٤ ، وحيث أن صورة كل عنصر في المجال المقابل هي عنصر واحد فقط من المجال .

إذن معكوس التطبيق م تطبيقاً .

مثال (٢ - ١٠) ليكن التطبيق ك : ح ← ح معرفاً بالقاعدة ك (س) = س^{٢} + ٢ .

أوجد ك$^{-١}$ (٤) ، ثم بيّن أن معكوس التطبيق ك ليس تطبيقاً .

الحل

ك$^{-١}$ (٤) هي الأعداد الحقيقية التي تحقق المعادلة ك (س) = ٤ .

أي أن س^{٢} + ٢ = ٤ ⟸ س^{٢} = ٢ ⟸ س = ± $\sqrt{٢}$.

∴ ك$^{-١}$ (٤) = $\sqrt{٢}$ ، − $\sqrt{٢}$ ، وحيث إنّ الصورة العكسية للعنصر ٤ هما العنصرين $\sqrt{٢}$ ، − $\sqrt{٢}$.

إذن معكوس التطبيق ك ليس تطبيقاً .

http://E-learning-moe.edu.ye

تمارين ومسائل (٢ - ٢)

[١] ليكن ت : س ← ص تطبيقاً معرفاً بالمخطط السهمي الموضح بالشكل (٢ - ١٠) .

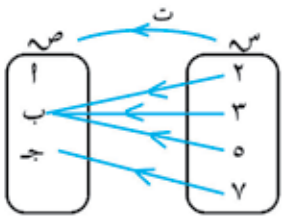

شكل (٢ - ١٠)

أ) أوجد ت$^{-١}$(أ) ، ت$^{-١}$(ب) ، ت$^{-١}$(جـ) .

ب) أوجد ت$^{-١}$({ ب ، جـ }) .

جـ) بيّن أن معكوس التطبيق ت ليس تطبيقاً .

[٢] ليكن و تطبيقاً و : س ← س حيث س = { أ ، ب ، جـ ، ء } معرفاً بالمخطط السهمي الشكل (٢ - ١١) .

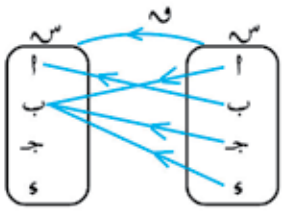

شكل (٢ - ١١)

أ) أوجد و$^{-١}$(ب) ، و$^{-١}$(جـ) .

ب) مثّل التطبيق و كأزواج مرتبة .

جـ) أوجد معكوس التطبيق و .

ء) هل معكوس التطبيق و تطبيقاً ؟ لماذا ؟

[٣] إذا كان التطبيق هـ : س ← ص معرفاً بالقاعدة هـ(س) = س + ١ ، حيث س = { ٤ ، ٢ ، ٩ } ، ص = { ٥ ، ٣ ، ١٠ } ، فأثبت أن معكوس التطبيق هـ تطبيقاً .

[٤] ليكن التطبيق ت : ط / { ٠ } ← ط معرفاً بالقاعدة ت (س) = ٣ س - ١ .

أ) أوجد ت$^{-١}$(١) ، ت$^{-١}$(٥) ، ت$^{-١}$(٨) . ب) بيّن أن معكوس التطبيق ت ليس تطبيقاً .

[٥] ليكن التطبيق ت : ح ← ح معرفاً بالقاعدة ت (س) = س + ٣ ، أوجد :

أ) ت$^{-١}$(٧) ، ت$^{-١}$(٣) ، ت$^{-١}$(-٢) .

ب) ت$^{-١}$({ ص : ص ∈ ح ، -٥ ≤ ص ≤ ١٢ }) .

[٦] ليكن التطبيق د : ح ← ح معرفاً بالقاعدة د (س) = س^{٢} + ٤س + ٧ ، أوجد د$^{-١}$(٢٨) ، ثم أثبت أن معكوس التطبيق د ليس تطبيقاً .

[٧] إذا كان التطبيق هـ : ط ← ط معرفاً بالقاعدة هـ(س) = ٢ س + ١ ، فأوجد :

أ) هـ$^{-١}$(٣) ، هـ$^{-١}$(٦) ، هـ$^{-١}$(٠) . ب) هـ$^{-١}$({ ص : ص ∈ ط ، ص ≥ ٥ }) .

جـ) هـ$^{-١}$({ ص : ص ∈ ط ، ٣ ≤ ص ≤ ٩ }) . ء) أثبت أن معكوس التطبيق هـ ليس تطبيقاً .

http://Yaman.E-learning-moe.edu.ye

٢ : ٣ أنواع التطبيقات

سبق أن تعرفت في المرحلة السابقة على التطبيق الخطي وفي هذا الدرس ستتعلم بعض أنواع التطبيقات مثل :

(١) التطبيق الثابت :

تأمل التطبيق المبين بالمخطط السهمي شكل (٢ – ١٢) ،

ماذا تلاحظ ؟

تلاحظ أن :

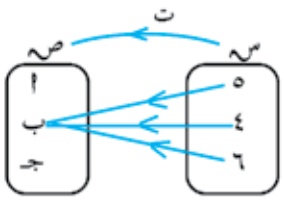

شكل (٢ – ١٢)

ت (٥) = ب ، ت (٤) = ب ، ت (٦) = ب

أي أن جميع عناصر المجال (س) ارتبطت بعنصر واحد فقط من مجاله المقابل (ص) .

تعريف (٢ : ١)

يسمى التطبيق ت : س ← ص تطبيقاً ثابتاً إذا ارتبطت جميع عناصر مجال هذا التطبيق بعنصر واحد فقط من مجاله المقابل .

أي أن : ∀ س ∈ س ، ت (س) = ب ، ب ∈ ص

مثال (٢ – ١١) ليكن ت : س ← ص قاعدته « س يقسم ص » س ∈ س ، ص ∈ ص

حيث س = { ٢ ، ٣ ، ٥ ، ١٠ } ، ص = { ١٩ ، ٣٠ ، ٤٣ } .

أثبت أن هذا التطبيق ثابت .

الحل

ت (٢) = ٣٠ لماذا ؟ ، ت (٣) = ٣٠ ، ت (٥) = ٣٠ ، ت (١٠) = ٣٠ .

المدى = { ٣٠ } .

بما أن جميع عناصر المجال (س) ارتبطت بعنصر واحد فقط وهو (٣٠) من مجاله المقابل (ص) .

إذن التطبيق ثابت .

(٢) التطبيق المطابق (المحايد) :

تأمل التطبيق الذي يمثله المخطط السهمي شكل (٢ – ١٣) ،

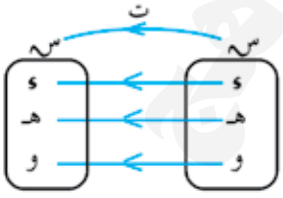

شكل (٢ – ١٣)

تلاحظ أن : ت (ء) = ء ، ت (هـ) = هـ ، ت (و) = و .

أي أن كل عنصر في المجال (س) ارتبط بنفسه في المجال المقابل (س) .

http://E-learning-moe.edu.ye

تعريف (٢ : ٢)

يسمى التطبيق ت : س$_{هـ}$ ← ص$_{هـ}$ تطبيقاً مطابقاً (محايداً) إذا ارتبط كل عنصر في المجال بنفسه في المجال المقابل .

أي أن : ∀ س ∈ س$_{هـ}$ ، ت (س) = س .

مثال (٢ - ١٢) ليكن ت : س$_{هـ}$ ← س$_{هـ}$ تطبيقاً مطابقاً حيث س$_{هـ}$ = { ٩ ، - ١١ ، $\frac{١}{٢}$ } ، أوجد مدى هذا التطبيق .

الحـــل بما أن ت تطبيقاً مطابقاً فإن ت (س) = س .

∴ ت(٩) = ٩ ، ت (-١١) = -١١ ، ت ($\frac{١}{٢}$) = $\frac{١}{٢}$.

المدى = { ٩ ، - ١١ ، $\frac{١}{٢}$ } .

(٣) التطبيق الغامر (الشامل) :

تلاحظ في التطبيقين ت$_{١}$ ، ت$_{٢}$ الممثلين في الشكلين (٢ - ١٤ أ ، ب) أن التطبيق ت$_{١}$ فيه كل عنصر من المجال المقابل وهو صورة لعنصر واحد على الأقل من عناصر المجال ، أي أن المدى = { ١ ، ٢ ، ٣ } = المجال المقابل .

بينما التطبيق ت$_{٢}$ فيه عنصر في المجال المقابل وهو (٢) ليس صورة لأي عنصر من عناصر المجال أي أن المدى = { ١ ، ٣ } ≠ المجال المقابل .

يسمى التطبيق ت$_{١}$ **تطبيقاً غامراً** ، بينما التطبيق ت$_{٢}$ **ليس تطبيقاً غامراً** .

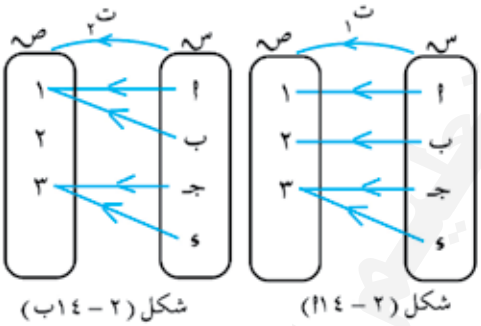

شكل (٢ - ١٤ أ)　　شكل (٢ - ١٤ ب)

تعريف (٢ : ٣)

يسمى التطبيق ت : س$_{هـ}$ ← ص$_{هـ}$ تطبيقاً غامراً (أو شاملاً) إذا كان كل عنصر من عناصر المجال المقابل (ص$_{هـ}$) هو صورة لعنصر واحد على الأقل من عناصر المجال (س$_{هـ}$) ويكتب ذلك رمزياً :

∀ ص ∈ ص$_{هـ}$ ∃ س ∈ س$_{هـ}$ بحيث ت (س) = ص .

من التعريف السابق :

١) يكون التطبيق غامراً إذا كان كل عنصر في المجال المقابل له صورة عكسية . أي المدى = المجال المقابل .

٢) يكون التطبيق غير غامر إذا وجد عنصر واحد على الأقل في المجال المقابل ليس له صورة عكسية .

أي المدى ≠ المجال المقابل .

http://Yaman.E-learning-moe.edu.ye

مثال (٢ - ١٣) أي التطبيقين ت ، وهـ الممثلين بالشكل (٢- ١١٥ أ ، ب) غامر .

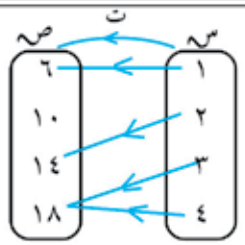

شكل (٢ - ١١٥ أ)

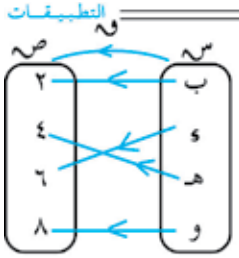

شكل (٢ - ١١٥ ب)

الحل

من الشكل (٢ - ١١٥ أ) التطبيق ت ليس غامراً لأن المدى = { ٦ ، ١٤ ، ١٨ } ≠ المجال المقابل

ومن الشكل (٢ - ١١٥ ب) التطبيق وهـ غامر ، لأن المدى = المجال المقابل .

مثال (٢ - ١٤) ليكن ت : ط ← ط تطبيقاً معرفاً بالقاعدة ت(س) = س^{٢} ، بيّن أن هذا التطبيق غير غامر .

الحل

لإيجاد المدى نوجد : ت (٠) = (٠)^{٢} = ٠ ، ت (١) = (١)^{٢} = ١ ،

ت (٢) = (٢)^{٢} = ٤ ... وهكذا .

∴ المدى = { ٠ ، ١ ، ٤ ، ٩ ، ... } ، ∵ المدى ≠ المجال المقابل (ط) .

∴ التطبيق غير غامر .

حل آخر :

ط مجموعة غير منتهية يمكن اختيار أحد عناصر المجال المقابل وليكن ص ، ثم نحل المعادلة بإيجاد س بدلالة ص : س^{٢} = ص ، س = ± $\sqrt{ص}$.

وإذا كان ص = ٣ ∈ ط (المجال المقابل) .

∴ س = ± $\sqrt{٣}$ ∉ ط (المجال) . أي أن العنصر ٣ في المجال المقابل ليس له صورة عكسية .

∴ التطبيق غير غامر .

(٤) التطبيق المتباين (الاحادي) :

تأمل التطبيقين د$_{١}$ ، د$_{٢}$ التاليين [شكل (٢ - ١١٦ أ ، ب)] .. ماذا تلاحظ ؟

في التطبيق د$_{١}$ تلاحظ أن أي عنصرين مختلفين من المجال (س) لهما صورتان مختلفتان من المجال المقابل (ص) ، (تحقق من ذلك) .

أما في التطبيق د$_{٢}$ فإن ب ≠ جـ

بينما د$_{٢}$(ب) = د$_{٢}$ (جـ) = ٢ .

يقال للتطبيق د$_{١}$ بأنه **متباينٌ** ، أما التطبيق د$_{٢}$ **ليس متبايناً** .

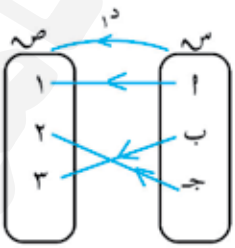

شكل (٢ - ١١٦ أ)

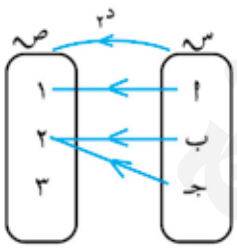

شكل (٢ - ١١٦ ب)

http://E-learning-moe.edu.ye

تعريف (٢ : ٤)

يسمى التطبيق ت : س ← ص تطبيقاً متبايناً إذا كان كل عنصر من المجال المقابل صورة لعنصر واحد على الأكثر من المجال . أي أن :

∀ س١ ، س٢ ∈ س ، إذا كان س١ ≠ س٢ ⇐ ت (س١) ≠ ت (س٢) أو بعبارة مكافئة :

∀ س١ ، س٢ ∈ س ، إذا كان ت (س١) = ت (س٢) ⇐ س١ = س٢ .

مثال (٢ – ١٥) أي التطبيقين التاليين متباين ؟ ولماذا ؟

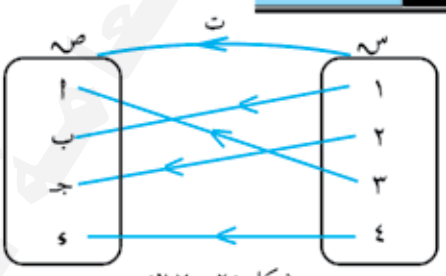

شكل (٢ – ١٧أ)

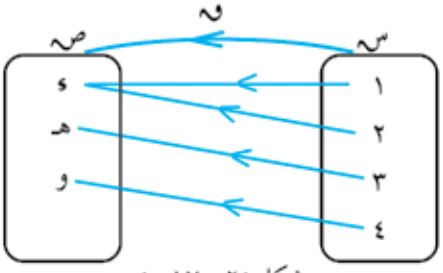

شكل (٢ – ١٧ب)

الحـــل

في التطبيق ت : ت$^{-1}$(أ) = ٣ ، ت$^{-1}$(ب) = ١ ، ت$^{-1}$(جـ) = ٢ ، ت$^{-1}$(ء) = ٤ .

∴ التطبيق ت متباين لأن : ∀ س١ ، س٢ ∈ س ، س١ ≠ س٢ ⇐ د(س١) ≠ د(س٢) .

وفي التطبيق و نلاحظ أن : ١ ≠ ٢ بينما و(١) = و(٢) = ء . أي أن التطبيق و غير متباين لأن و$^{-1}$(ء) = ١ ، ٢ .

مثال (٢ – ١٦) ليكن د : ح ← ح تطبيقاً حيث د(س) = ٢ س + ١ . اثبت أن د تطبيق متباين.

الحـــل

من شرط التباين د (س١) = د (س٢) ⇐ س١ = س٢ .

د (س١) = ٢ س١ + ١ ، د (س٢) = ٢ س٢ + ١ .

∴ ٢ س١ + ١ = ٢ س٢ + ١ ⇐ ٢ س١ = ٢ س٢ ⇐ س١ = س٢ .

∴ التطبيق متباين .

حل آخر :

بتطبيق الشرط المكافئ للتباين :

نفرض س١ ≠ س٢ ، ∀ س١ ، س٢ ∈ ح

⇐ ٢ س١ ≠ ٢ س٢ ⇐ ٢ س١ + ١ ≠ ٢ س٢ + ١ ⇐ د(س١) ≠ د(س٢) .

http://Yaman.E-learning-moe.edu.ye

∴ $س_1 \neq س_2 \Leftarrow د(س_1) \neq د(س_2)$.

∴ التطبيق متباين .

(٥) التطبيق التقابل :

تعريف (٢ : ٥)

يسمى التطبيق ت : $س \to ص$ تقابلاً إذا كان غامراً ومتبايناً في آن واحد .

ملاحظة : لكي نبيّن أن التطبيق غير تقابل يكفي أن نبيّن أنه غير غامر أو غير متباين .

مثال (٢ - ١٧) إذا كانت س = { ا ، ب ، جـ ، ء } ، وكان د ، و تطبيقين معرفين على س حيث :

د = { (ا ، ب) ، (ب ، جـ) ، (جـ ، ء) ، (ء ، ا) } .

و = { (ا ، ب) ، (ب ، جـ) ، (جـ ، ب) ، (ء ، ا) } ، فبيّن نوع كل من د ، و .

الحـــل

التطبيق د فيه : د (ا) = ب ، د (ب) = جـ ، د (جـ) = ء ، د (ء) = ا .

∴ المدى = { ا ، ب ، جـ ، ء } = المجال المقابل .

التطبيق د غامر .

ويلاحظ أن كل عنصرين مختلفين في المجال (س) لهما صورتان مختلفتان من المجال المقابل (س) .

∴ التطبيق د متباين .

د تطبيق تقابل لأنه غامر ومتباين .

أما التطبيق و غير غامر لأن المدى = { ا ، ب ، جـ } ≠ المجال المقابل ، وبالتالي فهو ليس تقابلاً .

مثال (٢ - ١٨) ليكن ت : ط ← ط تطبيقاً حيث ت(س) = ٣ س + ٣ . هل هذا التطبيق تقابل؟ ولماذا ؟

الحـــل

من شرط التباين : ت ($س_1$) = ت ($س_2$)

$\Leftarrow ٣ س_1 + ٣ = ٣ س_2 + ٣ \Leftarrow ٣ س_1 = ٣ س_2 \Leftarrow س_1 = س_2$

∴ ت ($س_1$) = ت ($س_2$) $\Leftarrow س_1 = س_2$ ، ∴ التطبيق متباين .

أمّا لمعرفة ما إذا كان التطبيق ت غامر أم لا . يتم اختيار أحد عناصر المجال المقابل وليكن ص ثم نحل المعادلة :

٣ س + ٣ = ص

http://E-learning-moe.edu.ye

$\Leftarrow$ ٣ س = ص − ٣

$\Leftarrow$ س = $\frac{ص - ٣}{٣}$.

فإذا كان ص = ٠

∴ س = $\frac{٠ - ٣}{٣}$ = $\frac{-٣}{٣}$ = −١ $\notin$ ط (المجال) .

أي أن العنصر ص = ٠ من المجال المقابل ليس له صورة عكسية .

إذن التطبيق غير غامر ، وبالتالي التطبيق ت غير تقابل .

تمارين ومسائل (٢ − ٣)

[١] بيّن نوع كل تطبيق من التطبيقات التالية :

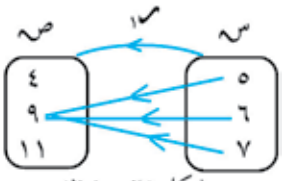

شكل (٢ − ١٨أ)

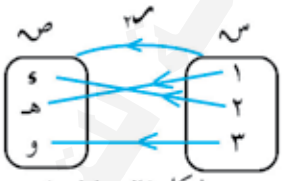

شكل (٢ − ١٨ب)

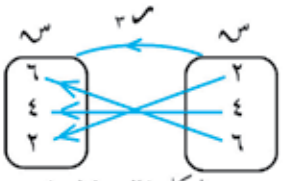

شكل (٢ − ١٨جـ)

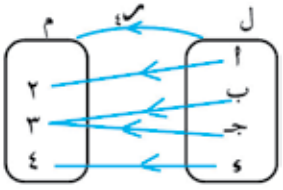

شكل (٢ − ١٨د)

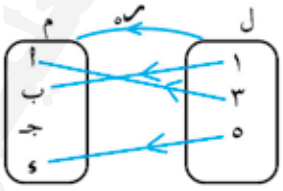

شكل (٢ − ١٨هـ)

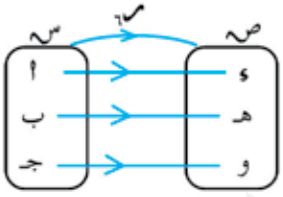

شكل (٢ − ١٨و)

[٢] ليكن ق : س ← ص تطبيقاً معرف بالقاعدة « س رقم من ارقام العدد ص : س ∈ س ، ص ∈ ص » ، س = { ٥ ، ٤ ، ٦ } ، ص = { ٢٩١ ، ٤٥٦ ، ٣٠٢ } ، أوجد مدى هذا التطبيق وبيّن نوعه .

[٣] الجدول التالي يمثل التطبيق ق (س) على س حيث س = { ٢ ، ٣ ، ٤ ، ٥ ، ٦ } .

س	٢	٣	٤	٥	٦
ق(س)	٦	٥	٢	٤	٤

ارسم مخططاً سهمياً لهذا التطبيق وبيّن نوعه .

[٤] ليكن التطبيق ت : س ← ص معرفاً بالقاعدة ت (س) = ٣س حيث س = { ١ ، ٢ ، ٣ ، ٤ } ، ص = { ٠ ، ٣ ، ٦ ، ٩ ، ١٢ ، ١٥ } .

أ) اكتب التطبيق ت كأزواج مرتبة . ب) بيّن نوعه .

http://Yaman.E-learning-moe.edu.ye

[٥] لتكن س = { أ ، ب ، جـ ، ء } ، ص = { ١ ، ٢ ، ٣ ، ٥ ، ٧ } بيّن نوع كل من التطبيقين التاليين من س ← ص .

د١ = { (ب ، ٣) ، (أ ، ١) ، (جـ ، ٥) ، (ء ، ٧) } .

د٢ = { (أ ، ٥) ، (ب ، ٣) ، (جـ ، ٣) ، (ء ، ١) } .

[٦] المخطط السهمي شكل (٢ – ١٩) يمثل تطبيقاً من س ← س حيث س = { ب ، جـ ، ء } .

أ) اكتب بيان هذا التطبيق كأزواج مرتبة .

ب) بيّن نوعه .



شكل (٢ – ١٩)

[٧] لتكن ل = { ٦ ، ٧ ، ٨ ، ٩ } ، م = { ء ، هـ ، و } .

أ) كوّن تطبيقاً من ل ← م بحيث يكون غامراً وغير متباين .

ب) كوّن تطبيقاً من م ← ل بحيث يكون متبايناً وغير غامر .

جـ) هل ممكن تكوين تطبيق من ل ← م تقابلاً ؟ ولماذا ؟

[٨] لتكن س = { ٢ ، ٣ ، ٥ ، ٦ } ، والتطبيق د : س ← ط حيث د (س) = س٢ – ١ ، ما مدى هذا التطبيق ؟ وبيّن نوعه .

[٩] ق١ ، ق٢ تطبيقان معرفان كالتالي :

ق١ : ط ← ط ، ق١ (س) = ٢ س ، ق٢ : ط ← ط ، ق٢ (س) = ٣ س + ١

ما نوع كل منهما .

[١٠] إذا كان ق (س) = س٢ بين نوع هذا التطبيق عندما يكون :

أ) ق : ط ← ط (ط مجموعة الأعداد الطبيعية) .

ب) ق : ص ← ص (ص مجموعة الأعداد الصحيحة) .

٢ : ٤ التطبيق العكسي

تعرفت على بعض أنواع التطبيقات . كما تعرفت سابقاً على معكوس التطبيق . استناداً إلى ذلك ستتعرف على التطبيق العكسي .

مثال (٢-١٩) بيّن نوع كل تطبيق في الأشكال (٢ – ٢٠ أ ، ب ، جـ) ، ثم أوجد معكوس كل منهم، هل معكوس التطبيق في كل حالة تطبيقاً ؟

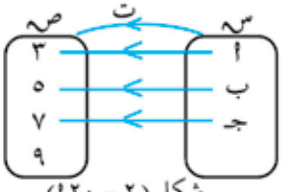

شكل (٢ – ٢٠ أ)

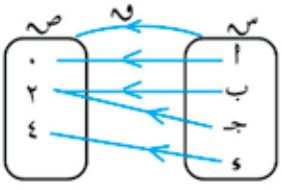

شكل (٢ – ٢٠ ب)

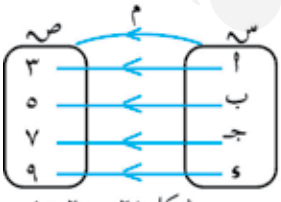

شكل (٢ – ٢٠ جـ)

http://E-learning-moe.edu.ye

الحـــل

– التطبيق ت : متباين ولكن غير غامر . لماذا ؟

إن معكوس هذا التطبيق ليس تطبيقاً ، لأن ٩ ∈ صـ ليس له صورة عكسية في سـ .

– التطبيق فـ : غامر ولكن غير متباين . لماذا ؟

تلاحظ أن معكوس هذا التطبيق ليس تطبيقاً ، لأن ت$^{-1}$(٢) = ب ، جـ .

– أمّا التطبيق م : تقابل لأنه غامر ومتباين ، فتلاحظ أن معكوس هذا التطبيق هو تطبيق من صـ إلى سـ يربط كل عنصر ص ∈ صـ بعنصر وحيد من سـ . مثل هذا التطبيق يسمى « **التطبيق العكسي** » ونرمز له كالتالي : م$^{-1}$: صـ ← سـ ، قاعدته م$^{-1}$(ص) = س .

تعريف (٢ : ٦)

يكون للتطبيق ت : سـ ← صـ تطبيقاً عكسياً ت$^{-1}$: صـ ← سـ إذا فقط إذا كان التطبيق ت تقابلاً .

مثال (٢-٢٠) استعن بالشكل (٢ – ٢١) لإيجاد التطبيق العكسي .للتطبيق فـ : سـ ← صـ ، ثم ارسم مخططه السهمي .

الحـــل

يتضح من المخطط السهمي فـ أنه تقابل .

إذن له تطبيق عكسي هو :

فـ$^{-1}$ = {(أ ، ٠) ،(ب ، –١) ،(جـ ، ١) ،(ء ، ٢)} ،

والمخطط السهمي في الشكل (٢ – ٢٢) يمثّل التطبيق العكسي فـ$^{-1}$.

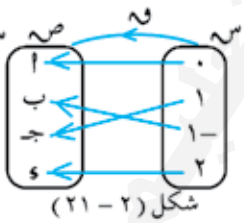

شكل (٢ – ٢١)

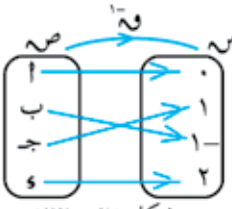

شكل (٢ – ٢٢)

مثال (٢-٢١) ليكن ت : ح ← ح تطبيقاً معرفاً بالقاعدة ت(س) = ٢ س + ٥ ، هل للتطبيق ت تطبيق عكسيّ ؟ أوجد قاعدته – إن وجد – .

الحـــل

يجب أولاً أن نثبت أن ت تقابل ولذلك نتبع الخطوتين التاليتين :

١ – نثبت أن ت متباين .

لتكن ت (س$_1$) = ت (س$_2$) .

∴ ٢ س$_1$ + ٥ = ٢ س$_2$ + ٥ ⇐ ٢ س$_1$ = ٢ س$_2$ ⇐ س$_1$ = س$_2$.

أي أن ت متباين .

٢ – نثبت أن ت غامر ، وذلك بحل المعادلة ص = ٢ س + ٥ ، وإيجاد س بدلالة ص .

ص = ٢ س + ٥ ⇐ ٢ س = ص – ٥ ⇐ س = $\frac{ص - ٥}{٢}$ واضح أن المعادلة س = $\frac{ص - ٥}{٢}$ لها حل

http://Yaman.E-learning-moe.edu.ye

مهما كانت قيمة ص ∈ ح . إذن التطبيق غامر .

∴ ت تقابل وبالتالي له تطبيق عكسي $ت^{-1}$ وقاعدته هي $ت^{-1}(ص) = \frac{ص - ٥}{٢}$ وحيث ص رمز لأي عدد حقيقي فيمكن أن نضع محله س .

∴ $ت^{-1}$: صـ ← سـ حيث $ت^{-1}(س) = \frac{س - ٥}{٢}$ ، ∀ س ∈ ح .

مثال (٢-٢٢) ليكن التطبيق هـ : ح ← ح معرفاً بالقاعدة هـ(س) = $س^{٢}$ ، هل لهذا التطبيق تطبيق عكسي ؟

الحـل

نفرض أن $س_{١}$ ، $س_{٢}$ ∈ ح (المجال) يكون هـ(س) متبايناً إذا كان هـ($س_{١}$) = هـ($س_{٢}$) ⇐ $س_{١} = س_{٢}$

نفرض أن هـ($س_{١}$) = هـ($س_{٢}$) .

∴ $س_{١}^{٢} = س_{٢}^{٢}$ ⇐ $س_{١} = \pm س_{٢}$.

إذن توجد $س_{١} = - س_{٢}$ ⇐ $س_{١} \neq س_{٢}$.

وهذا ما يوضح عدم تحقق الشرط .

∴ هـ ليس متبايناً .

∴ ليس له تطبيق عكسيّ .

تمارين ومسائل (٢ - ٤)

[١] بيّن أيّ التطبيقات الموضحة في الشكل (٢ - ٢٣ أ ، ب ، جـ) له تطبيق عكسي ؟

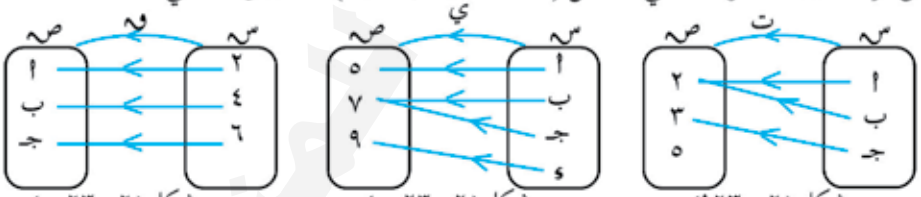

[٢] ليكن د : سـ ← صـ معرفاً بالقاعدة د(س) = $س^{٣}$ ، ∀ س ∈ سـ ، حيث سـ = { -٣ ، -٢ ، -١ ، ٠ } ، صـ = { -٢٧ ، -٨ ، -١ ، ٠ } .

أ) أوجد $د^{-1}(٠)$ ، $د^{-1}(-١)$ ، $د^{-1}(-٨)$. ب) أثبت أن التطبيق د تقابل .

جـ) مثّل التطبيق العكسي بمخطط سهمي .

[٣] ليكن ر : ح ← ح تطبيقاً ومعرفاً بالقاعدة ر(س) = س - ١ . اثبت أن ر تقابل ، ثم أوجد قاعدة $ر^{-1}$.

[٤] إذا كان م : ح ← ح تطبيقاً معرفاً بالقاعدة م(س) = $\frac{٢ س + ١}{٢}$.

أ) أوجد $م^{-1}(٥)$ ، $م^{-1}(\frac{١}{٢})$ ، $م^{-1}(-٣)$.

http://E-learning-moe.edu.ye

ب) أوجد قاعدة التطبيق العكسي لهذا التطبيق .

[٥] إذا كان ت : ح ← ح تطبيقاً معرفاً بالقاعدة ت (س) = س^{٣} – ٨ ، فاثبت أن ت تقابل ، ثم أوجد قاعدة ت$^{-١}$.

[٦] أوجد قاعدة التطبيق العكسي لكل من التطبيقين التاليين والمعرفة من ح ← ح :

أ) ت$_{١}$ (س) = $\frac{١}{٢}$ س + ٨ . ب) ت$_{٢}$ (س) = ٦ – ٥ س .

٢ : ٥ تـــركيـــب تطبيقـــين

لتكن س = { ١ ، ٢ ، ٣ } ، ص = { ١ ، ٢ ، ٣ ، ٤ } ، ع = { ٣ ، ٤ ، ٥ ، ٦ } .

تأمل التطبيقين ت : س ← ص ، و : ص ← ع التاليين شكل (٢ – ٢٤ أ ، ب) .

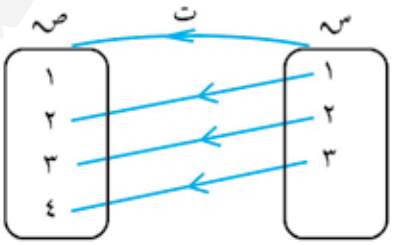

شكل (٢ – ٢٤ أ)

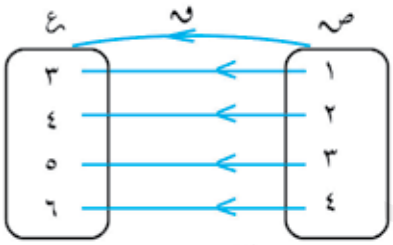

شكل (٢ – ٢٤ ب)

تلاحظ أن مدى التطبيق الأول (ت) مجموعة جزئية من مجال التطبيق الآخر (و) .

كما نجد أن : ت (١) = ٢ ، و (٢) = ٤

ت (٢) = ٣ ، و (٣) = ٥

ت (٣) = ٤ ، و (٤) = ٦

ويمكن من تركيب التطبيقين أن نحصل على المخطط التالي (شكل ٢ – ٢٥) .

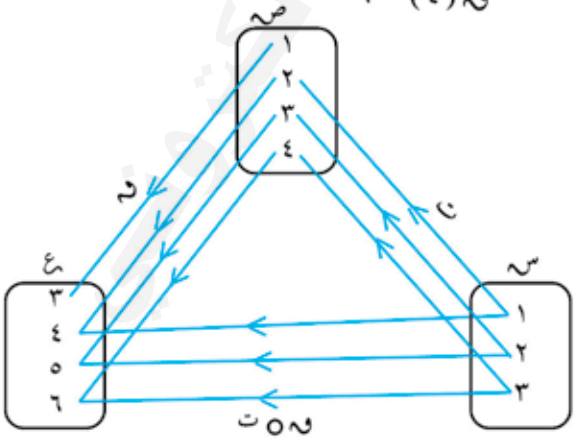

شكل (٢ – ٢٥)

http://Yaman.E-learning-moe.edu.ye

فيكون لدينا تطبيق جديد مجاله $س_{هـ}$ ، و مجاله المقابل $ع$ معرفاً على النحو التالي :

١ ← ٤ ، ٢ ← ٥ ، ٣ ← ٦ .

فالتطبيق الناتج من تركيب التطبيقين ت ، $و_{هـ}$ يسمى تركيب التطبيقين ، ويرمز له بالرمز : $و_{هـ} \circ$ ت ، ويُقرأ « التطبيق $و_{هـ}$ تركيب ت » يكتب بالشكل التالي :

$(و_{هـ} \circ ت)(س) = و_{هـ}(ت(س))$.

فمثلاً : $(و_{هـ} \circ ت)(١) = و_{هـ}(ت(١)) = و_{هـ}(٢) = ٤$.

$(و_{هـ} \circ ت)(٢) = و_{هـ}(ت(٢)) = و_{هـ}(٣) = ٥$.

$(و_{هـ} \circ ت)(٣) = و_{هـ}(ت(٣)) = و_{هـ}(٤) = ٦$.

تعريف (٢ : ٧)

تركيب التطبيقين ت : $س_{هـ} \leftarrow ص_{هـ}$ ، $و_{هـ}$: $ص_{هـ} \leftarrow ع$ هو التطبيق $(و_{هـ} \circ ت)$: $س_{هـ} \leftarrow ع$ والمعرّف بالقاعدة : $(و_{هـ} \circ ت)(س) = و_{هـ}(ت(س))$ لكل $س \in س_{هـ}$.

وبهذا نتذكر دائماً أن $و_{هـ} \circ ت$ لايتم إلا إذا كان مدى التطبيق ت مجموعة جزئية من مجال $و_{هـ}$.

مثال (٢-٢٣) لتكن $س_{هـ} = \{١ ، ٢ ، ٣\}$ ، $ص_{هـ} = \{٥ ، ٦ ، ٧ ، ٨\}$ ، $ع = \{١ ، ٢ ، ٣ ، ٤\}$ ، والتطبيق د : $س_{هـ} \leftarrow ص_{هـ}$ حيث $د(١) = ٥$ ، $د(٢) = ٦$ ، $د(٣) = ٧$ ، والتطبيق $ر$: $ص_{هـ} \leftarrow ع$ حيث: $ر(٥) = ١$ ، $ر(٦) = ٣$ ، $ر(٧) = ٢$ ، $ر(٨) = ٤$.

أ) أوجد $(ر \circ د)(٢)$. ب) هل التركيب $(ر \circ د)$ أو $(د \circ ر)$ ممكناً؟

الحـــل

أ) حسب التعريف : $(ر \circ د)(٢) = ر(د(٢)) = ر(٦) = ٣$.

ب) لكي يتم تركيب $(ر \circ د)$ لابد أن يكون مدى د $\subset$ مجال التطبيق $ر$ ، نوجد : مدى التطبيق د $= \{٥ ، ٦ ، ٧\}$ ، مجال التطبيق $ر = \{٥ ، ٦ ، ٧ ، ٨\}$.

∴ مدى التطبيق د مجموعة جزئية من مجال التطبيق $ر$ ، $(ر \circ د)$ ممكنٌ .

ولكن $(د \circ ر)$ غير ممكن لأن مدى التطبيق $ر$ ($\{١ ، ٢ ، ٣ ، ٤\}$) ليس مجموعة جزئية من مجال التطبيق د ($\{١ ، ٢ ، ٣\}$) .

مثال (٢ - ٢٤) ليكن ت ، $و_{هـ}$ ، $ر$ تطبيقات معرفة من ط ← ط حيث $ت(س) = ٣س$ ، $و_{هـ}(س) = س + ٢$ ، $ر(س) = س$. أوجد كلاً من ، (وماذا تستنتج؟):

أ) $(و_{هـ} \circ ت)(س)$ ، $(ت \circ و_{هـ})(س)$. ب) $(و_{هـ} \circ ر)(س)$ ، $(ر \circ و_{هـ})(س)$.

جـ) $[و_{هـ} \circ (ت \circ ر)](س)$ ، $[(و_{هـ} \circ ت) \circ ر](س)$.

http://E-learning-moe.edu.ye

الحـــل

أ) بما أن ت (س) = ٣ س ، ق (س) = س + ٢ .

∴ (ق ○ ت) (س) = ق (ت (س)) = ق (٣ س) = ٣ س + ٢ .

بالمثل (ت ○ ق) (س) = ت (ق (س)) = ت (س + ٢) = ٣ (س + ٢) .

يلاحظ أن تركيب التطبيقين غير تبديلي .

ب) (ق ○ ر) (س) = ق (ر (س)) = ق (س) = س + ٢ .

(ر ○ ق) (س) = ر (ق (س)) = ر (س + ٢) = س + ٢ .

يلاحظ أن تركيب التطبيقين تبديلي .

من (أ) ، (ب) نستنتج أن تركيب التطبيقين بصفة عامة غير تبديلي .

جـ) [ق ○ (ت ○ ر)] (س) = ق ○ [ت (ر (س))] = ق ○ [ت (س)]

= ق (ت (س)] = ق (٣ س) = ٣ س + ٢

[(ق ○ ت) ○ ر] (س) = (ق ○ ت) (ر (س)) = (ق ○ ت) (س)

= ق (ت (س)) = ق (٣س) = ٣س + ٢ .

مما سبق نستنتج أن : [ق ○ (ت ○ ر)] (س) = [(ق ○ ت) ○ ر] (س) .

أي أن تركيب التطبيقات تجميعي .

مثال (٢ - ٢٥) ليكن $ر_1$: ح ← ح حيث $ر_1$ (س) = ٢ س ،

$ر_2$: ح ← ح حيث $ر_2$ (س) = س − ١ ، أوجد ما يلي:

(١) ($ر_1$ ○ $ر_2$) (٢س) (٢) ($ر_2$ ○ $ر_1$) (٣)

الحـــل

(١) ($ر_1$ ○ $ر_2$) (٢ س) = $ر_1$ ($ر_2$ (٢س)) = $ر_1$ (٢س − ١) = ٢ (٢س − ١) = ٤س − ٢

(٢) ($ر_2$ ○ $ر_1$) (٣) = $ر_2$ [$ر_1$ (٣)] = $ر_2$ (٦) = ٦ − ١ = ٥ .

تمارين ومسائل (٢ - ٥)

[١] لتكن س = { ٢ ، ٤ ، ٦ } ، ص = { ١ ، ٨ ، ١٠ } ، ع = { ١١ ، ١٣ } ، $ق_1$ ، $ق_2$ تطبيقين معرفين على النحو التالي :

$ق_1$: س ← ص بحيث $ق_1$ (٢) = ٨ ، $ق_1$ (٤) = ١٠ ، $ق_1$ (٦) = ١ .

$ق_2$: ص ← ع بحيث $ق_2$ (١) = ١١ ، $ق_2$ (٨) = ١٣ ، $ق_2$ (١٠) = ١١ .

أ) هل ممكن تركيب $ق_2$ $ق_1$ أم $ق_1$ $ق_2$. ب) اكتب مجال $ق_2$ $ق_1$ ، ثم أوجد مداه.

جـ) ارسم مخططه السهمي .

http://Yaman.E-learning-moe.edu.ye

[٢] لتكن س = { ٣ ، ٥ ، ٧ ، ٩ } و ق ، هـ تطبيقين من س ← س معرفين بالمخططين السهمين:

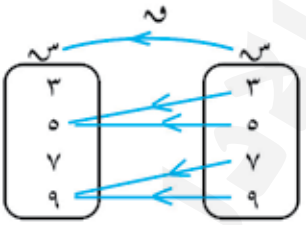

شكل (٢ – ٢٦ أ)

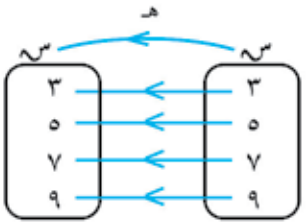

شكل (٢ – ٢٦ ب)

أ) أوجد (ق ○ هـ) (٣) ، (هـ ○ ق) (٧) . ب) ارسم مخططاً سهمياً للتطبيق (ق ○ هـ).

جـ) هل (ق ○ هـ) (٩) = (هـ ○ ق) (٩) ؟ بيّن ذلك .

[٣] لتكن ر ، ق ، ت ثلاث تطبيقات من ح ← ح معرفه على النحو التالي :

ر (س) = ٣ س ، ق (س) = س + ١ ، ت (س) = ٣ س + ١

أوجد أ) (ر ○ ق) (٥) ب) (ق ○ ر) (−٣) جـ) (ر ○ ر) (٦)

د) (ت ○ ق) (٢س) هـ) (ر ○ ت) (م + ١) و) [ر ○ ق ○ ت] (٢) .

[٤] إذا كان ت١ : ط ← ط حيث ت١ (س) = ٢ س ، ت٢ : ص ← ص ؛ حيث ت٢ (س) = س٢ .

أ) أوجد صور العناصر ٢ ، ٥ ، س + ٣ في التطبيق (ت١ ○ ت٢) ، (ت٢ ○ ت١) .

ب) هل تركيب ت١ ، ت٢ غير تبديلي ؟ بين ذلك .

[٥] إذا كان ق : ح ← ح ، هـ : ح ← ح حيث ق (س) = ٥ س + ١ ، هـ (س) = س٢ . استنتج قواعد

(ق ○ هـ) (س) ، (هـ ○ ق) (س)

[٦] لتكن د : ح ← ح حيث د (س) = ٢ س + ١ ، هـ : ح ← ح حيث هـ (س) = ٥ س + ٧ ،

أوجد أ) (هـ$^{-١}$ ○ د$^{-١}$) (س) . ب) (د ○ هـ) (س + ١) .

http://E-learning-moe.edu.ye

٣ : ١ القـــوى الصحيحة

أولاً – القوى الصحيحة الموجبة :

تعلم أنه $\forall$ ا $\in$ ح ، د $\in$ صـ$^{+}$ فإن الرمز ا^{د} يعني ضرب العدد ا في نفسه د مرة .

أي أن : ا^{د} = ا × ا × ا × ... × ا ، وتُقرأ ا أس د ، ويُطلق على العدد ا (الأساس) والعدد د (الأس) والرمز ا^{د} مكررة د مرة (القوة د للعدد ا) أو باختصار القوة .

فالقوة الرابعة للعدد ٣ هي : ٣^{٤} = ٣ × ٣ × ٣ × ٣ = ٨١ .

وسبق لك دراسة قوانين الأسس الصحيحة الموجبة ، نلخصها فيما يلي :

$\forall$ ا ، ب $\in$ ح ، م ، د $\in$ صـ يكون :

١) ا^{م} × ا^{د} = ا$^{م+د}$.

٢) $\frac{ا^{م}}{ا^{د}}$ = ا$^{م-د}$ حيث ا $\neq$ ٠ ، م $>$ د .

٣) (ا^{م})^{د} = ا$^{م د}$.

٤) (ا × ب)^{د} = ا^{د} × ب^{د} .

٥) $(\frac{ا}{ب})^{د} = \frac{ا^{د}}{ب^{د}}$ حيث ب $\neq$ ٠ .

نتائج : من القانون أعلاه يمكننا استنتاج الحالات الخاصة التالية :

١) إذا كان ا $\neq$ ٠ ، م $<$ د فإن $\frac{ا^{م}}{ا^{د}} = \frac{١}{ا^{د-م}}$

٢) إذا كان ا $\neq$ ٠ ، م = د فإن $\frac{ا^{د}}{ا^{د}} = ا^{٠} = ١$.

http://Yaman.E-learning-moe.edu.ye

وذلك لأن: $\frac{\text{أ}^{\text{ن}}}{\text{أ}^{\text{ن}}} = \text{أ}^{\text{ن}-\text{ن}} = \text{أ}^{٠}$ (بتطبيق (٢)) .

ولكن: $\frac{\text{أ}^{\text{ن}}}{\text{أ}^{\text{ن}}} = ١$ (لأن البسط يساوى المقام) .

لذا فإن: $\boxed{\forall\ \text{أ} \in \text{ح}^{*} \text{ فإن } \text{أ}^{٠} = ١ .}$

أي إذا رفعنا أي عدد غير الصفر إلى الأس صفر فإن الناتج يساوي الواحد الصحيح.

فمثلاً : $٩^{٠} = ١$ ، $(٢\text{س})^{٠} = ١$ ، $(٣\text{س} - ٤)^{٠} = ١$.

مثال (٣ - ١) ضع كلاً مما يأتي في أبسط صورة:

١) $٣^{٢} \times ٣^{٤}$.

٢) $\frac{٥\text{ب}^{١٢}}{٥\text{ب}^{٤}}$ ، $\text{ب} \neq ٠$.

٣) $(\text{س}^{٣})^{٥}$.

٤) $(٢\text{أب})^{٤}$.

٥) $\frac{١٢٥ \times (٢٥^{٢})^{٣}}{٥^{٤} \times (٢٥)^{٤}}$

الحـــل

١) $٣^{٢} \times ٣^{٤} = ٣^{٢+٤} = ٣^{٦}$.

٢) $\frac{٥\text{ب}^{١٢}}{٥\text{ب}^{٤}} = ٥^{١-١}\text{ب}^{١٢-٤} = ٥^{٠}\text{ب}^{٨} = \text{ب}^{٨}$.

٣) $(\text{س}^{٣})^{٥} = \text{س}^{٥\times٣} = \text{س}^{١٥}$.

٤) $(٢\text{أب})^{٤} = ٢^{٤} \times \text{أ}^{٤} \times \text{ب}^{٤} = ١٦\text{أ}^{٤}\text{ب}^{٤}$.

٥) $\frac{١٢٥ \times (٢٥^{٢})^{٣}}{٥^{٤} \times (٢٥)^{٤}} = \frac{٥^{٣} \times (٥^{٤})^{٣}}{٥^{٤} \times (٥^{٢})^{٤}} = \frac{٥^{٣} \times ٥^{١٢}}{٥^{٤} \times ٥^{٨}} = \frac{٥^{٣+١٢}}{٥^{٤+٨}} = \frac{٥^{١٥}}{٥^{١٢}} = ٥^{١٥-١٢} = ٥^{٣}$.

مثال (٣ - ٢) ضع المقدار الآتي في أبسط صورة :

$$\frac{٨^{٢\text{م}+١}}{(٤^{\text{م}})^{\text{م}+١}} \div \frac{٤^{\text{م}+٢}}{(٤)^{\text{م}^{٢}}} .$$

الحـــل

$$\frac{٨^{٢\text{م}+١}}{(٤^{\text{م}})^{\text{م}+١}} \div \frac{٤^{\text{م}+٢}}{(٤)^{\text{م}^{٢}}} = \frac{(٢^{٣})^{٢\text{م}+١}}{(٢^{٢\text{م}})^{\text{م}+١}} \times \frac{(٢^{٢})^{\text{م}^{٢}}}{(٢^{٢})^{\text{م}+٢}} = \frac{٢^{٦\text{م}+٣} \times ٢^{٢\text{م}^{٢}}}{٢^{٢\text{م}^{٢}+٢\text{م}} \times ٢^{٢\text{م}+٤}}$$

$$= ٢^{٦\text{م}+٣+٢\text{م}^{٢}-٢\text{م}^{٢}-٢\text{م}-٢\text{م}-٤} = ٢^{٢\text{م}-١} .$$

http://E-learning-moe.edu.ye

تأمل ما يأتي :

$$\frac{أ^{٣}}{أ^{٥}} = \frac{\cancel{أ} \times \cancel{أ} \times \cancel{أ}}{أ \times أ \times \cancel{أ} \times \cancel{أ} \times \cancel{أ}} = \frac{١}{أ \times أ} = \frac{١}{أ^{٢}} .$$

ولو طبقنا قانون قسمة القوى المتحدة الأساسات نجد أن : $\frac{أ^{٣}}{أ^{٥}} = أ^{٣-٥} = أ^{-٢}$.

مما سبق نستنتج أن : $أ^{-٢} = \frac{١}{أ^{٢}}$ ، وهذا يوضح لنا معنى القوة ذات الأس السالب .

وبصورة عامة :

$$\forall\ أ \in ح^{*} \ ، \ د \in ص^{+} \ ، \ فإن \ أ^{-د} = \frac{١}{أ^{د}} .$$

نتائج :

١) $أ^{د} = \frac{١}{أ^{-د}}$ ، $\forall\ أ \in ح^{*}$.

٢) $(\frac{أ}{ب})^{-د} = (\frac{ب}{أ})^{د}$ ، $\forall\ أ ، ب \in ح^{*}$ ، $د \in ص^{+}$.

أي أن : إذا انتقلت قوة العدد من البسط إلى المقام أو العكس فإن إشارة الأس تتغير .

مثال (٣ - ٣) اكتب ما يأتي بأس موجب :

١) $أ^{-٤}$. ٢) $(\sqrt{٢٧})^{-١}$. ٣) $-ب^{-٣}$.

الحـــل

١) $أ^{-٤} = \frac{١}{أ^{٤}}$. ٢) $(\sqrt{٢٧})^{-١} = \frac{١}{\sqrt{٢٧}}$.

٣) $-ب^{-٣} = -\frac{١}{ب^{٣}}$.

مثال (٣ - ٤) ضع كلاً مما يأتي في أبسط صورة :

١) $(\frac{٢}{٧})^{-٣} \times (\frac{٢}{٣})$ ٢) $\frac{س^{٢} \times ص^{-٤} \times ل^{-٤}}{ل \times (س ص)^{-٤}}$

http://Yaman.E-learning-moe.edu.ye

الحـــل

١) $\left(\frac{٢}{٣}\right)^{-٣} \times \left(\frac{٣}{٢}\right)^{-٢} = \left(\frac{٣}{٢}\right)^{٣} \times \left(\frac{٣}{٢}\right)^{-٢} = \left(\frac{٣}{٢}\right)^{٣-٢} = \frac{٣}{٢}$.

٢) $\frac{س^{٢} \times ص^{-٤} \times ل^{-٤}}{ل \times (س ص)^{-٤}} = \frac{س^{٢} (س ص)^{٤}}{ل \times ص^{٤} \times ل^{٤}} = \frac{س^{٢} \times س^{٤} \times ص^{٤}}{ل^{٥} \times ص^{٤}} = \frac{س^{٦}}{ل^{٥}}$.

مثال (٣ – ٥) بسط ما يأتي :

١) $[(-٣)^{-٢} \times (-٣)^{-١}]^{٢}$. ٢) $\left(\frac{٥^{-١} \times ٥^{-١}}{٢^{٤} \times ٣^{٣}}\right)\left(\frac{٢^{-٢} \times ٣^{-١}}{٥^{٢} \times ٥^{٢}}\right)^{-١}$.

الحـــل

١) $[(-٣)^{-٢} \times (-٣)^{-١}]^{٢} = (-٣)^{-٤} \times (-٣)^{-٢} = (-٣)^{-٤-٢} = (-٣)^{-٦} = \frac{١}{(-٣)^{٦}} = \frac{١}{٣^{٦}} = \frac{١}{٧٢٩}$.

٢) $\left(\frac{٥^{-١} \times ٥^{-١}}{٢^{٤} \times ٣^{٣}}\right) \times \left(\frac{٢^{-٢} \times ٣^{-١}}{٥^{٢} \times ٥^{٢}}\right)^{-١} = \frac{٥^{-٢}}{٢^{٤} \times ٣^{٣}} \times \frac{(٢^{-٢} \times ٣^{-١})^{-١}}{(٥^{٤})^{-١}}$

$= \frac{٥^{-٢} \times ٢^{٢} \times ٣^{١}}{٢^{٤} \times ٣^{٣} \times ٥^{-٤}} = ٥^{-٢+٤} \times ٢^{٢-٤} \times ٣^{١-٣} = ٥^{٢} \times ٢^{-٢} \times ٣^{-٢} = \frac{٢٥}{٢^{٢} \times ٣^{٢}} = \frac{٢٥}{٣٦}$.

مثال (٣ – ٦) اختصر لأبسط صورة :

$$\frac{٢^{ن+٣} + ١٢ \times ٢^{ن}}{٣ \times ٢^{ن+٣} - ٦٤ \times ٢^{ن-٤}} .$$

الحـــل

$$\frac{٢^{ن+٣} + ١٢ \times ٢^{ن}}{٣ \times ٢^{ن+٣} - ٦٤ \times ٢^{ن-٤}} = \frac{٢^{ن+٣} + ٢^{٢} \times ٣ \times ٢^{ن}}{٣ \times ٢^{ن+٣} - ٢^{٦} \times ٢^{ن-٤}}$$

$$= \frac{٢^{ن+٣} + ٣ \times ٢^{ن+٢}}{٣ \times ٢^{ن+٣} - ٢^{ن+٢}} = \frac{٢^{ن+٢} (٢ + ٣)}{٢^{ن+٢} (٣ \times ٢ - ١)} = \frac{٥}{٥} = ١$$

http://E-learning-moe.edu.ye

تمارين ومسائل (٣ - ١)

[١] صوّب الأخطاء في إجابة كل مما يلي : (حيث المقامات لاتساوى صفراً) :

أ) $س^{٢} \times س^{٤} = س^{٨}$.

ب) $(ص^{٢})^{٥} = ص^{٧}$.

جـ) $\frac{ب^{٦}}{ب^{٢}} = ب^{٣}$.

د) $\frac{س^{٢}}{س^{٦}} = س^{٤}$.

هـ) $(٢س)^{٤} = ٢س^{٤}$.

و) $(\frac{٤}{٣})^{٤} = \frac{٤}{٤^{٣}}$.

[٢] بسط ما يلي : (حيث المقامات لاتساوى صفر) :

أ) $(-\frac{١}{٢})^{٤} (-\frac{١}{٢})^{٣}$.

ب) $(ص^{٤})^{٢ د}$.

جـ) $-(\frac{س}{ص})^{٣}$.

د) $(س^{٣})^{٥} \times س^{٤}$.

هـ) $(-٢س^{٢})^{٥}$.

و) $\frac{س^{د}}{س^{د+٢}}$.

ز) $(-٥س^{٣})(-٦س^{٥})$.

ح) $(\frac{٣}{٢} س^{٢} ص^{٣})^{د}$.

ط) $(١٢ أ + ١)^{٣} (١٢ أ + ١)^{٧}$.

ى) $\frac{٢ س^{٤} ص^{-٢}}{س^{٢} ص^{-٣}}$.

[٣] ضع كلاً مما يأتي في أبسط صورة ، (حيث المقامات لاتساوى صفراً) :

أ) $(-\frac{١}{٢} س^{٣} ص^{-٤})^{-٣}$.

ب) $(\frac{١٢ أ^{٢} ب^{-٤}}{أ^{-٣} جـ^{-٣}})^{٢}$.

جـ) $(١٢ ل^{٣})^{٤} \div (٤ ل^{٢})^{٥}$.

د) $س^{١٤} ص^{١٢} \div س^{٥} ص^{٥}$.

هـ) $(جـ^{٣})^{٢} (ب جـ^{-١})^{٥} \times (\frac{جـ}{ب})^{٤}$.

و) $(\frac{ب^{-٢}}{جـ^{-٢}})^{-٣} \times جـ^{١٢}$.

ز) $(\sqrt{٢٧})^{-٢} \times (\sqrt{٢٧})^{-٥} \times (\sqrt{٢٧})^{٩}$.

ح) $(٢ أ ب)^{٣} \div ٢ أ^{٢} ب^{٢}$.

ط) $(\frac{٤ س^{٢} ص^{٣} ع^{-٢}}{١٢ س^{٥} ص^{-٢} ع^{٠}})^{-٣}$.

http://Yaman.E-learning-moe.edu.ye

[٤] بسط ما يأتي ، علماً بأن المقامات لاتساوى صفراً :

أ) $\frac{٢^{٤} \times ١٥^{٣} \times (-٥٤)}{(-٣)^{٢} \times ٢٥ \times ٦^{٣}}$.

ب) $\frac{(-٢)^{٤} \times (-٥)^{٣} \times (-٣)^{٢}}{(-٦)^{٢} \times (-١٥)^{٣}}$.

جـ) $\frac{٣^{-١}}{(-٢س + ١)^{٠}}$.

ء) $(س ص)^{٠} - ٢^{-١}$ ، $س ص \neq ٠$.

هـ) $(س^{٢} ص^{-٤})^{-٣} \times (س ص^{٣} ع^{٤})^{-٢}$.

و) $\frac{س^{ن} \times ص^{٢ن+١}}{س^{ن-٣} \; ص^{ن-٤}}$.

[٥] اختصر كلاً مما يأتي إلى ابسط صورة :

أ) $\frac{٥^{ن+٢} + ٥^{ن+١}}{٥^{ن} - ٥^{ن+٢}}$.

ب) $\frac{٦^{٤م-١} \times ٢٧^{٢م}}{٢^{م+١} \times ٨^{م-١} \times ٩^{م+٢}}$.

جـ) $\frac{٢^{ن+١} \times ٣^{س-٥} + ٢^{ن-٢} \times ٣^{س-٤}}{٢^{ن} \times ٣^{س-٣} + ٢^{ن-٢} \times ٣^{س-٤}}$.

ء) $\frac{٤^{٢ن} + ٢^{٤ن+٣}}{٥ \times ٢^{٤ن} - ٤^{٢ن+١}}$.

[٦] ضع المقدار الآتي في أبسط صورة ، ثم أوجد قيمته عندما م = ٢

$\frac{٩^{٢م+١}}{(٣^{م})^{م+١}} \div \frac{٣^{م+٤}}{(٣)^{م^{٢}}}$.

[٧] بسط ما يأتي ، ثم أوجد قيمة المقدار عندما س = ١

$\frac{(٤^{س})^{٢} \times (٤)^{س+٢}}{(١٦)^{٢} \times (٢)^{٢س}}$

[٨] أثبت أن :

$\frac{٥^{م+٢} + ٥٠ \times ٥^{م}}{٢ \times ٥^{م+٢} - ٦٢٥ \times ٥^{م-٣}} = \frac{٥}{٣}$.

[٩] اختر الإجابة الصحيحة في كل مما يلي :

أ) $\frac{أ^{-٢}}{ب^{-٢}} + \left(\frac{أ}{ب}\right)^{-٢}$.

(١) $\frac{٢أ^{٢}}{ب^{٢}}$.

(٢) صفر .

(٣) $\frac{٢ب^{٢}}{أ^{٢}}$.

(٤) $\frac{ب^{٢}}{أ^{٢}}$.

http://E-learning-moe.edu.ye

ب) المقدار : ٢ (٢)$^{س-١}$ + ٥ (٢)^{س} + ٢$^{س+١}$ =

١) ٢^{س} . ٢) ٢$^{س+١}$.

٣) ٢$^{س+٣}$. ٤) ٢$^{س+٢}$.

جـ) $\forall$ ا $\in$ ح* فإن (ا$^{-١}$)$^{-١}$ يساوى :

١) كمية غير معرفة . ٢) −١ .

٣) صفر . ٤) ١ .

٣ : ٢ الجـذور والأسـس النسـبية

الجذور النونية :

نعلم أنه للحصول على القوة الرابعة للعدد ٣ مثلاً نضرب العدد ٣ في نفسه ٤ مرات فنجد أن : ٣^{٤} = ٨١ .

وإن العملية العكسية لذلك أي البحث عن عدد إذا ضرب في نفسه ٤ مرات يعطي ٨١ تسمى عملية « ايجاد الجذر » ونقول إن الجذر الرابع للعدد ٨١ هو ٣ .

وبصورة عامة :

تعريف (٣ : ١)

$\forall$ ا ، ب $\in$ ح و ن $\in$ ط ، ن > ١ إذا كان ب^{ن} = ا ، فإن ب = $\sqrt[ن]{ا}$

وتقرأ الجذر النوني للعدد ا .

وسبق أن عرفت أن الجذر التربيعي للعدد ٤٩ هو ٧ ؛ حيث (٧)^{٢} = ٤٩ .

∴ العدد ٧ هو الجذر التربيعي للعدد ٤٩ ، ويرمز له بالرمز $\sqrt{٤٩}$.

كما يدل الرمز $\sqrt[٣]{٢٧}$ على الجذر التكعيبي للعدد ٢٧ ، وقيمته ٣ ؛ حيث إن : (٣)^{٣} = ٢٧ ، وبذلك فإن $-\sqrt[٣]{٢٧}$ = −٣ لأن (−٣)^{٣} = −٢٧ والرمز $\sqrt[٤]{١٦}$ يدل على الجذر الرابع للعدد ١٦ ، وقيمته ٢ ؛ حيث إن (٢)^{٤} = ١٦ .

أما $-\sqrt[٤]{١٦}$ فليس عدداً حقيقياً حيث لايوجد عدد حقيقي س بحيث س^{٤} = −١٦ .

http://Yaman.E-learning-moe.edu.ye

تعريف (٣ : ٢)

١- $\forall$ أ $\in$ ح$^+$ ، د $\in$ ط ، د عدداً زوجياً د $\geq$ ٢ فإن الجذر النوني الموجب للعدد أ يرمز له بالرمز $\sqrt[د]{أ}$ ، وهو عدد حقيقي غير سالب يساوي ب حيث : ب^د = أ .

٢- $\forall$ أ $\in$ ح ، د $\in$ ط ، د عدداً فردياً د > ٢ فإن الجذر النوني للعدد أ يرمز له بالرمز $\sqrt[د]{أ}$ وهو عدد حقيقي ب ؛ حيث : ب^د = أ .

في التعبير $\sqrt[د]{أ}$ نسمي أ « المجذور » ، د « دليل الجذر » .

ملاحظة : في حالة الجذر التربيعي فقط يستغنى عن كتابة دليل الجذر فنكتب : $\sqrt{٤٩}^٢ = \sqrt{٤٩} = ٧$.

مثال (٣ - ٧) أوجد قيمة كل مما يأتي :

١) $\sqrt{١٦}$. ٢) $-\sqrt{٨١}$. ٣) $\sqrt[٣]{١٢٥}$.

٤) $\sqrt[٤]{٦٢٥}$. ٥) $-\sqrt[٤]{٢٤٣}$. ٦) $-\sqrt[٥]{٢٤٣}$.

الحـــل

١) العدد ١٦ > ٠ ، وحيث إن $(٤)^٢ = ١٦$ فإن $\sqrt{١٦} = ٤$.

٢) العدد $-٨١ < ٠$ ، وعليه فإن $-\sqrt{٨١} \notin$ ح . (لايوجد عدد حقيقي مربعه سالب) .

٣) $\sqrt[٣]{١٢٥} = ٥$ ؛ لأن $٥^٣ = ١٢٥$.

٤) $\sqrt[٤]{٦٢٥} = ٥$ ؛ لأن $٥^٤ = ٦٢٥$.

٥) $-\sqrt[٤]{٢٤٣} \notin$ ح (لايوجد عدد حقيقي مرفوع لأس زوجي يساوى كمية سالبة) .

٦) $-\sqrt[٥]{٢٤٣} = -٣$ ؛ لأن $(-٣)^٥ = -٢٤٣$.

الجذور الصماء : هي الجذور التي لايمكن كتابتها بصورة عدد نسبي ، فمثلاً :

$\sqrt{٥}$ ، $\sqrt{٨}$ ، $\sqrt[٤]{٧}$ ، $-\sqrt{٤}$.

http://E-learning-moe.edu.ye

الأسس النسبية :

تأمل المعادلة : $أ^{\frac{1}{3}} = ب$ ..... (١) .

عند رفع طرفي المعادلة (١) إلى القوة الثالثة نحصل على : $(أ^{\frac{1}{3}})^{3} = ب^{3}$.

وباستخدام خواص القوى نجد أن : $أ^{\frac{1}{3} \times 3} = ب^{3}$. ∴ $أ = ب^{3}$.

وحيث إن $ب^{3} = أ$ ، فإن الجذر التكعيبي هو $ب = \sqrt[3]{أ}$ ..... (٢)

من (١) ، (٢) نحصل على $أ^{\frac{1}{3}} = \sqrt[3]{أ}$.

تعريف (٣ : ٣)

$\forall أ \in ح$ ، $د \in ط$ ، $د > ١$ فإن : $أ^{\frac{1}{د}} = \sqrt[د]{أ}$. حيث $\sqrt[د]{أ} \in ح$.

مثال (٣ - ٨) احسب كلاً مما يأتي :

١) $٣٦^{\frac{1}{2}}$. ٢) $١٦^{\frac{1}{4}}$. ٣) $٨^{\frac{1}{3}}$.

٤) $(-٢٧)^{\frac{1}{3}}$. ٥) $(٣٢)^{\frac{1}{5}}$.

الحـــل

١) $٣٦^{\frac{1}{2}} = \sqrt{٣٦} = ٦$. ٢) $١٦^{\frac{1}{4}} = \sqrt[4]{١٦} = ٢$.

٣) $٨^{\frac{1}{3}} = \sqrt[3]{٨} = ٢$. ٤) $(-٢٧)^{\frac{1}{3}} = \sqrt[3]{-٢٧} = -٣$.

٥) $(٣٢)^{\frac{1}{5}} = \sqrt[5]{٣٢} = ٢$.

والآن كيف يمكننا أن نعبر عن العدد $أ^{\frac{م}{د}}$ ؛ حيث م ، د أعداد صحيحة موجبة ، أ عدد حقيقي والجذر النوني للعدد أ أيضاً عدد حقيقي .

قبل أن نعبر عن العدد $أ^{\frac{م}{د}}$ سوف نضع شرطاً على الكسر $\frac{م}{د}$ هو $\frac{م}{د}$ يكتب في أبسط صورة .

أي أن م ، د عددان أوليان (العامل المشترك الوحيد بينهما هو الواحد) كذلك نستطيع أن نكتب الكسر $\frac{م}{د}$ كالآتي : $\frac{م}{د} = \frac{١}{د} \cdot م$.

http://Yaman.E-learning-moe.edu.ye

تعريف (٣ : ٤)

$\forall$ أ $\in$ ح ، م ، د $\in$ صـ$^{+}$ عددان أوليان وكان $\sqrt[د]{أ} \in$ ح فإن :

$أ^{\frac{م}{د}} = (أ^{\frac{١}{د}})^{م}$ أو $أ^{\frac{م}{د}} = \sqrt[د]{أ^{م}}$.

أي أن كل قوة أسها كسر يمكن النظر إليها على أنها جذراً للعدد المجذور حيث بسط الأس الكسري هو أس العدد المجذور ومقام الأس الكسري هو دليل الجذر .

ملاحظة : لاحظ أنه يمكن كتابة الكسر :

$\frac{م}{د} = \frac{١}{د} \cdot م = م \cdot \frac{١}{د}$. فإن $(أ^{\frac{١}{د}})^{م} = (أ^{م})^{\frac{١}{د}}$ ويمكن كتابة العدد $أ^{\frac{م}{د}}$ بالصورة $(\sqrt[د]{أ})^{م} = \sqrt[د]{أ^{م}}$.

مثال (٣ - ٩) عبّر عما يلي بصورة جذرية ، حيث المتغيرات أعداد حقيقية غير سالبة :

١) $ص^{\frac{٣}{٤}}$. ٢) $أ^{\frac{٢}{٣}}$. ٣) $ب^{\frac{٤}{٥}}$.

الحـــل

١) $ص^{\frac{٣}{٤}} = (\sqrt[٤]{ص})^{٣}$ أو $\sqrt[٤]{ص^{٣}}$.

٢) $أ^{\frac{٢}{٣}} = (\sqrt[٣]{أ})^{٢}$ أو $\sqrt[٣]{أ^{٢}}$.

٣) $ب^{\frac{٤}{٥}} = (\sqrt[٥]{ب})^{٤}$ أو $\sqrt[٥]{ب^{٤}}$.

مثال (٣ - ١٠) عبّر عما يلي بصورة جذرية ، وبسّط ذلك – إن أمكن – :

١) $٢٧^{\frac{٢}{٣}}$. ٢) $(-٨)^{\frac{٢}{٣}}$. ٣) $-٨^{\frac{٢}{٣}}$. ٤) $(٢٥)^{\frac{٣}{٢}}$.

الحـــل

١) $٢٧^{\frac{٢}{٣}} = (\sqrt[٣]{٢٧})^{٢} = (٣)^{٢} = ٩$ أو $٢٧^{\frac{٢}{٣}} = \sqrt[٣]{٢٧^{٢}} = \sqrt{٧٢٩} = ٩$.

٢) $(-٨)^{\frac{٢}{٣}} = (\sqrt[٣]{-٨})^{٢} = (-٢)^{٢} = ٤$.

٣) $-٨^{\frac{٢}{٣}} = -(\sqrt[٣]{٨})^{٢} = -(٢)^{٢} = -٤$.

٤) $٢٥^{\frac{٣}{٢}} = (\sqrt{٢٥})^{٣} = ٥^{٣} = ١٢٥$.

http://E-learning-moe.edu.ye

لاحظ أنه باستخدام القوى الصحيحة ومفهوم $أ^{\frac{م}{د}}$ يمكن التوصل إلى النتيجة التالية .

نتيجة : $\forall$ أ $\in$ ح* ، م ، د $\in$ صـ+ إذا كان $\sqrt[د]{أ^{م}} \in$ ح فإن : $أ^{-\frac{م}{د}} = \frac{1}{أ^{\frac{م}{د}}}$.

فمثلاً : $١٦^{-\frac{٣}{٤}} = \frac{1}{١٦^{\frac{٣}{٤}}} = \frac{1}{(\sqrt[٤]{١٦})^{٣}} = \frac{1}{٢^{٣}} = \frac{1}{٨}$.

في تعريفنا السابق الخاص بالأسس النسبية اشترطنا أن يكون م ، د عددين أوليين فيما بينهما . المثال الآتي يوضّح ماذا يحدث إذا كان م ، د لهما عامل مشترك ٢ والمجذور عدد سالب .

لنأخذ التعبير $(-٤)^{\frac{٢}{٤}}$: فإن $[(-٤)^{٢}]^{\frac{١}{٤}} = \sqrt[٤]{١٦} = ٢$.

كذلك $(-٤)^{\frac{٢}{٤}} = (-٤)^{\frac{١}{٢}} = \sqrt{-٤} \notin$ ح

إذن اعتماداً على الطريقة التي نستخدمها، هناك إمكانية الحصول على نتيجتين مختلفتين ،ولهذا السبب نعطي التعريف التالي .

تعريف (٣ : ٥)

إذا كان أ < ٠ ، م ، د $\in$ صـ+ زوجيين فإن $(أ)^{\frac{م}{د}} = |أ|^{\frac{م}{د}}$.

وعلى هذا فإن $(-٤)^{\frac{٢}{٤}} = |-٤|^{\frac{٢}{٤}} = ٤^{\frac{١}{٢}} = \sqrt{٤} = ٢$.

فإذا كانت م = د (زوجي) فإن التعريف يصبح $(أ)^{\frac{د}{د}} = |أ|^{\frac{د}{د}} = |أ|^{١} = |أ|$

أو $(أ)^{\frac{١}{د}} = \sqrt[د]{أ} = |أ|$ ، فإذا كانت د = ٢ فإن $(أ)^{\frac{١}{٢}} = \sqrt{أ} = |أ|$ ، وبصورة عامة .

نعطي التعريف التالي :

تعريف (٣ : ٦)

$\forall$ أ $\in$ ح ، د $\in$ ط ؛ حيث د $\geq$ ٢ فإن :

$$(أ)^{\frac{١}{د}} = \sqrt[د]{أ} = \begin{cases} |أ| & \text{إذا كانت د عدداً زوجياً} \\ أ & \text{إذا كانت د عدداً فردياً} \end{cases}$$

http://Yaman.E-learning-moe.edu.ye

مثال (٣ - ١١) بسّط ما يأتي :

١) $\sqrt[٥]{ب^{٥}}$. ٢) $(-(-٢)^{٢})^{\frac{١}{٢}}$. ٣) $\sqrt{-٨^{٣}}$.

٤) $\sqrt{(ا+ب)^{٢}}$. ٥) $\sqrt[٤]{٦٢٥ ص^{٤}}$.

الحـــل

١) $\sqrt[٥]{ب^{٥}} = ب$. ٢) $(-(-٢)^{٢})^{\frac{١}{٢}} = \sqrt{(-٢)^{٢}} = |-٢| = ٢$.

٣) $\sqrt{-٨^{٣}} = \sqrt{(-٢)^{٣}} = -٢$. ٤) $\sqrt{(ا+ب)^{٢}} = |ا+ب|$.

٥) $\sqrt[٤]{٦٢٥ ص^{٤}} = \sqrt[٤]{٥^{٤} ص^{٤}} = |٥ ص|$.

خلاصة :

إذا كان ا ، ب ∈ ح ، ك ، ل ∈ د (د مجموعة الأعداد النسبية) فإن :

١) $ا^{ك} \times ا^{ل} = ا^{ك+ل}$. ٢) $\frac{ا^{ك}}{ا^{ل}} = ا^{ك-ل}$ ، $ا \neq ٠$.

٣) $(ا^{ك})^{ل} = ا^{ك ل}$. ٤) $(ا ب)^{ك} = ا^{ك} \times ب^{ك}$.

٥) $(\frac{ا}{ب})^{ك} = \frac{ا^{ك}}{ب^{ك}}$ ، $ب \neq ٠$.

مثال (٣ - ١٢) اختصر كلاً مما يأتي : « علماً بأن جميع المتغيرات أعداد حقيقية موجبة » :

١) $٤ س^{\frac{٣}{٤}} \times ٣ س^{-\frac{٣}{٤}} \times س \times س^{\frac{١}{٢}}$. ٢) $(ا^{٦} ب^{١٠})^{\frac{١}{٢}} (ا^{-٣} ب^{-٦})^{\frac{١}{٣}}$.

٣) $\sqrt{(٢ س + ص)^{٥}} (٢ س + ص)^{\frac{١}{٢}}$. ٤) $\frac{\sqrt[٥]{(٣٢)^{٣} \times (١٦)^{-\frac{٣}{٤}}}}{(٦٤)^{\frac{١}{٦}}}$.

٥) $\frac{ص^{\frac{١}{٣}}}{ص^{\frac{١}{٤}}}$.

الحـــل

١) $٤ س^{\frac{٣}{٤}} \times ٣ س^{-\frac{٣}{٤}} \times س \times س^{\frac{١}{٢}} = ١٢ س^{\frac{٣}{٤} - \frac{٣}{٤} + ١ + \frac{١}{٢}} = ١٢ س^{\frac{٣}{٢}}$.

http://E-learning-moe.edu.ye

٢) $(أ^{٦} ب^{١٠})^{\frac{١}{٢}} \times (أ^{٣} ب^{-٦})^{\frac{١}{٣}} = (أ^{٦})^{\frac{١}{٢}} \times (ب^{١٠})^{\frac{١}{٢}} \times (أ^{٣})^{\frac{١}{٣}} \times (ب^{-٦})^{\frac{١}{٣}}$

$= أ^{٣} \times ب^{٥} \times أ^{-١} \times ب^{-٢} = أ^{٢} ب^{٣}$.

٣) $\sqrt[٥]{(٢س + ص)^{٥}} = (٢س + ص)^{\frac{١}{٢}} = (٢س + ص)^{\frac{٥}{٢}} (٢س + ص)^{\frac{١}{٢}}$

$= (٢س + ص)^{\frac{٥}{٢} + \frac{١}{٢}} = (٢س + ص)^{٣}$.

٤) $\frac{\sqrt[٥]{(٣٢)^{٣} \times (١٦)^{-\frac{٣}{٤}}}}{(٦٤)^{\frac{١}{٦}}} = \frac{(٢^{٤})^{-\frac{٣}{٤}} \times (٢^{٥})^{\frac{٣}{٥}}}{(٢^{٦})^{\frac{١}{٦}}} = \frac{٢^{-٣} \times ٢^{٣}}{٢} = \frac{٢^{٠}}{٢} = \frac{١}{٢}$.

٥) $\frac{ص^{\frac{١}{٣}}}{ص^{\frac{١}{٤}}} = ص^{\frac{١}{٣} - \frac{١}{٤}} = ص^{\frac{٤-٣}{١٢}} = ص^{\frac{١}{١٢}}$.

تمارين ومسائل (٣ - ٢)

[١] أوجد قيمة كلٍّ مما يأتي (إن أمكن):

أ) $\sqrt[٣]{٢١٦}$. ب) $\sqrt[٤]{٢٥٦}$.

جـ) $\sqrt{٠,٠١٦٩}$. د) $\sqrt[٣]{-٢١٦}$.

هـ) $\sqrt{-٢١٦}$. و) $\sqrt[٦]{-٦٤}$.

[٢] اكتب الجذور التربيعية في ح للأعداد : ٤٠٠ ، ١٤٤ .

[٣] اكتب الجذر الرابع في ح للأعداد : ٢٥٦ ، ١٠٠٠٠ ، ٤٠٩٦ ، ١٢٩٦ .

[٤] اكتب ما يأتي على الصورة الجذرية ، وبسّط ذلك – إن أمكن – علماً بأن المتغيرات جميعها أعداد حقيقية موجبة والمقامات لاتساوى صفراً :

أ) $٦^{\frac{١}{٣}}$. ب) $٢^{\frac{١}{٢}}$. جـ) $س^{\frac{١}{٣}}$.

د) $١٦^{\frac{٣}{٤}}$. هـ) $(٤٩)^{-\frac{١}{٢}}$. و) $(-٢٧)^{-\frac{١}{٣}}$.

ز) $(-٣٢)^{-\frac{٣}{٥}}$. ح) $(٨١)^{\frac{٣}{٤}}$. ط) $(٦٤)^{\frac{١}{٣}}$.

http://Yaman.E-learning-moe.edu.ye

[٥] أوجد قيمة كلّ مما ياتي :

أ) $(٣٢)^{\frac{٤}{٥}}$.

ب) $(٦٤)^{-\frac{١}{٢}}$.

جـ) $(٠,٠٢٧)^{\frac{١}{٤}}$.

د) $\sqrt[٣]{٨}$.

هـ) $(-٢)^{٤}$.

و) $١٦^{-\frac{٣}{٤}}$.

[٦] بسط كلاً مما يلي : (علماً بان جميع المتغيرات أعداد حقيقية موجبة)

أ) $(س^{\frac{٤}{٣}})^{\frac{١}{٢}}$.

ب) $\frac{ص^{\frac{١}{٢}}}{ص^{\frac{١}{٣}}}$.

جـ) $(٢^{٣}\ أ^{١٥}\ ب^{٢١})^{\frac{١}{٣}}$.

د) $\frac{س^{-\frac{١}{٤}}\ ص^{\frac{٢}{٥}}}{س^{\frac{٣}{٤}}\ ص^{-\frac{٤}{٥}}}$.

هـ) $\sqrt{س^{٦}}$.

و) $\sqrt{(أ-ب)^{٢}}$.

ز) $(١٦\ ب^{٤})^{\frac{٣}{٤}}$.

ح) $\frac{أ^{-\frac{٢}{٣}}\ ب^{\frac{١}{٢}}}{أ^{\frac{١}{٣}}\ ب^{\frac{٣}{٤}}}$.

ط) $\frac{س^{-\frac{١}{٢}}\ ص^{\frac{٥}{٤}}}{س^{-\frac{٢}{٣}}\ ص^{\frac{٣}{٤}}}$.

ى) $\frac{أ^{٢}\ أ^{\frac{١}{٣}}}{أ^{\frac{١}{٢}}}$.

[٧] اكتب كلاً مما ياتي في أبسط صورة :

أ) $(\frac{٣}{٤})^{٤} \times (\frac{-٢٧}{٦٤})^{٣} \times (\frac{٣}{٤})^{-\frac{١}{٢}}$.

ب) $\frac{٩^{\frac{١}{٤}} \times (٨١)^{\frac{٣}{٤}}}{(٢٧)^{\frac{١}{٢}} \times (٣)^{\frac{١}{٤}}}$.

جـ) $\frac{(\frac{٩}{١٦})^{\frac{٣}{٢}} \times (\frac{٢٧}{٦٤})^{-\frac{١}{٣}}}{\frac{٣}{٤}}$.

د) $\frac{(٢١٦)^{-\frac{١}{٣}}}{(٩)^{-\frac{١}{٢}}}$.

هـ) $\sqrt{٦٤}$.

http://E-learning-moe.edu.ye

[٨] أثبت ما يأتي :

أ) $-\left(\frac{\text{أ}^{\text{م}^{٢}}}{\text{أ}^{\text{ن}^{٢}}}\right)^{\frac{١}{\text{م}-\text{ن}}} = \text{أ}^{\text{م}+\text{ن}}$ حيث م ، ن ∈ ن ، م ≠ ن .

ب) $\frac{٦ \times (٣^{\text{م}})^{٢} - ٣^{٢\text{م}}}{٩ \times (٣^{٢})^{\text{م}+١}} = \frac{٥}{٣^{٤}} = \frac{٥}{٨١}$ م ∈ ن .

جـ) $\frac{٤ \times ٢^{\text{م}+١} - ٢^{\text{م}}}{٢^{\text{م}+٢} \times ٢} = \frac{٧}{٨}$ ، .

٣ : ٣ تبسيـــط الجـذور

القوانين الأساسية للجذور :

إذا كان $\sqrt[\text{ن}]{\text{أ}}$ ، $\sqrt[\text{ن}]{\text{ب}}$ ∈ ح ، ن ∈ ص$^{+}$ ، ن ≥ ٢ فإن :

١ - $\sqrt[\text{ن}]{\text{أ} \times \text{ب}} = \sqrt[\text{ن}]{\text{أ}} \times \sqrt[\text{ن}]{\text{ب}}$. ٢ - $\sqrt[\text{ن}]{\frac{\text{أ}}{\text{ب}}} = \frac{\sqrt[\text{ن}]{\text{أ}}}{\sqrt[\text{ن}]{\text{ب}}}$ ، ب ≠ ٠ .

٣ - $\sqrt[\text{ن}]{\text{أ}^{\text{م}}} = \sqrt[\text{ن}\text{هـ}]{\text{أ}^{\text{م}\text{هـ}}}$ حيث أ ∈ ح$^{+}$ ، م ∈ ص ، هـ ، ن ∈ ص$^{+}$.

تكون الجذور في أبسط صورة إذا حققت الشروط الآتية :

١) جميع عوامل المجذور ذات أس أقل من دليل الجذر . ٢) لاتوجد جذور في المقام .

٣) دليل الجذر هو أصغر عدد صحيح موجب ممكن .

ولتبسيط الجذر نحلّل المجذور إلى عوامل تتناسب مع دليل الجذر ، ثم نحقّق الشروط السابقة من خلال استخدام القوانين الأساسية للجذور .

مثال (٣ - ١٣) بسّط ما يأتي ، علماً بأن المتغيرات أعداد حقيقية غير سالبة :

١) $\sqrt{١٨}$. ٢) $\sqrt[٣]{٣٢}$. ٣) $\sqrt[٣]{\text{أ}^{٥}}$. ٤) $\sqrt[٥]{\text{ب}^{١٠}}$.

الحـــل

١) $\sqrt{١٨} = \sqrt{٩ \times ٢} = \sqrt{٩} \times \sqrt{٢} = ٣\sqrt{٢}$.

http://Yaman.E-learning-moe.edu.ye

٢) $\sqrt[٣]{٣٢} = \sqrt[٣]{٤ \times ٨} = \sqrt[٣]{٤} \times \sqrt[٣]{٨} = ٢ \sqrt[٣]{٤}$.

٣) $\sqrt[٣]{أ^{٥}} = (أ^{٥})^{\frac{١}{٣}} = أ^{\frac{٥}{٣}}$

٤) $\sqrt[٥]{ب^{١٠}} = (ب^{١٠})^{\frac{١}{٥}} = ب^{٢}$.

مثال (٣ - ١٤) بسّط ما يأتي باعتبار أن المتغيرات لاتساوي الصفر :

١) $\sqrt{٢} \sqrt{١٠}$.

٢) $\sqrt[٣]{٩ أ ب} \sqrt[٣]{٩ أ^{٢} ب}$.

٣) $\sqrt{\frac{١٦}{٥٠}}$.

٤) $\frac{\sqrt[٤]{١٦ ل^{٣} م^{٣}} \times \sqrt[٤]{٢ ل^{٣}}}{\sqrt[٤]{٦٤ ل^{٥} م^{٤}}}$.

الحـــل

١) $\sqrt{٢} \sqrt{١٠} = \sqrt{٢ \times ١٠} = \sqrt{٢٠} = \sqrt{٤ \times ٥} = \sqrt{٤} \times \sqrt{٥} = ٢ \sqrt{٥}$.

٢) $\sqrt[٣]{٩ أ ب} \sqrt[٣]{٩ أ^{٢} ب} = \sqrt[٣]{٩ أ ب \times ٩ أ^{٢} ب} = \sqrt[٣]{٨١ أ^{٣} ب^{٣}} = \sqrt[٣]{٢٧ \times ٣ أ^{٣} ب^{٣}}$

$= \sqrt[٣]{٢٧} \times \sqrt[٣]{٣} \times \sqrt[٣]{أ^{٣}} \times \sqrt[٣]{ب^{٣}} = ٣ \times أ \times ب = ٣ أ ب$.

٣) $\sqrt{\frac{١٦}{٥٠}} = \frac{\sqrt{١٦}}{\sqrt{٥٠}} = \frac{\sqrt{٤^{٢}}}{\sqrt{٢ \times ٢٥}} = \frac{٤}{\sqrt{٢} \times \sqrt{٥^{٢}}} = \frac{٤}{٥ \sqrt{٢}}$.

ولكي نتخلص من الجذر في المقام نضرب كلا من البسط والمقام في $\sqrt{٢}$.

$\therefore \sqrt{\frac{١٦}{٥٠}} = \frac{٤}{٥ \sqrt{٢}} \times \frac{\sqrt{٢}}{\sqrt{٢}} = \frac{٤ \sqrt{٢}}{٢ \times ٥} = \frac{٢ \sqrt{٢}}{٥}$.

٤) $\frac{\sqrt[٤]{١٦ ل^{٣} م^{٣}} \times \sqrt[٤]{٢ ل^{٣}}}{\sqrt[٤]{٦٤ ل^{٥} م^{٤}}} = \sqrt[٤]{\frac{١٦ ل^{٣} م^{٣} \times ٢ ل^{٣}}{٦٤ ل^{٥} م^{٤}}} = \sqrt[٤]{\frac{٣٢ ل^{٦} م^{٣}}{٦٤ ل^{٥} م^{٤}}} = \sqrt[٤]{\frac{ل}{م^{٢}}}$

$= \frac{\sqrt[٤]{ل}}{\sqrt[٤]{م^{٢}}} \times \frac{\sqrt[٤]{م^{٣٢}}}{\sqrt[٤]{م^{٣٢}}} = \frac{\sqrt[٤]{م^{٣٢}}}{\sqrt[٤]{م^{٤٢}}} = \frac{\sqrt[٤]{ل م^{٣٢}}}{م^{٢}}$.

http://E-learning-moe.edu.ye

تمارين ومسائل (٣-٣)

[١] بسّط كلاً مما يلي : حيث المتغيرات جميعها أعداد حقيقية موجبة :

أ) $\sqrt[3]{\frac{٨}{٢٧}}$.

ب) $\sqrt{\frac{أ^{٦}}{٩}}$.

جـ) $\sqrt{٢٥ س^{٣} ص^{٩}}$.

د) $\sqrt{٥٠ أ^{٦} ب جـ^{٩}}$.

هـ) $\sqrt[٥]{٣٢ أ^{١٠} ب^{٤} جـ^{١٢}}$.

و) $\sqrt{س^{٢} + ٦ س + ٩}$.

ز) $\sqrt[٥]{\frac{٣٢ أ^{٣}}{ب^{٢٠}}}$.

ح) $\sqrt[٧]{\frac{أ^{٢١}}{ب^{٧} جـ^{١٤}}}$

[٢] ضع كلاً مما يأتي في أبسط صورة باعتبار أن المتغيرات لاتساوي الصفر :

أ) $\sqrt{١٢}$ $\sqrt{١٢}$.

ب) $\sqrt[٣]{٦}$ $\sqrt[٣]{١٢}$.

جـ) $\sqrt[٥]{٨ س^{٤}}$ $\sqrt[٥]{٤ س^{٣}}$.

د) $\sqrt[٣]{٥ أ^{٢} ب}$ $\sqrt[٣]{٧٥ أ^{٢} ب^{٢}}$.

هـ) $\sqrt[٨]{ص^{١٤}}$.

و) $\sqrt[٣]{١٠}$ $\sqrt[٣]{٤}$.

ز) $\sqrt[٦]{٨ أ^{٣}}$.

ح) $\sqrt[٩]{س^{٣} ص^{٦}}$.

[٣] بسّط ما يأتي : حيث المتغيرات أعداد حقيقية غير سالبة لاتساوي صفراً :

أ) $\sqrt[٥]{\frac{١}{س^{٢}}}$.

ب) $\sqrt[٥]{\frac{١}{أ^{٢} ب}}$.

جـ) $\sqrt[٣]{\frac{س ص}{س ص^{٢}}}$.

د) $\sqrt[٧]{\frac{١}{١٦ أ^{٢} ب^{٣}}}$

هـ) $\sqrt{\frac{١٢}{ب جـ}}$.

و) $\sqrt[٣]{\frac{٣ س}{أ^{٧}}} \times \sqrt[٣]{\frac{أ}{٨١ س^{٤}}}$.

http://Yaman.E-learning-moe.edu.ye

٣ : ٤ جمع وطرح الجذور

تجمع الجذور المتشابهة وتطرح بالطريقة المتبعة في جمع وطرح الحدود الجبرية المتشابهة .
والجذور المتشابهة هي التي تتساوى في الأدلة والمقدار المجذور بعد تبسيطة ؛ فمثلاً :

١) $٢\sqrt{٧}$ ، $٣\sqrt{٧}$ ، $٦\sqrt{٧}$. ٢) $\sqrt[٤]{٣}$ ، $-٥\sqrt[٤]{٣}$ ، $٢\sqrt[٤]{٣}$.

٣) $\sqrt[٣]{٧}$ ، $\sqrt[٣]{٥٦}$.

فجميعها جذور متشابهة . لماذا ؟

أما :

١) $\sqrt[٣]{١١}$ ، $\sqrt{١٥}$ ، $\sqrt{٧}$. ٢) $\sqrt[٣]{٥}$ ، $\sqrt[٤]{١٥}$ ، $\sqrt[٥]{١٢٥}$.

٣) $\sqrt[٤]{٢}$ ، $\sqrt[٧]{٢}$ ، $\sqrt[٣]{٢}$ ، فجميعها جذور غير متشابهة . لماذا ؟

مثال (٣ - ١٥) احسب كلاً مما يأتي :

١) $٣\sqrt{٥} + ٢\sqrt{٥}$. ٢) $\sqrt{٥٠} - \sqrt{٤٥} + \sqrt{٥٠٠} - \sqrt{٣٢}$.

الحـــل

١) $٣\sqrt{٥} + ٢\sqrt{٥} = ٥\sqrt{٥}$.

٢) $\sqrt{٥٠} - \sqrt{٤٥} + \sqrt{٥٠٠} - \sqrt{٣٢} = ٥\sqrt{٢} - ٣\sqrt{٥} + ١٠\sqrt{٥} - ٤\sqrt{٢} = ٧\sqrt{٢} + ٧\sqrt{٥}$.

مثال (٣ - ١٦) اختصر ما يلي : بافتراض أن المتغيرات أعداد حقيقية غير سالبة :

١) $ب\sqrt[٣]{جـ^{٣}ء^{٤}} + جـ\sqrt[٣]{ب^{٣}ء^{٤}} - ء\sqrt[٣]{ب^{٣}جـ^{٣}ء}$.

٢) $٨\sqrt[٥]{س^{٢} + ص} - ٢\sqrt[٥]{س^{٢} + ص} + ٣\sqrt[٥]{س^{٢} + ص}$.

الحـــل

١) $ب\sqrt[٣]{جـ^{٣}ء^{٤}} + جـ\sqrt[٣]{ب^{٣}ء^{٤}} - ء\sqrt[٣]{ب^{٣}جـ^{٣}ء}$.

$= ب جـ ء\sqrt[٣]{ء} + جـ ب ء\sqrt[٣]{ء} - ب جـ ء\sqrt[٣]{ء} = ب جـ ء\sqrt[٣]{ء}$.

http://E-learning-moe.edu.ye

ملحوظة: $\sqrt[ن]{أ \pm ب} \neq \sqrt[ن]{أ} \pm \sqrt[ن]{ب}$

$٢ - ٨\sqrt[٣]{س^{٢}+ص} - ٢\sqrt[٣]{س^{٢}+ص} + ٣\sqrt[٣]{س^{٢}+ص} = ٩\sqrt[٣]{س^{٢}+ص}$.

مثال (٣ - ١٧) اختصر ما يأتي :

أ) $\frac{\sqrt{٣}}{٣} + \frac{٢}{\sqrt{٣}} - \sqrt{٢٧}$. ب) $\frac{٣}{\sqrt{٢}} - \frac{٢}{\sqrt{٥}}$.

الحـــل

أ) $\frac{\sqrt{٣}}{٣} + \frac{٢}{\sqrt{٣}} - \sqrt{٢٧} = \frac{\sqrt{٣}}{٣} + \frac{٢}{\sqrt{٣}} \times \frac{\sqrt{٣}}{\sqrt{٣}} - ٣\sqrt{٣}$

$= \frac{\sqrt{٣}}{٣} + \frac{٢\sqrt{٣}}{٣} - ٣\sqrt{٣} = \sqrt{٣}(\frac{١}{٣} + \frac{٢}{٣} - ٣) = \sqrt{٣}\frac{١+٢-٩}{٣}$

$= -\frac{٦}{٣}\sqrt{٣} = -٢\sqrt{٣}$.

ب) $\frac{٣}{\sqrt{٢}} - \frac{٢}{\sqrt{٥}} = \frac{٣}{\sqrt{٢}} \times \frac{\sqrt{٢}}{\sqrt{٢}} - \frac{٢}{\sqrt{٥}} \times \frac{\sqrt{٥}}{\sqrt{٥}} = \frac{٣\sqrt{٢}}{٢} - \frac{٢\sqrt{٥}}{٥}$

$= \frac{١٥\sqrt{٢} - ٤\sqrt{٥}}{١٠}$.

http://Yaman.E-learning-moe.edu.ye

تمارين ومسائل (٣-٤)

[١] أوجد ناتج كلٌ مما يأتي ، حيث المتغيرات أعداد حقيقية موجبة :

أ) $٣\sqrt{٣} + ٤\sqrt{٣}$.

ب) $٥\sqrt{٥} + ٧\sqrt{٥} - ٤\sqrt{٥}$.

جـ) $\sqrt{١٠} + ٤\sqrt{١٠} - ٦\sqrt{١٠}$.

د) $٥\sqrt{٤^{٢}} + ٢\sqrt{٤^{٢}}$.

هـ) $١٠\sqrt[٤]{٣} + ٣\sqrt[٤]{٣} - ٥\sqrt[٤]{٣}$.

و) $\sqrt{١٢^{٥}} - \sqrt{١٦^{٥}} + ٤\sqrt{١٢^{٥}}$.

ز) $٢\sqrt{٣س} - ٤\sqrt{٣س} + ٢\sqrt{٣س}$.

ح) $\sqrt{٨١^{٢}} + ٢\sqrt{٢٥٠^{٢}}$.

ط) $\sqrt{٣٢س} - \sqrt{١٨س}$.

ي) $٦\sqrt{١٤١^{٢}ب} + ٥\sqrt{١٢٥١^{٢}ب}$.

[٢] ضع المقادير الآتية في أبسط صورة على اعتبار أن المتغيرات أعداد حقيقية غير سالبة :

أ) $٧\sqrt{٣٦١^{٢}ب} + ٤\sqrt{٤٩١^{٢}ب} - ١١\sqrt{٢ب}$.

ب) $-٥\sqrt{١٢٧^{٣}} - ٤\sqrt{١٨^{٣}}$.

جـ) $١٣١^{٢}\sqrt{١ب} - ١١\sqrt{١^{٣}ب}$.

د) $٣١^{٢}ب\sqrt{١ب^{٣}} - ١ب^{٢}\sqrt{١ب}$.

هـ) $\frac{١}{٥} + \frac{٢}{\sqrt{٥}}$.

و) $\frac{٤}{٩} - \frac{٢}{\sqrt{٣}}$.

ز) $\frac{٢}{\sqrt{٥}} + \frac{٣}{\sqrt{٦}}$.

ح) $\frac{٦}{\sqrt{٥}} + \frac{٢}{\sqrt{١٠}}$.

[٣] بسّط ما يأتي : حيث المتغيرات أعداد حقيقية موجبة لاتساوي الصفر :

أ) $\frac{٤}{\sqrt{١٢}} - \frac{١}{\sqrt{٤٨}}$.

ب) $\frac{٧}{\sqrt{٤س}} - \frac{٣}{\sqrt{س}}$.

جـ) $\frac{٥}{\sqrt{٣س ص}} - \frac{٤}{\sqrt{س}}$.

د) $\frac{٢}{\sqrt{١}} + \frac{٣}{\sqrt{١ب}}$.

هـ) $\frac{٢}{\sqrt{١٨}} - \frac{٤}{\sqrt{٥٠}}$.

و) $\frac{٥}{\sqrt{٣}} + \frac{٢}{\sqrt{٦}}$.

http://E-learning-moe.edu.ye

٣ : ٥ ضرب وقسمة الجذور

أولاً – ضرب الجذور :

عند ضرب الجذور المتحدة الدليل نستخدم القانون : $\sqrt[ن]{أ} \times \sqrt[ن]{ب} = \sqrt[ن]{أب}$.

فمثلاً : $\sqrt[٥]{٣} \times \sqrt[٥]{٢} \times \sqrt[٥]{٧} = \sqrt[٥]{٤٢}$ ، وعند ضرب الجذور المختلفة الدليل نوحد أدلتها أولاً

باستخدام القانون : $\sqrt[ن]{أ^{م}} = \sqrt[ن هـ]{أ^{م هـ}}$ ، م ∈ ص ، هـ ، ن ∈ ص$^{+}$.

فمثلاً : $\sqrt[٣]{٥} \times \sqrt{٣} = \sqrt[٣ \times ٢]{٥^{٢}} \times \sqrt[٢ \times ٣]{٣^{٣}} = \sqrt[٦]{٢٥} \times \sqrt[٦]{٢٧} = \sqrt[٦]{٦٧٥}$.

ضرب المقادير الجذرية : كل كمية تحوي جذرين غير متشابهين أو أكثر تسمى مقداراً جذرياً ، وطريقة ضرب المقادير الجذرية تشبه طريقة ضرب المقادير الجبرية .

مثال (٣ – ١٨) أوجد ما يلي ، علماً بأن المتغيرات تمثل أعداداً حقيقية غير سالبة :

١) $٣\sqrt{٥}\,(٢\sqrt{٥} - \sqrt{٢})$.

٢) $(\sqrt{٥} + ٢\sqrt{٣})(٣\sqrt{٢} - \sqrt{٥})$.

٣) $\sqrt[٣]{أ}\,(\sqrt[٣]{٣أ} + \sqrt[٣]{٩أ})$.

٤) $(\sqrt{٢س} + \sqrt{س ص})(\sqrt{٢س} - ١)$.

الحـــل

١) $٣\sqrt{٥}\,(٢\sqrt{٥} - \sqrt{٢}) = ٣ \times ٢\sqrt{٥ \times ٥} - ٣\sqrt{٥ \times ٢} = ٦\sqrt{٢٥} - ٣\sqrt{١٠}$

$= ٣٠ - ٣\sqrt{١٠}$.

٢) $(\sqrt{٥} + ٢\sqrt{٣})(٣\sqrt{٢} - \sqrt{٥})$

$= ٣\sqrt{٥} \times \sqrt{٢} - \sqrt{٥}\sqrt{٥} + ٢ \times ٣\sqrt{٣}\sqrt{٢} - ٢\sqrt{٣}\sqrt{٥} = ٣\sqrt{١٠} - ٥ + ٦\sqrt{٦} - ٢\sqrt{١٥}$.

٣) $\sqrt[٣]{أ}\,(\sqrt[٣]{٣أ} + \sqrt[٣]{٩أ}) = \sqrt[٣]{أ} \times \sqrt[٣]{٣أ} + \sqrt[٣]{أ} \times \sqrt[٣]{٩أ} = \sqrt[٣]{٣أ^{٢}} + \sqrt[٣]{٩أ^{٢}}$.

٤) $(\sqrt{٢س} + \sqrt{س ص})(\sqrt{٢س} - ١)$

$= \sqrt{٢س} \times \sqrt{٢س} - \sqrt{٢س} + \sqrt{س ص}\sqrt{٢س} - \sqrt{س ص}$

$= ٢س - \sqrt{٢س} + \sqrt{٢س^{٢} ص} - \sqrt{س ص} = ٢س - \sqrt{٢س} + س\sqrt{٢ص} - \sqrt{س ص}$.

http://Yaman.E-learning-moe.edu.ye

ثانياً : قسمة الجذور :

عند تقسيم جذر عدد على جذر عدد آخر نطبق القانون : $\frac{\sqrt[ن]{أ}}{\sqrt[ن]{ب}} = \sqrt[ن]{\frac{أ}{ب}}$.

لاحظ أنه إذا لم تكن أدلة الجذور موحدة نوحدها قبل تطبيق القانون .

مثال (٣ - ١٩) بسّط ما يأتي :

١) $\frac{\sqrt{١٣٥}}{\sqrt{٥}}$. ٢) $\frac{\sqrt{٢}}{\sqrt[٣]{٥}}$. ٣) $\frac{\sqrt[٣]{١٢}}{\sqrt[٣]{٤}}$.

٤) $\frac{\sqrt{ب - جـ}}{\sqrt[٣]{(ب - جـ)^{٢}}}$ ، حيث $ب - جـ > ٠$.

الحـــل

١) $\frac{\sqrt{١٣٥}}{\sqrt{٥}} = \sqrt{\frac{١٣٥}{٥}} = \sqrt{٢٧} = ٣\sqrt{٣}$.

٢) $\frac{\sqrt{٢}}{\sqrt[٣]{٥}} = \frac{\sqrt[٦]{٢^{٢\times٣}}}{\sqrt[٦]{٥^{٢\times٣}}} = \frac{\sqrt[٦]{٨}}{\sqrt[٦]{٢٥}} = \sqrt[٦]{\frac{٨}{٢٥}}$.

٣) $\frac{\sqrt[٣]{١٢}}{\sqrt[٣]{٤}} = \sqrt[٣]{\frac{١٢}{٤}} = \sqrt[٣]{٣}$.

٤) $\frac{\sqrt{ب - جـ}}{\sqrt[٣]{(ب - جـ)^{٢}}} = \frac{\sqrt[٦]{(ب - جـ)^{٣}}}{\sqrt[٦]{(ب - جـ)^{٤}}} = \sqrt[٦]{\frac{(ب - جـ)^{٣}}{(ب - جـ)^{٤}}} = \sqrt[٦]{\frac{١}{ب - جـ}}$.

ضرب المقادير المترافقة :

لاحظ أنه عند إيجاد ناتج الضرب الآتي : $(\sqrt{س} + \sqrt{ص})(\sqrt{س} - \sqrt{ص})$.

فالناتج هو $(س - ص)$ بفرض أن $س$ ، $ص \geq ٠$ ، وكما نلاحظ أن الناتج خالٍ من الجذر ، وفي هذه الحالة نقول إن : $(\sqrt{س} + \sqrt{ص})$ ، $(\sqrt{س} - \sqrt{ص})$ مقداران مترافقان .

فمثلاً المقادير التالية مترافقة : $(\sqrt{٣} + \sqrt{٥})$ ، $(\sqrt{٣} - \sqrt{٥})$

$(\sqrt{٧} - \sqrt{١٩})$ ، $(\sqrt{٧} + \sqrt{١٩})$

$(٣\sqrt{٢} - ٤\sqrt{٣})$ ، $(٣\sqrt{٢} + ٤\sqrt{٣})$.

http://E-learning-moe.edu.ye

كما نلاحظ أن :

حاصل ضرب مقدارين مترافقين = مربع الحد الأول – مربع الحد الآخر .

مثال (٣ – ٢٠) اكتب كلاً مما يأتي في أبسط صورة :

١) $\frac{٣}{\sqrt{٢}-٣}$. ٢) $\frac{٢}{٢\sqrt{٣}+٣\sqrt{٥}}$.

الحـــل

للتخلص من الجذر في المقام نضرب كلاً من البسط والمقام في مرافق المقام فيكون :

١) $\frac{٣}{\sqrt{٢}-٣} = \frac{٣}{\sqrt{٢}-٣} \times \frac{\sqrt{٢}+٣}{\sqrt{٢}+٣} = \frac{٣(\sqrt{٢}+٣)}{(\sqrt{٢})^{٢}-٣^{٢}} = \frac{٣(\sqrt{٢}+٣)}{٧}$.

٢) $\frac{٢}{٢\sqrt{٣}+٣\sqrt{٥}} = \frac{٢}{٢\sqrt{٣}+٣\sqrt{٥}} \times \frac{٢\sqrt{٣}-٣\sqrt{٥}}{٢\sqrt{٣}-٣\sqrt{٥}} = \frac{٢\sqrt{٣}-٣\sqrt{٥}}{(٢\sqrt{٣})^{٢}-(٣\sqrt{٥})^{٢}}$

$= \frac{٤\sqrt{٣}-٦\sqrt{٥}}{١٢-٤٥} = \frac{-٢}{٣٣}(٢\sqrt{٣}-٣\sqrt{٥})$.

مثال (٣ – ٢١) اختصر ما يأتي .علماً بأن كل مجذور هو عدد حقيقي موجب والمقامات لاتساوي صفراً:

١) $\frac{\sqrt{أب}}{\sqrt{أ}+\sqrt{ب}}$. ٢) $\frac{س\sqrt{ص}-ص\sqrt{س}}{\sqrt{ص}-\sqrt{س}}$ . .

الحـــل

للتخلص من الجذر في المقام نضرب كلاً من البسط والمقام في مرافق المقام فيكون :

١) $\frac{\sqrt{أب}}{\sqrt{أ}+\sqrt{ب}} = \frac{\sqrt{أب}}{\sqrt{أ}+\sqrt{ب}} \cdot \frac{\sqrt{أ}-\sqrt{ب}}{\sqrt{أ}-\sqrt{ب}} = \frac{\sqrt{أب}(\sqrt{أ}-\sqrt{ب})}{(\sqrt{أ})^{٢}-(\sqrt{ب})^{٢}}$

$= \frac{أ\sqrt{ب}-ب\sqrt{أ}}{أ-ب} = \frac{\sqrt{أ^{٢}ب}-\sqrt{أب^{٢}}}{أ-ب}$.

http://Yaman.E-learning-moe.edu.ye

٢) $\frac{س\sqrt{ص} - ص\sqrt{س}}{\sqrt{س} - \sqrt{ص}} = \frac{س\sqrt{ص} - ص\sqrt{س}}{\sqrt{س} - \sqrt{ص}} \cdot \frac{\sqrt{س} + \sqrt{ص}}{\sqrt{س} + \sqrt{ص}}$

$= \frac{س\sqrt{س ص} + س\sqrt{ص} \cdot \sqrt{ص} - ص\sqrt{س} \cdot \sqrt{س} - ص\sqrt{س ص}}{(\sqrt{س})^{٢} - (\sqrt{ص})^{٢}}$

$= \frac{س\sqrt{س ص} + س ص - ص س - ص\sqrt{س ص}}{س - ص} = \frac{س\sqrt{س ص} - ص\sqrt{س ص}}{س - ص}$

$= \frac{(س - ص)\sqrt{س ص}}{(س - ص)} = \sqrt{س ص}$.

تمارين ومسائل (٣ - ٥)

[١] أوجد ناتج كلٌ مما يأتي . علماً بأن المتغيرات أعداد حقيقية موجبة :

أ) $\sqrt{٢}(٥ + \sqrt{٢})$.

ب) $\sqrt{٣}(\sqrt{١٥} - \sqrt{٢١})$.

جـ) $\sqrt{س}(\sqrt{س} + \sqrt{ص})$.

د) $\sqrt{٥}(٧\sqrt{٢} - ٤\sqrt{٣})$.

هـ) $(٥ + \sqrt{٢})(٣ - \sqrt{٢})$.

و) $(٣\sqrt{س} - ٤\sqrt{ص})(٣\sqrt{س} + ٤\sqrt{ص})$.

ز) $(٢ - \sqrt{٧})^{٢}$.

[٢] أوجد حاصل الضرب لكل مما يأتي . علماً بأن الجذور أعداد حقيقية :

أ) $(٤ + ٣\sqrt{٢})^{٢}$.

ب) $(\sqrt{أ} - ب)(\sqrt{أ} + ب)$.

جـ) $(٤\sqrt{س} - \sqrt{ص})(٥\sqrt{س} + \sqrt{ص})$.

د) $(٣\sqrt{أ} + ٢\sqrt{ب})(\sqrt{أ} - ٣\sqrt{ب})$.

هـ) $(\sqrt{أ} + \sqrt{أب})(\sqrt{أ} - ١)$.

و) $\sqrt{ب}^{٣}(٥\sqrt{ب}^{٣} + ٧\sqrt{ب}^{٣})$.

ز) $\sqrt{١٢}^{٤}(\sqrt{١٢}^{٤} + \sqrt{١٨}^{٤})$.

ح) $(\sqrt{أ} + \sqrt{ب})(\sqrt{أ}^{٣} + \sqrt{ب}^{٣})$.

http://E-learning-moe.edu.ye

[٣] بسّط كلاً مما يأتي ، علماً بأن المتغيرات أعداد حقيقية موجبة والمقام لايساوي صفراً :

أ) $\frac{١}{٢ - \sqrt{٥}}$.

ب) $\frac{٦}{\sqrt{٦} - ٣}$.

جـ) $\frac{٤}{\sqrt{٦} - \sqrt{١٠}}$.

ء) $\frac{\sqrt{٦}}{\sqrt{٣}\sqrt{٢} - \sqrt{٢}}$.

هـ) $\frac{\sqrt{١٠}}{\sqrt{٢}\sqrt{٢} + \sqrt{٥}}$.

و) $\frac{\sqrt{أ ب}}{\sqrt{ب} + \sqrt{أ ب}}$.

ز) $\frac{أ + \sqrt{ب}}{أ - \sqrt{ب}}$.

ح) $\frac{٣ س}{\sqrt{س} - \sqrt{س ص}}$.

ط) $\frac{س^{٢} ص}{س\sqrt{س} - \sqrt{س ص}}$.

ي) $\frac{٢\sqrt{س}}{٣\sqrt{س} - ٢\sqrt{ص}}$.

ك) $\frac{\sqrt{س} + ٣\sqrt{ص}}{\sqrt{س} - ٣\sqrt{ص}}$.

ل) $\frac{١٦ س^{٢} - ص^{٢}}{٢\sqrt{س} - \sqrt{ص}}$.

[٤] بسّط كلاً مما يأتي (حيث المقامات لا تساوي صفراً :

أ) $\sqrt{أ + ب}\left(\sqrt{أ + ب} - \sqrt{\frac{٤}{أ + ب}}\right)$ ، $أ + ب > ٠$.

ب) $\frac{\sqrt{ب^{٢} - جـ^{٢}}}{\sqrt{ب + جـ}} \div \frac{\sqrt{(ب - جـ)^{٢}}}{(ب^{٢} - جـ^{٢})}$ ، $ب > جـ$.

جـ) $\frac{\sqrt{س} + س}{\sqrt{س} - ٩س}$.

http://Yaman.E-learning-moe.edu.ye

٣ : ٦ حل المعادلات الأسية والجذرية

لقد عرفنا المعادلات الجبرية والتي يظهر المتغير في أساسات حدودها ، والآن نتعرف على نوعين آخرين من المعادلات ، وهي المعادلات الأسية والجذرية .

أولاً : المعادلات الأسية :

تعريف (٣ : ٧)

المعادلة الأسية هي المعادلة التي تحوي متغير في أس القوة .

فمثلاً : $٣^{س-١} = ٣^{٤}$ ، $٢^{س^{٢}} = ٤$ ، $(\frac{١}{٢})^{د} = ٠,٠٥$ جميعها معادلات أسية .

ولحل المعادلات الأسية نستخدم إحدى الخاصيتين التاليتين :

١) $\forall$ ب > ٠ ، م ، د $\in$ ح . إذا كان $ب^{م} = ب^{د}$ فإن م = د .

٢) $\forall$ أ ، ب > ٠ ، أ $\neq$ ب إذا كان $أ^{د} = ب^{د}$ فإن د = ٠ .

مثال (٣ - ٢٢) حل المعادلات الآتية :

١) $٣^{س} = ٨١$.

٢) $٣^{س^{٣}} = ٩^{س-١}$.

٣) $(\frac{٢}{٣})^{٢ص-٣} = (\frac{١}{٤}\ ٢)^{-٣}$.

٤) $٣^{س^{٣}} \times ٤ - ٣ \times ٣^{س^{٢}+٢} = -٨١$.

الحـــل

١) $٣^{س} = ٨١$ نوحد أولاً الأساسين في طرفي المعادلة فنجد أن $٣^{س} = ٣^{٤}$.

وبما أن أساس قوتين متساو ، إذن تتساوي الأسس .

∴ س = ٤ .

٢) $٣^{س^{٣}} = ٩^{س-١}$ نكتب الطرف الأيسر على صورة قوة للعدد ٣ .

$\Leftarrow$ $٣^{س^{٣}} = ٣^{٢(س-١)} = ٣^{٢س-٢}$ (بمساواة الأسس لتساوي الأساسين).

∴ $٣س = ٢س - ٢$

∴ $س = -٢$

٣) $(\frac{٢}{٣})^{٢ص-٣} = (\frac{١}{٤}\ ٢)^{-٣}$ نكتب العدد الكسري في الطرف الأيسر من المعادلة على الصورة $\frac{م}{د}$ فيكون $(\frac{٢}{٣})^{٢ص-٣} = (\frac{٩}{٤})^{-٣} = (\frac{٣^{٢}}{٢^{٢}})^{-٣} = (\frac{٣}{٢})^{-٦} = (\frac{٢}{٣})^{٦}$.

http://E-learning-moe.edu.ye

∴ ٢ ص – ٣ = ٦

⇐ ٢ ص = ٦ + ٣ = ٩

∴ ص = $\frac{٩}{٢}$ = ٤$\frac{١}{٢}$.

٤) بقسمة طرفي المعادلة على ٣ وبفرض ٣^{س} = ص نحصل على ص^{٢} – ١٢ ص + ٢٧ = ٠

⇐(ص – ٩) (ص – ٣) = ٠ .

أما ص – ٩ = ٠ أو ص – ٣ = ٠

نعوض عن قيمة ص = ٣^{س} .

∴ ص – ٩ = ٠ ⇐ ٣^{س} – ٩ = ٠ ⇐ ٣^{س} = ٩ = ٣^{٢} ⇐ س = ٢

أو ص – ٣ = ٠ ⇐ ٣^{س} – ٣ = ٠ ⇐ ٣^{س} = ٣ = ٣^{١} ⇐ س = ١

وهناك حل آخر للمعادلة :

٣^{٢س} – ٤ × ٣$^{س+٢}$ = –٨١ نكتب المعادلة على الصورة التالية :

٣^{٢س} – ٤ × ٣^{س} × ٣ = – ٣^{٢} × ٣ × ٢٧ ، وبقسمة الطرفين على ٣ وإضافة ٢٧ للطرفين

نحصل على ٣^{٢س} – ٤ × ٣^{س} × ٣ + ٢٧ = ٠ ،

أو (٣^{س})^{٢} – ١٢ × (٣^{س}) + ٢٧ = ٠ (مقدار ثلاثي) .

(٣^{س} – ٩) (٣^{س} – ٣) = ٠

اما ٣^{س} – ٩ = ٠ ⇐ ٣^{س} = ٩ = ٣^{٢} ⇐ س = ٢ .

أو ٣^{س} – ٣ = ٠ ⇐ ٣^{س} = ٣ = ٣^{١} ⇐ س = ١ .

التحقيق :

الطرف الأيمن = ٣^{٢س} – ٤ × ٣ × ٣$^{س+٢}$

عندما س = ٢

الطرف الأيمن = ٣$^{٢ × ٢}$ – ٤ × ٣ × ٣$^{٢+٢}$ = ٣^{٤} – ٤ × ٣ × ٣^{٤} = – ٨١ = الطرف الأيسر.

وعندما س = ١

الطرف الأيمن = ٣$^{٢ × ١}$ – ٤ × ٣ × ٣$^{٢+١}$ = ٣^{٢} – ٤ × ٣ × ٣^{٣} = ٣^{٣} – ٤ × ٣^{٣}

= ٣^{٣} (١ – ٤) = ٣^{٣} × (–٣) = – ٨١ = الطرف الأيسر .

مثال (٣ – ٢٣) حل المعادلات الآتية ، وتحقق من الحل :

١) ٧$^{٢س+١}$ = ٥$^{٢س+١}$. ٢) ٩ = ٢^{س} .

http://Yaman.E-learning-moe.edu.ye

الحـــل

١ – $٧^{٢س+١} = ٥^{٢س+١}$ نلاحظ أنّ الأساسين موجبان وغير متساويين (٧ ≠ ٥) .

وبما أن الأسس متساوية .

إذن ٢ س + ١ = ٠ ⇐ س = $-\frac{١}{٢}$.

التحقيق :

الطرف الأيمن = $٧^{٢س+١} = ٧^{٢(-\frac{١}{٢})+١} = ٧^{-١+١} = ٧^{٠} = ١$.

الطرف الأيسر = $٥^{٢س+١} = ٥^{٢(-\frac{١}{٢})+١} = ٥^{-١+١} = ٥^{٠} = ١$.

∴ الطرفان متساويان .

٢) $٢^{س} = \frac{٩^{س}}{٣^{س}} = (\frac{٩}{٣})^{س} = ٣^{س}$.

∴ س = صفر (الأساسان غير متساويان والأسان متساويان) ، ويترك للطالب التحقق من الحل .

ثانياً : المعادلات الجذرية :

تعريف (٣ : ٨)

المعادلة التي تحوي متغيراً أو أكثر في مجذورها تسمى معادلة جذرية .

فمثلاً : $\sqrt{س} = ٩$ ، $\sqrt{س^{٢} - ١} = ٠$ ، $\sqrt{ص} - \sqrt{س} = ٣$ س جميعها معادلات جذرية ، ولكن $\sqrt{٣} + س = ٤$ ليست معادلة جذرية (لماذا ؟) .

حل المعادلة الجذرية :

عند حل المعادلة الجذرية نحدد أولاً الشرط الذي يجعل الجذر ينتمي لمجموعة الأعداد الحقيقية أي أن يكون المجذور أكبر من أو يساوي الصفر ، مما يسمح لنا برفع الطرفين لقوة الجذر في حالة ما يكون الدليل عدداً زوجياً ، وعندما يكون الدليل فردياً لاتحتاج لوضع شرط للحل كما سنرى في الأمثلة التالية .

مثال (٣ – ٢٤) حل المعادلة الآتية : $\sqrt{٢س + ٣} = س$

الحـــل

$\sqrt{٢س + ٣} = س$ نربع طرفي المعادلة .

∴ $٢س + ٣ = س^{٢}$.

أو $س^{٢} - ٢س - ٣ = ٠$ ⇐ (س – ٣) (س + ١) = ٠ .

http://E-learning-moe.edu.ye

أما (س – ٣) = ٠ ⇐ س = ٣

أو (س + ١) = ٠ ⇐ س = – ١

وللتأكد من أنهما يحققان المعادلة نعوّض عن قيمتي س في المعادلة :

عندما س = ٣ الطرف الأيمن = $\sqrt{٢ س + ٣}$ = $\sqrt{٣ + ٣ \times ٢}$ = $\sqrt{٩}$ = ٣ = الطرف الأيسر .

س = ٣ تمثل حل للمعادلة .

عندما س = – ١ الطرف الأيمن = $\sqrt{٢ س + ٣}$ = $\sqrt{٣ + ١ - \times ٢}$ = $\sqrt{١}$ = ١ ≠ الطرف الأيسر.

∴ س = – ١ ليس حل للمعادلة .

مما سبق نرى أن شرط الحل عند وضعه في بداية الحل يحدّد لنا الحل الذي يحقق المعادلة كما سوف نرى في الأمثلة الآتية .

مثال (٣ – ٢٥) حل المعادلات الآتية :

١) $\sqrt{س}$ – ٤ = ٥ .

٢) $\sqrt{٢ س - ٦}$ = $\sqrt{س + ١}$.

الحـــل

١) شرط الحل س ≥ ٠ ، وبإضافة ٤ لطرفي المعادلة نحصل على : $\sqrt{س}$ = ٩ نربع طرفي المعادلة.

∴ ($\sqrt{س}$)^{٢} = $٩^{٢}$ ⇐ س = ٨١ ≥ ٠ (تحقق شرط الحل) .

٢) $\sqrt{٢ س - ٦}$ = $\sqrt{س + ١}$ شرط الحل : ٢ س – ٦ ≥ ٠ أي س ≥ ٣

و س + ١ ≥ ٠ أي س ≥ – ١ .

إذن س ≥ ٣

نربّع طرفي المعادلة لنحصل على ٢ س – ٦ = س + ١ ⇐ س = ٧ ≥ ٣ (تحقق شرط الحل).

مثال (٣ – ٢٦) حل المعادلات الآتية : $\sqrt[٣]{٢ س - ٣}$ = ٢

الحـــل

نكعب طرفي المعادلة : ($\sqrt[٣]{٢ س - ٣}$)^{٣} = $٢^{٣}$.

⇐ ٢ س – ٣ = ٨ ⇐ ٢ س = ٨ + ٣ ∴ س = $\frac{١١}{٢}$.

التحقيق :

الطرف الأيمن = $\sqrt[٣]{٢ س - ٣}$ = $\sqrt[٣]{٢ \times \frac{١١}{٢} - ٣}$ = $\sqrt[٣]{١١ - ٣}$ = $\sqrt[٣]{٨}$

= ٢ = الطرف الأيسر .

http://Yaman.E-learning-moe.edu.ye

تمارين ومسائل (٣-٦)

[١] حل المعادلات الآتية وتحقق من صحة الحل:

أ) $٥^{٤س+١} = ٢٥^{٣س}$. ب) $٢^{س} = \frac{١}{١٦}$. جـ) $٥^{-٢} = ٢٥$.

د) $(٣٢)^{هـ-١} = ٨$. هـ) $(\frac{٣}{٥})^{٢س-١} = (\frac{٥}{٣})^{-٣}$. و) $١٠^{س} = ٠,٠٠١$.

ز) $١٠^{(س-٤)(س-٥)} = ١$. ح) $٢^{س} \times ٨ = ٦٤$.

[٢] حل المعادلات الآتية : وتحقق من صحة الحل :

أ) $٣^{س-٥} = ٢^{س-٥}$. ب) $٧^{س^{٢}-٦س+٥} = ٢^{س^{٢}-٦س+٥}$.

جـ) $٥^{س^{٢}-٥س} = ٣^{س^{٢}-٥س}$. د) $\sqrt[س]{٣^{س^{٢}}} = ٩$.

هـ) $٣^{س^{٢}} = ٣^{س+\sqrt{٢}}$. و) $٧^{ص+٢} - ٧^{ص+١} = ٠$.

[٣] أوجد مجموعة الحل لكل من المعادلات الآتية :

أ) $٣^{٢س} - ٤ \times ٣^{س} + ٣ = ٠$. ب) $[(٢٥)^{٣}]^{٢} \times ١٢٥ = ٥^{س}$.

جـ) $٢٥^{س-١} - ٦ \times ٥^{س-١} + ٥ = ٠$. د) $٢٥ \times ٥^{س-١} = ١$.

[٤] حل المعادلات الآتية :

أ) $\sqrt{٢س - ٥} = ٣$. ب) $\sqrt{س} = س - ١٢$.

جـ) $\sqrt{س + ٤} - \sqrt{س - ٣} = ١$. د) $\sqrt{س} - ٦ = ٣$.

هـ) $\sqrt{أ^{٢} + ١٠} = أ + ٣$. و) $\sqrt{٢ب + ٥} = \sqrt{٣ب + ٤}$.

[٥] أوجد مجموعة الحل للمعادلات الآتية :

أ) $٢\sqrt{٣س} = \sqrt{٥س + ٧}$. ب) $٢\sqrt{٢ص - ١} = \sqrt{٤ص}$.

جـ) $\sqrt{أ} \sqrt{أ - ٥} = ٦$. د) $٢\sqrt{د + ٣} - \sqrt{د - ٢} = ٢$.

هـ) $\sqrt{س^{٢} - ٧} = ٣$. و) $\sqrt[٥]{أ^{٢} - ٥} = -١$.

ز) $\sqrt[٤]{٢س^{٢} - ٣س - ٨} = -١$.

ح) $(٢س^{٢} + ٣س - ٥)^{\frac{١}{٢}} = (٢س^{٢} - س - ٢)^{\frac{١}{٢}}$. ط) $\sqrt{٥س + ١} - ١ = \sqrt[٣]{س}$.

http://E-learning-moe.edu.ye

٤ : ١ الصورة العامة للحدودية في متغير واحد

سبق أن تعرفت على المقادير الجبرية ، وفيما يلي بعض الأمثله عليها :

١) ٢ س + ٩ مقدار جبري من الدرجة الأولى لأن أعلى أس فيها ١ .

٢) ٢ س^{٢} − ٧ س + $\frac{١}{٤}$ مقدار جبري من الدرجة الثانية لأن أعلى أس فيها ٢ .

٣) س^{٢} + $\frac{١}{\text{س}}$ + ٩ .

٤) س + ٥^{س} + ٣ .

٥) $\sqrt{\text{س} + ٣}$ + ٥ .

وإذا تأملنا المقادير السابقة نلاحظ أنها من صنفين : الصنف الأول لا تحتوي على متغير في المقام ، أو تحت الجذر أو في الأس وهي الواردة في المثالين ١ ، ٢ ، وتسمى هذه حدوديات (أو كثيرات الحدود) ومفردها حدودية.

أما الصنف الثاني في الأمثلة من ٣ إلى ٥ فتحتوي على متغير في المقام (أي أس سالب) كما في ٣ أو يحتوي على متغير في الأس كما في ٤ أو يحتوي على متغير تحت الجذر كما في ٥ .

تعريف (٤ : ١)

الصورة العامة للحدودية في المتغير س من الدرجة د هي : $أ_{د}$ س^{د} + $أ_{د-١}$ س$^{د-١}$ + ... + $أ_{١}$ س + $أ_{٠}$.

حيث د ∈ ط ، والمعاملات $أ_{د}$ ، $أ_{د-١}$ ، .... ، $أ_{٠}$ ∈ ح ، $أ_{د}$ ≠ صفر ، **ويسمى** $أ_{د}$ **المعامل الرئيسي ،** $أ_{٠}$ **بالحد المطلق ، ويرمز للحدودية بالرمز حـ (س) ، ويمكن اختصاره بالرمز حـ .**

مثال (٤ − ١) بيّن درجة كل حدودية مما يلي ومعاملها الرئيسي وحدها المطلق :

أ) حـ$_{١}$ = ٧ س^{٥} − ٤ س^{٤} + س^{٢} − ٢ س + ١ . ب) حـ$_{٢}$ = ٥ − ٢ س^{٣} − س^{٤} − س^{٦} + س .

جـ) حـ$_{٣}$ = ٤٥ .

http://Yaman.E-learning-moe.edu.ye

الحـــل

أ) $حـ_{١}$ حدودية من الدرجة الخامسة ، معاملها الرئيس ٧ ، وحدها المطلق = ١ .

ب) $حـ_{٢}$ حدودية من الدرجة السادسة ، معاملها الرئيس −١ ، حدها المطلق = ٥ .

جـ) $حـ_{٣}$ حدودية من الدرجة صفر ، معاملها الرئيسي $أ_{٠}$ = ٤٥ وهو الحد المطلق، وتسمى مثل هذه الحدودية بالحدودية الثابتة .

مثال (٤ − ٢) كون الحدودية من الدرجة الرابعة في المتغير س ، والتي معاملاتها $أ_{٤}$ = ٢ ، $أ_{٣}$ = −١ ، $أ_{٢}$ = $أ_{١}$ = صفر ، $أ_{٠}$ = ٤ .

الحـــل

الصورة العامة للحدودية من الدرجة الرابعة في المتغير س هي :

جـ = $أ_{٤}$ س^{٤} + $أ_{٣}$س^{٣} + $أ_{٢}$س^{٢} + $أ_{١}$ س + $أ_{٠}$ وبالتعويض عن المعاملات بالقيم المعطاه فاننا نحصل على الحدودية حـ = ٢ س^{٤} − س^{٣} + ٤ .

تدريب (٤−١)

تأمل الحدودية س^{٢} − ٥ س + ٦ ، فعندما س = ٠ ، فإن قيمة الحدودية = (٠)^{٢} − ٥ (٠) + ٦ = ٦ .

احسب قيمة الحدودية عندما س = ٢ ، س = $\frac{١}{٥}$.

تمارين ومسائل (٤ − ١)

[١] بين درجة وعدد حدود كل حدودية مما يأتي :

أ) س^{٦} − س^{٥} + ٢ س^{٣} − ٥ .

ب) $\frac{١}{٢}$ س^{٣} + $\frac{٣}{٥}$س^{٦} + ٧ س + ٣ س^{٧} + ٩ .

جـ) − س + ٥ .

ء) ٩ .

[٢] أكتب الحدوديات التالية وفق المعطيات :

أ) $أ_{٤}$ = ٧ ، $أ_{٣}$ = ٤ ، $أ_{٢}$ = ١ ، $أ_{١}$ = صفر ، $أ_{٠}$ = −٢ .

ب) $أ_{٠}$ = ٣ ، $أ_{٦}$ = ٢ ، $أ_{١}$ = −٤ ، $أ_{٥}$ = $أ_{٣}$ = $أ_{٤}$ = صفر ، $أ_{٢}$ = − $\frac{١}{٢}$.

جـ) $أ_{١}$ = $أ_{٢}$ = $أ_{٤}$ = ٠ ، $أ_{٧}$ = ٢ ، $أ_{٦}$ = −١ ، $أ_{٥}$ = $أ_{٠}$ = ١ ، $أ_{٣}$ = $\frac{١}{٤}$.

ء) $أ_{٣}$ = ٢ ، $أ_{٢}$ = $أ_{١}$ = صفر ، $أ_{٠}$ = ١ .

http://E-learning-moe.edu.ye

[٣] أوجد درجة كل حدودية مما يلي والمعامل الرئيس والحد المطلق فيها :

أ) حـ = س٤ – ٥ س٢ + ٥ .

ب) حـ = س٣ + ٣ س٧ – ٢ س٤ .

جـ) د = س٢ – ٧ س + ٩ .

ء) حـ = س + ٢ .

[٤] أوجد القيمة العددية للحدوديات التالية :

أ) حـ (س) = ٣س٢ + ٢ س + ٣ عندما س = $-\frac{١}{٢}$.

ب) حـ (ص) = ٢ص٣ – ص٢ + ٣ عندما ص = ٠ .

جـ) حـ (أ) = ٣أ٢ + ٧ عندما أ = – ٣ .

ء) حـ (ع) = ٦ ع٤ – ع٣ + ٣ عندما ع = – ١ .

٤ : ٢ العمليات الأربع على الحدوديات

أولاً – جمع وطرح الحدوديات :

لقد سبق لك دراسة العمليات على المقادير الجبرية مثل الجمع والطرح والضرب والقسمة، وبما أن الحدودية ما هي إلا مقدار جبري فإنه يمكننا إجراء تلك العمليات على الحدوديات بنفس الطريقة التي اتبعت مع المقادير الجبرية .

تعريف (٤ : ٢)

عند جمع أو طرح حدوديتين فإننا نحصل على حدودية جديدة تكون درجتها ليست أعلى من درجة الحدودية الأعلى درجة .

ملاحظة : (١) يمكن جمع أو طرح حدوديتين من أي درجتين .

(٢) درجة [حـ١ ± حـ٢] ≤ درجة حـ١ أو حـ٢

مثال (٤ – ٣) ليكن لدينا الحدوديتين التاليتين :

حـ١ = س٣ + ٣ س٢ – ٢ س + ٥ ، حـ٢ = ٤س٢ + ٥ س – ٢ .

فأوجد :

حـ١ + حـ٢ ، حـ١ – حـ٢ ، حـ٢ + حـ١ ، حـ٢ – حـ١ .

http://Yaman.E-learning-moe.edu.ye

الحـــل

$ح_1 + ح_2 = (س^3 + 3س^2 - 2س + 5) + (4س^2 + 5س - 2)$

$= س^3 + 3س^2 - 2س + 5 + 4س^2 + 5س - 2$

$= س^3 + 7س^2 + 3س + 3$.

$ح_1 - ح_2 = (س^3 + 3س^2 - 2س + 5) - (4س^2 + 5س - 2)$

$= س^3 + 3س^2 - 2س + 5 - 4س^2 - 5س + 2$

$= س^3 - س^2 - 7س + 7$.

$ح_2 + ح_1 = (4س^2 + 5س - 2) + (س^3 + 3س^2 - 2س + 5)$

$= س^3 + 7س^2 + 3س + 3$.

$ح_2 - ح_1 = (4س^2 + 5س - 2) - (س^3 + 3س^2 - 2س + 5)$

$= 4س^2 + 5س - 2 - س^3 - 3س^2 + 2س - 5 = -س^3 + س^2 + 7س - 7$.

مما سبق نجد أن :

$ح_1 + ح_2 = ح_2 + ح_1$ ∴ عملية جمع الحدوديات إبدالية .

$ح_1 - ح_2 \neq ح_2 - ح_1$ ∴ عملية طرح الحدوديات غير إبدالية .

تدريب (٤-٢) ماذا تلاحظ على درجة كل من $ح_1$ ، $ح_2$ ، $ح_1 + ح_2$ ، $ح_1 - ح_2$.

ثانياً - ضرب الحدوديات :

كما هو عليه الحال في ضرب المقادير الجبرية فإننا نجري عملية ضرب الحدوديات :

تعريف (٤ : ٣)

١ - عند ضرب حدودية في عدد غير صفري ؛ فإننا نضرب جميع حدود الحدودية في ذلك العدد، ونحصل على حدودية جديدة درجتها تساوي درجة الحدودية .

٢ - عند ضرب حدودية في أخرى فإننا نضرب حدودهما باستخدام قانون التوزيع ، ثم نجمع الحدود المتشابهة فيكون الناتج حدودية جديدة درجتها تساوي مجموع درجتي الحدوديتين المضروبتين في بعض.

ملاحظة: درجة $[ح_1 \cdot ح_2]$ = درجة $ح_1$ + درجة $ح_2$ ، حيث $ح_1$ ، $ح_2$ حدوديتان من أي درجة.

http://E-learning-moe.edu.ye

مثال (٤ - ٤) لتكن $ح_{١} = س + ٢$ ، $ح_{٢} = س^{٢} - س + ٢$ ،

$ح_{٣} = س^{٣} + ٢ س^{٢} + ٩ س - ٣$ فأوجد :

أ) ٥ $ح_{١}$ وحدّد درجتها . ب) $ح_{١} \cdot ح_{٣}$ وحدّد درجتها .

جـ) ٢ $ح_{٢} \cdot ح_{١}$ وحدّد درجتها . د) $-٢ ح_{١} \cdot \frac{٣}{٤} ح_{٢}$.

الحـــل

أ) ٥ $ح_{١} = ٥ (س + ٢) = ٥ س + ١٠$ حدودية من الدرجة الأولى .

ب) $ح_{١} \cdot ح_{٣} = (س + ٢) \cdot (س^{٣} + ٢ س^{٢} + ٩ س - ٣)$

$= س (س^{٣} + ٢ س^{٢} + ٩ س - ٣) + ٢ (س^{٣} + ٢ س^{٢} + ٩ س - ٣)$

$= س^{٤} + ٢ س^{٣} + ٩ س^{٢} - ٣ س + ٢ س^{٣} + ٤ س^{٢} + ١٨ س - ٦$

$= س^{٤} + ٤ س^{٣} + ١٣ س^{٢} + ١٥ س - ٦$ حدودية من الدرجة الرابعة .

جـ) ٢ $ح_{٢} \cdot ح_{١} = ٢ (س^{٢} - س + ٢) \cdot (س + ٢) = (٢ س^{٢} - ٢ س + ٤) \cdot (س + ٢)$

$= ٢ س^{٢} (س + ٢) - ٢ س (س + ٢) + ٤ (س + ٢)$

$= ٢ س^{٣} + ٤ س^{٢} - ٢ س^{٢} - ٤ س + ٤ س + ٨$

$= ٢ س^{٣} + ٢ س^{٢} + ٨$ حدودية من الدرجة الثالثة .

د) $-٢ ح_{١} \cdot \frac{٣}{٤} ح_{٢} = -٢ (س + ٢) \cdot \frac{٣}{٤} (س^{٢} - س + ٢)$

$= (-٢ س - ٤) \cdot (\frac{٣}{٤} س^{٢} - \frac{٣}{٤} س + \frac{٣}{٢})$.

$= -٢ س (\frac{٣}{٤} س^{٢} - \frac{٣}{٤} س + \frac{٣}{٢}) - ٤ (\frac{٣}{٤} س^{٢} - \frac{٣}{٤} س + \frac{٣}{٢})$

$= -\frac{٣}{٢} س^{٣} + \frac{٣}{٢} س^{٢} - ٣ س - ٣ س^{٢} + ٣ س - ٦$

$= -\frac{٣}{٢} س^{٣} - \frac{٣}{٢} س^{٢} - ٦$.

http://Yaman.E-learning-moe.edu.ye

مثال (٤ - ٥) لتكن $ح_١ = س^٥ + ٣ س^٢ - ٢$ ، $ح_٢ = س^٣ - ٨$

فأوجد :

أ) $ح_١ \cdot ح_٢$ وحدّد درجتها . ب) $ح_٢ \cdot ح_١$ وحدّد درجتها .

قارن حاصلي الضرب . ماذا نستنتج ؟

الحـل

أ) $ح_١ \cdot ح_٢ = (س^٥ + ٣س^٢ - ٢) . (س^٣ - ٨)$

$= س^٥ (س^٣ - ٨) + ٣س^٢ (س^٣ - ٨) - ٢ (س^٣ - ٨)$

$= س^٨ - ٨ س^٥ + ٣ س^٥ - ٢٤ س^٢ - ٢ س^٣ + ١٦$

$= س^٨ - ٥ س^٥ - ٢ س^٣ - ٢٤ س^٢ + ١٦$ حدودية من الدرجة الثامنة .

ب) $ح_٢ \cdot ح_١ = (س^٣ - ٨) . (س^٥ + ٣ س^٢ - ٢)$

$= س^٣ (س^٥ + ٣ س^٢ - ٢) - ٨ (س^٥ + ٣س^٢ - ٢)$

$= س^٨ + ٣ س^٥ - ٢س^٣ - ٨س^٥ - ٢٤ س^٢ + ١٦$

$= س^٨ - ٥ س^٥ - ٢س^٣ - ٢٤ س^٢ + ١٦$

من (أ) ، (ب) نجد أن :

$ح_١ \cdot ح_٢ = ح_٢ \cdot ح_١$ وهذا يوضح أن عملية ضرب الحدوديات عملية إبدالية .

مثال (٤ - ٦) لتكن $ح_١ = س + ٤$ ، $ح_٢ = س^٢ - ٢س + ٤$ ، $ح_٣ = س^٣ + ٨$

فأوجد :

أ) $ح_١ \cdot (ح_٢ + ح_٣)$. ب) $ح_١ \cdot ح_٢ + ح_١ \cdot ح_٣$.

قارن خارج العمليات في (أ) ، (ب) ماذا نستنتج ؟

الحـل

أ) $ح_١ \cdot (ح_٢ + ح_٣) = (س + ٤) [(س^٢ - ٢ س + ٤) + (س^٣ + ٨)]$.

$= (س + ٤) [س^٢ - ٢ س + ٤ + س^٣ + ٨]$.

$= (س + ٤) (س^٣ + س^٢ - ٢س + ١٢)$.

http://E-learning-moe.edu.ye

$= س (س^{٣} + س^{٢} - ٢س + ١٢) + ٤ (س^{٣} + س^{٢} - ٢س + ١٢)$

$= س^{٤} + س^{٣} - ٢س^{٢} + ١٢س + ٤س^{٣} + ٤س^{٢} - ٨س + ٤٨$

$= س^{٤} + ٥ س^{٣} + ٢س^{٢} + ٤س + ٤٨$.

ب) $حـ_{١} \cdot حـ_{٢} + حـ_{١} \cdot حـ_{٣} = (س + ٤) (س^{٢} - ٢س + ٤) + (س + ٤) (س^{٣} + ٨)$

$= س (س^{٢} - ٢س + ٤) + ٤ (س^{٢} - ٢س + ٤) + س (س^{٣} + ٨) + ٤ (س^{٣} + ٨)$

$= س^{٣} - ٢س^{٢} + ٤س + ٤س^{٢} - ٨س + ١٦ + س^{٤} + ٨س + ٤س^{٣} + ٣٢$

$= س^{٤} + ٥س^{٣} + ٢س^{٢} + ٤س + ٤٨$.

من (أ) ، (ب) نجد أن :

$حـ_{١} \cdot (حـ_{٢} + حـ_{٣}) = حـ_{١} \cdot حـ_{٢} + حـ_{١} \cdot حـ_{٣}$ ، وهذا يوضح بأن عملية ضرب الحدوديات تتوزع على عملية جمع الحدوديات .

تدريب (٤-٣) من المثال السابق (٤-٦) أوجد الآتي :

أ) $(حـ_{١} \cdot حـ_{٢}) \cdot حـ_{٣}$ ، $حـ_{١} \cdot (حـ_{٢} \cdot حـ_{٣})$ قارن بين حاصل الضرب . ماذا تستنتج ؟

ب) $حـ_{١} + (حـ_{٢} + حـ_{٣})$ ، $(حـ_{١} + حـ_{٢}) + حـ_{٣}$ قارن المجموعين . ماذا تستنتج ؟

ثالثاً - قسمة الحدوديات :

تذكر إذا كان : أ ، ب عددان صحيحان وكان أ ≠ ٠ نقول أن ب تقبل القسمة على أ إذا وجد عدد صحيح جـ (قد يساوي الصفر) يحقق العلاقة : ب = أ . جـ .
نسمي أ عامل من عوامل ب ، ونكتب ب ÷ أ = جـ ، وإذا كان جـ ≠ ٠ ، فإن جـ أيضاً عامل من عوامل ب ويكون ب ÷ جـ = أ .

فمثلاً نقول إن -٢٤ تقبل القسمة على ٣ لأن : $-٢٤ = ٣ \times -٨$ ، ويكون $\frac{-٢٤}{٣} = -٨$ ، ويكون كلٌ من ٣ ، -٨ عاملاً من عوامل -٢٤ ، وبطريقة مشابهة يمكن أن نعرّف عملية قسمة الحدوديات واستناداً إلى قسمة المقادير الجبرية على النحو التالي :

تعريف (٤ : ٤)

إذا كان $حـ_{١}$ ، $حـ_{٢}$ حدوديتين ، وكانت $حـ_{٢} \neq ٠$ ودرجة $حـ_{٢} \geq$ درجة $حـ_{١}$ فإننا نقول إن $حـ_{١}$ تقبل القسمة على $حـ_{٢}$ إذا وجدت حدودية $حـ_{٣}$ بحيث : $حـ_{١} = حـ_{٢} \times حـ_{٣}$.
وفي هذه الحالة نسمي $حـ_{٣}$ عاملاً من عوامل $حـ_{١}$ ويكون $حـ_{١} ÷ حـ_{٢} = حـ_{٣}$ ، وإذا كان $حـ_{٣} \neq ٠$ فإن $حـ_{٣}$ أيضاً عاملاً من عوامل $حـ_{١}$ ويكون $حـ_{١} ÷ حـ_{٣} = حـ_{٢}$.

http://Yaman.E-learning-moe.edu.ye

مثال (٤ – ٧) لتكن $ح_١ = س^٢ - ٩$ ، $ح_٢ = س - ٣$ بين أن $ح_١$ تقبل القسمة على $ح_٢$.

الحـــل

لبيان قابلية القسمة نبحث عن $ح_٣$ بحيث $ح_١ = ح_٢ \bullet ح_٣$ ؛ وحيث إن :

$ح_١ = س^٢ - ٩ = (س - ٣)(س + ٣) = ح_٢ (س + ٣)$ ، وبأخذ $ح_٣ = س + ٣$ نجد أن :

$ح_١ = ح_٢ \bullet ح_٣$.

$\therefore$ $ح_٢$ تقسم $ح_١$ أي أن $ح_١ \div ح_٢ = ح_٣$.

مثال (٤ – ٨) إذا كانت $ح_١ = ٣س^٣ - ٢٤$ ، $ح_٢ = س^٢ + ٢س + ٤$ ، فأوجد : $ح_٣$ بحيث : $ح_١ = ح_٢ \bullet ح_٣$.

الحـــل

لإيجاد $ح_٣$ نجري عملية قسمة $ح_١$ على $ح_٢$ باتباع نفس خطوات عملية قسمة المقادير الجبرية التي تم دراستها في الصف الثامن الأساسي وتتم هذه الخطوات على النحو التالي :

$(٣س^٣ - ٢٤) \div (س^٢ + ٢س + ٤) = ٣س - ٦$

$\therefore$ $ح_٣ = ٣س - ٦$

وللتحقق من صحة الحل :

نضرب خارج القسمة X المقسوم عليه فنحصل على المقسوم $(٣س - ٦) \bullet (س^٢ - ٢س + ٤)$

$= ٣س(س^٢ + ٢س + ٤) - ٦(س^٢ + ٢س + ٤)$

$= ٣س^٣ + ٦س^٢ + ١٢س - ٦س^٢ - ١٢س - ٢٤$

$= ٣س^٣ - ٢٤$.

$٣س^٣ - ٢٤$	$س^٢ + ٢س + ٤$
$-٣س^٣ \pm ٦س^٢ \pm ١٢س$	$٣س - ٦$
$-٦س^٢ - ١٢س - ٢٤$	
$\pm ٦س^٢ \pm ١٢س \pm ٢٤$	
٠ ٠ ٠	

مثال (٤ – ٩) لتكن $ح_١ = (٢س^٢ - ٤س^٥ - ٢٠س^٣ + ١٠)$ ، $ح_٢ = ٥ + س^٢$ فأوجد $ح_١ \div ح_٢$.

الحـــل

نرتب حدود كل من $ح_١$ ، $ح_٢$ تنازلياً ثم نجري عملية القسمة على النحو التالي :

$(-٤س^٥ - ٢٠س^٣ + ٢س^٢ + ١٠) \div (س^٢ + ٥)$

$= -٤س^٣ + ٢$

$-٤س^٥ - ٢٠س^٣ + ٢س^٢ + ١٠$	$س^٢ + ٥$
$\pm ٤س^٥ \pm ٢٠س^٣$	$-٤س^٣ + ٢$
$٢س^٢ + ١٠$	
$٢س^٢ \pm ١٠$	
٠ ٠	

http://E-learning-moe.edu.ye

ملاحظة : نلاحظ من المثالين السابقين ما يلي :

١) ناتج قسمة حدودية على حدودية أخرى هو حدودية .

٢) درجة حدودية المقسوم = درجة حدودية المقسوم عليه + درجة حدودية حاصل ناتج القسمة .

٣) باقي القسمة يساوي صفراً وهذا يعني أن باقي القسمة هو حدودية صفرية .

ولكن بوجه عام عند قسمة حدودية على حدودية أخرى قد يكون هناك باقٍ للقسمة، ونوضح ذلك في المثال التالي :

مثال (٤ - ١٠) لتكن $ح_١ = ٣س^٤ - س^٣ + ٢س + ١٢$ ، $ح_٢ = ١ + س^٢$ ، فأوجد $ح_١ \div ح_٢$ ، ثم قارن بين درجة المقسوم ودرجتي كلاً من المقسوم عليه وناتج القسمة، ماذا تستنتج ؟

الحـــل

$ح_١ \div ح_٢ = (٣س^٤ - س^٣ + ٢س + ١٢) \div (س^٢ + ١)$

عند إجراء عملية القسمـــة نلاحظ أننا أوقفنا عملية القسمة عندما أصبحت درجة باقي القسمة أقل من المقسوم عليه، وتكون مخرجات القسمة على الصورة :

$$\begin{array}{r|l} ٣س^٤ - س^٣ + ٢س + ١٢ & س^٢ + ١ \\ \hline \pm ٣س^٤ \quad \pm ٣س^٢ & ٣س^٢ - س - ٣ \\ \hline - س^٣ - ٣س^٢ + ٢س + ١٢ & \\ \pm س^٣ \quad \pm س & \\ \hline - ٣س^٢ + ٣س + ١٢ & \\ \pm ٣س^٢ \quad \pm ٣ & \\ \hline ٣س + ١٥ & \end{array}$$

المقسوم = المقسوم عليه × ناتج القسمة + الباقي .

أي أن : $(٣س^٤ - س^٣ + ٢س + ١٢) = (س^٢ + ١) \cdot (٣س^٢ - س + ٣) + (٣س + ١٥)$.

ونلاحظ أن : درجة المقسوم = ٤ ، ودرجة المقسوم عليه = ٢ ، ودرجة ناتج القسمة = ٢

∴ درجة المقسوم = درجة المقسوم عليه + درجة ناتج القسمة .

وبوجه عام : إذا كانت $ح_١$ ، $ح_٢$ حدوديتين وكانت $ح_٢ \neq ٠$ ، $ح_٢$ درجتها أقل من درجة $ح_١$ ؛ فإنه توجد حدوديتان $ح_٣$ ، $ح_٤$ بحيث تكون :

$ح_١ = ح_٢ \cdot ح_٣ + ح_٤$ ، وتكون درجة $ح_٤$ أقل من درجة $ح_٢$ أو تكون $ح_٤$ حدودية صفرية، ونسمي $ح_١$: المقسوم ، $ح_٢$: المقسوم عليه ، $ح_٣$: خارج (ناتج) القسمة ، $ح_٤$: باقي القسمة .

http://Yaman.E-learning-moe.edu.ye

تمارين ومسائل (٤ - ٢)

[١] لتكن $ح_{١} = ٢س^{٣} + ٤س - ٦$ ، $ح_{٢} = س^{٢} - س + ٤$ ، $ح_{٣} = ٤س^{٣} - س^{٢} + س$. فأوجد :

أ) $ح_{١} + ح_{٣}$ ، ب) $-٥ (ح_{١} + ح_{٣})$ ،

جـ) $(ح_{١} - ح_{٣})$ ، ء) $ح_{٣} \cdot ح_{٣}$ ،

هـ) $ح_{١} (ح_{٣} + ح_{٣})$ ، و) $(\frac{١}{٢} ح_{١} + ٢ ح_{٣} + ح_{٣})$

[٢] إذا كانت $ح_{١}$ ، $ح_{٢}$ حدوديتين ، فأوجد $ح_{١} \cdot ح_{٢}$ في كل مما يأتي ، وقارن درجة الناتج مع درجة $ح_{١}$ ، $ح_{٢}$:

أ) $ح_{١} = ٣س^{٣}$ ، $ح_{٢} = ٢س + ٣$.

ب) $ح_{١} = \sqrt{٣٧} س^{٤}$ ، $ح_{٢} = \sqrt{٣٧} س^{٣} + \sqrt{٢٧٧} س + ٣\sqrt{١٥}$.

جـ) $ح_{١} = (٢س - ١)$ ، $ح_{٢} = ٢س (٢س^{٢} - ١)$.

ء) $ح_{١} = س^{٢} + ٢س + ١$ ، $ح_{٢} = (٢س - ٢) (س^{٣} + س)$.

[٣] إذا كانت $ح_{٣}$ عاملاً من عوامل $ح_{١}$ في كل مما يأتي فأوجد العامل الآخر :

أ) $ح_{١} = س^{٣} + ١$ ، $ح_{٣} = س + ١$.

ب) $ح_{١} = ٣س^{٣} - ٧س^{٢} - ١١س + ١٥$ ، $ح_{٣} = س - ١$.

جـ) $ح_{١} = ٢س^{٥} - ٨س^{٣} + س^{٢} - ٤$ ، $ح_{٣} = س^{٢} - ٤$.

ء) $ح_{١} = ٢س^{٤} - ٣س^{٣} - ٨$ ، $ح_{٣} = ٢س^{٣} + س^{٢} + ٢س + ٤$.

هـ) $ح_{١} = -٣س^{٤} - ١١س^{٢} + ٩س^{٣} + ٢٠ - ١٢س$ ، $ح_{٣} = ٥ - ٣س + س^{٢}$.

[٤] أوجد في كل مما يأتي خارج وباقي قسمة $ح_{١}$ على $ح_{٣}$:

أ) $ح_{١} = س^{٢} + ١$ ، $ح_{٣} = س + ١$.

ب) $ح_{١} = ٣س^{٤} - س^{٣} + س^{٢} + ١$ ، $ح_{٣} = س + ٢$.

جـ) $ح_{١} = ٢س^{٣} + ٥س^{٤} - ٨$ ، $ح_{٣} = س^{٢} - ١$.

ء) $ح_{١} = ٣س^{٥} - ٣س^{٢} + ٧$ ، $ح_{٣} = س^{٢} + ٣س + ١$.

[٥] ليكن خارج قسمة $ح_{١}$ على $ح_{٣}$ هو $ح_{٣} = (س^{٢} - س + ١)$ والباقي $ح_{٤} = س + ١$

فإذا كان $ح_{١} (٢) = ٥$ ، فأوجد $ح_{٣} (٢)$.

[٦] لتكـن $ح_{١} = ح_{٣} \cdot ح_{٣} + ح_{٤}$ حيث $ح_{١} = ٥س^{٣} + ١٠س^{٢} - ٢س + ٧$ ،

$ح_{٣} = ٣س^{٢} + س - ٥$ فأوجد كلاً من : $ح_{٣}$ ، $ح_{٤}$.

http://E-learning-moe.edu.ye

٤ : ٣ مبرهنتا الباقي والعامل

كما سبق أن عرفت أنّ عملية القسمة قد يكون لها باقٍ ، وفي هذا البند سندرس مبرهنتين الأولى تتعلق بالباقي والأخرى تتعلق بعوامل الحدودية .

أولاً – مبرهنة الباقي :

لتكن $ح_{١} = س^{٢} - ٥س + ٩$ ، $ح_{٣} = س - ٣$ فإن عملية قسمة $ح_{١}$ على $ح_{٣}$ تكون على النحو التالي :

$$\frac{ح_{١}}{ح_{٣}} = ح_{٣} + \frac{ح_{٤}}{ح_{٣}}$$ أي أن : $\boxed{ح_{١} = ح_{٣} \bullet ح_{٣} + ح_{٤}}$.

$$\therefore \frac{س^{٢} - س + ٩}{س - ٣} = (س - ٢) + \frac{٣}{س - ٣}$$

$$\Leftarrow س^{٢} - ٥س + ٩ = (س - ٣)(س - ٢) + ٣$$

$س^{٢} - ٥س + ٩$	$س - ٣$
$\mp س^{٢} \pm ٣س$	$س - ٢$
$٠ - ٢س + ٩$	
$\pm ٢س \mp ٦$	
$٣ + ٠$	

ونستطيع إجراء عملية القسمة هذه بطريقة أخرى وهي الطريقة التركيبية كالآتي :

	١	–٥	٩
٣		٣	–٦
	١	–٢	٣

التفسير :

١) اكتب المعاملات بعد ترتيب حدودها تنازلياً حسب قوى س .
٢) اكتب ٣ على اليسار (صفر المقسوم عليه (س – ٣)) .
٣) أنزل أول معامل في $ح_{١}$ وهو ١ .
٤) اضرب ١ × ٣ واكتب الناتج اسفل المعامل الثاني .
٥) اجمع لتحصل على –٢ .
٦) اضرب –٢ × ٣ واكتب الناتج –٦ أسفل المعامل الثالث .
٧) اجمع لتحصل على ٣ .

فيكون خارج القسمة $ح_{٣} = (س - ٢)$ وباقي القسمة $ح_{٤} = ٣$.

وإذا حسبنا $ح_{١}$ عندما س = ٣ نجد أن $ح_{١}(٣) = (٣)^{٢} - ٥ \times ٣ + ٩ = \boxed{٣}$ ، وهذا يعني أن باقي القسمة $ح_{٤} = ح_{١}(٣)$ ، حيث $ح_{١}(٣)$ هو رمز للقيمة العددية $ح_{١}$ عند ما س = ٣ . أي أن باقي قسمة $ح_{١}$ على $ح_{٣}$ يساوي $ح_{٤} = ٣$.

http://Yaman.E-learning-moe.edu.ye

وكذلك إذا قسمنا الحدودية $ح_{ن}$ = (٣ س^{٣} – ٥س + ١) على $ح_{م}$ = (س – ٢) يكـون خـارج القسمـة $ح_{ن}$ = (٣ س^{٢} + ٦س + ٧) ، وباقي القسمة $ح_{٤}$ = ١٥ .

	٣	٠	٥–	١
٢	٦	١٢	١٤	
	٣	٦	٧	١٥

وعند إجراء عملية القسمة التركيبية نحصل على النموذج إلى اليسار :

أي أن خارج قسمة $ح_{ن}$ على $ح_{م}$ = $ح_{ن}$ = (٣ س^{٢} + ٦ س + ٧)

وباقي القسمة $ح_{٤}$ = ١٥ ،وعند حساب القيمة العددية للحدودية

$ح_{ن}$ عندما س = ٢ تحصل على $ح_{ن}$ (٢) = ٣ (٢)^{٣} – ٥ (٢) + ١ = ٢٤ – ١٠ + ١ = ١٥ .

تدريب (٤–٥) أقسم $ح_{ن}$ على $ح_{م}$ إذا كانت $ح_{ن}$ = ٨ س^{٤} – س^{٢} + ١٢ ، $ح_{م}$ = ٢س – ١

(٨ س^{٤} – س^{٢} + ١٢) ÷ (٢ س – ١) = ٤ س^{٣} + ... + $\frac{١}{٢}$ س + ... وباقي القسمة يساوي $\frac{١}{٤}$ ١٢ .

ولحساب القيمة العددية لـ $ح_{ن}$ عندما س = $\frac{١}{٢}$.

$ح_{ن}$ ($\frac{١}{٢}$) = ٨ ($\frac{١}{٢}$)^{٤} – ... + ١٢ = ...

تلاحظ أن الطريقة الثانية اقصر وأسهل بكثير من طريقة القسمة (المطولة أو التركيبية) لإيجاد الباقي ٥ ومما سبق يمكن تقديم المبرهنة التالية :

مبرهنة الباقي

باقي قسمة أي حدودية $ح_{ن}$ على حدودية من الدرجة الأولى $ح_{م}$ = (ا س + ب) ، ا ، ب ∋ ح يساوى $ح_{٤}$ حيث $ح_{٤}$ = القيمة العددية للحدودية $ح_{ن}$ عندما س = $\frac{-ب}{ا}$.

مثال (٤ – ١١) أوجد باقي قسمة الحدودية ح = ٣ س^{٤} – ٢س^{٣} + ١ على :

أ) $ح_{م}$ = س + ٢ . ب) $ح_{م}$ = ٣ س – ١ .

جـ) $ح_{م}$ = ٢ س + ١ .

الحـــل

أ) باقي قسمة ٣ س^{٤} – ٢ س^{٣} + ١ على س + ٢ هو القيمة العددية لـ ح عندما س = –٢

فيكون جـ (–٢) = ٣ (–٢)^{٤} – ٢ (–٢)^{٣} + ١ = ٤٨ + ١٦ + ١ = ٦٥ .

ب) باقي قسمة ح على $ح_{م}$ هو ح ($\frac{١}{٣}$) = ٣ ($\frac{١}{٣}$)^{٤} – ٢ ($\frac{١}{٣}$)^{٣} + ١ = $\frac{٢٦}{٢٧}$.

http://E-learning-moe.edu.ye

جـ) باقي قسمة حـ على حـ هو حـ$(-\frac{1}{2})$ = ٣ $(-\frac{1}{2})^{٤}$ – ٢ $(-\frac{1}{2})^{٣}$ + ١

= ٣ × $\frac{1}{16}$ + $\frac{2}{8}$ + ١ = $\frac{23}{16}$.

مثال (٤ – ١٢) إذا كان باقي قسمة حـ = س^{٥} – ب س^{٣} + ٨ س^{٢} + ١٧ على حـ = ٢ س + ٢ يساوي ٣٣، فأوجد قيمة ب .

الحل

من مبرهنة الباقي يكون باقي قسمة حـ على حـ يساوي حـ (–١) = ٣٣ .

جـ(–١) = $(-١)^{٥}$ – ب $(-١)^{٣}$ + ٨ $(-١)^{٢}$ + ١٧ = ٣٣

–١ + ب + ٨ + ١٧ = ٣٣

ب + ٢٤ = ٣٣

ب = ٣٣ – ٢٤ = ٩ .

∴ ب = ٩

∴ حـ = س^{٥} – ٩ س^{٣} + ٨ س^{٢} + ١٧

ثانياً – مبرهنة العامل :

يكون (ا س – ب) عاملاً من عوامل الحدودية حـ(س) إذا وفقط إذا كان حـ $(\frac{ب}{ا})$ = صفراً
ا ≠ ٠ ، ب ∈ ح .

ملاحظة: عكس المبرهنة صحيح، أي أن إذا كان جـ$(\frac{ب}{ا})$ = ٠ فإن (ا س – ب) عاملاً من عوامل الحدودية جـ(س) .

مثال (٤ – ١٣) بين ما إذا كانت حـ عاملاً من عوامل حـ = س^{٣} – ٥ س + ٢ ، حيث

ا) حـ = س – ٢ . ب) حـ = س + ٣ .

الحل

ا) يكون (س – ٢) عاملاً من عوامل الحدودية حـ = س^{٣} – ٥ س + ٢ إذا كانت حـ (٢) = ٠

∵ حـ (٢) = $(٢)^{٣}$ – ٥ (٢) + ٢ = صفراً .

∴ (س – ٢) عامل من عوامل حـ .

http://Yaman.E-learning-moe.edu.ye

ب) يكون (س + ٣) عاملاً من عوامل حـ إذا كانت حـ (−٣) = ٠

لكن حـ (−٣) = (−٣)^{٣} − ٥ (−٣) + ٢ = −١٠ ≠ صفراً .

∴ (س + ٣) ليس عاملاً من عوامل حـ .

مثال (٤ − ١٥) لتكن حـ = −٣ س^{٢} + ب س + ٥ ، ب ∈ ح ، أوجد قيمة ب التي تجعل (س − ١) عاملاً من عوامل حـ .

الحـل

يكون (س − ١) عاملاً من عوامل حـ إذا وفقط إذا كان حـ (١) = صفراً .

∵ حـ (١) = −٣ (١)^{٢} + ب (١) + ٥ = ٠ ،

−٣ + ب + ٥ = ٠

ب = −٢

∴ حـ = −٣ س^{٢} − ٢ س + ٥

مثال (٤ − ١٦) لتكن حـ = س − ا^{د} حيث د ∈ ط ، ا ∈ ح* اثبت أنه :

١ − عندما تكون د عدداً زوجياً فإن حـ تقبل القسمة على كل من (س − ا) ، (س + ا) .

٢ − عندما تكون د عدداً فردياً فإن حـ تقبل القسمة على (س − ا) ولاتقبل القسمة على (س + ا).

الحـل

حـ (ا) = ا^{د} − ا^{د} = ٠ ، ينتج من مبرهنة العامل أن حـ تقبل القسمة على (س − ا) في كلتا الحالتين ١ ، ٢ (سواء كان د عدداً زوجياً أو فردياً) ، وحيث أن :

حـ (−ا) = (−ا)^{د} − ا^{د} لايكون هذا المقدار صفراً إلا إذا كان (−ا)^{د} موجباً ، وهذا ينتج عندما تكون د عدداً زوجياً . لذا حـ تقبل القسمة على (س + ا) عندما تكون د عدداً زوجياً .

تمارين ومسائل (٤ : ٣)

[١] أوجد باقي قسمة حـ$_{ن}$ على حـ$_{م}$ لكل مما يأتي :

ا) حـ$_{ن}$ = س^{٢} + ٥ س − ٣ ، حـ$_{م}$ = س − ٣ .

ب) حـ$_{ن}$ = ٢ س^{٣} − ٦ س^{٢} + ٣ ، حـ$_{م}$ = س + ٥ .

جـ) حـ$_{ن}$ = س^{٣} − ٢ س + ٥ ، حـ$_{م}$ = ٢س + ١ .

ء) حـ$_{ن}$ = ٦ س^{٣} + س^{٢} − ١ ، حـ$_{م}$ = ٢ س − ٢ .

هـ) حـ$_{ن}$ = −٥ س^{٣} + ٢س + ٧ ، حـ$_{م}$ = ٢ س + ٢ .

و) حـ$_{ن}$ = ٢ س^{٥} − ٤س^{٣} + س − ٤ ، حـ$_{م}$ = ٢ س − ٦ .

http://E-learning-moe.edu.ye

[٢] بيّن أن حـ١ عامل من عوامل حـ١ في كل مما يأتي :

أ) حـ١ = س٣ – ٤س + ٤ ، حـ١ = س – ٢ .

ب) حـ١ = ٢ س٣ + ٧س٢ – ٩ ، حـ١ = س + ٣ .

جـ) حـ١ = ٣س٣ – ٤س٢ – س + ٢ ، حـ١ = ٣س + ٢ .

[٣] أوجد قيمة أ التي تجعل باقي قسمة الحدودية :

أ) أس٢ – ٤(أ + ١) س + ٣ على (س – ٢) هو ٩ .

ب) (أ + ٣) س٣ + ٥ أس٢ + ١ على (س + ١) هو ٦ .

جـ) س٣ + ٤ س٢ – أس + ١ على (س + ١) هو ٣ .

[٤] أوجد قيمة ب التي تجعل :

أ) (س + ٢) عاملاً من عوامل الحدودية س٣ + ٨ س٢ + ب س + ٤ ، ثم أوجد العامل الآخر .

ب) الحدودية ٤ س٢ + ٨ س – ٥ تقبل القسمة على (٢ س + ب) .

[٥] برهن أن :

أ) س٣ – (٢ ب + جـ) س٢ + ب (ب + ٢ جـ) س – ب٢ جـ تقبل القسمة على (س – جـ).

ب) (س د – ١) (س د+٢ – ١) ، د ∈ ط* تقبل القسمة على (س٣ – س٢ – س + ١) .

٤ : ٤ أصفار الحدودية

عند التعويض عن س بعدد حقيقي في أي حدودية حـ نحصل على قيمة عددية مناظرة ، فإذا كانت تلك القيمة تساوي صفراً ، فإن ذلك العدد يسمى صفراً للحدودية .

لتكن حـ = س٢ – ٤ س + ٣ لإيجاد أصفار الحدودية نوجد أولاً عوامل الحد المطلق ٣ فتكون عوامل العدد ٣ هي ١ ، ٣ .

لذا نوجد حـ(١) = (١)٢ – ٤ × ١ + ٣ = صفر .

∴ ١ صفراً للحدودية .

حـ (٣) = (٣)٢ – ٤ × ٣ + ٣ = صفراً .

∴ ٣ صفراً آخر للحدودية .

∵ الحدودية من الدرجة الثانية لذا فلها صفران هما ١ ، ٣ ،

ومن مبرهنة العامل فإن :

(س – ١) عامل من عوامل الحدودية حـ . (س – ٣) عامل من عوامل الحدودية حـ .

http://Yaman.E-learning-moe.edu.ye

تعريف (٤ : ٥)

إذا كانت حـ حدودية في المتغير س من الدرجة د ، د ∈ ط ، فإن قيم س التي تجعل حـ = ٠ تسمى أصفار الحدودية حـ .

مثال (٤ - ١٧) لتكن حـ = س^{٣} – ٢ س^{٢} – ٩س + ١٨ وكان العدد ٢ أحد أصفارها . فأوجد بقية اصفار الحدودية ، ثم اكتب تحليل الحدودية .

الحـــل

∵ العدد ٢ صفراً من أصفار الحدودية ، ∴ حـ (٢) = صفر .

أي أن (س – ٢) عامل من عوامل حـ ولإيجاد العاملين الآخرين نقسم حـ على (س – ٢) .

(س^{٣} – ٢ س^{٢} – ٩ س + ١٨) ÷ (س – ٢) = س^{٢} – ٩ = (س – ٣) (س + ٣) .

أي أن (س – ٣) ، (س + ٣) من عوامل الحدودية حـ ومن مبرهنة العامل نستنتج أن :

حـ (٣) = حـ (–٣) = صفر .

∴ ٣ ، –٣ صفران آخران للحدودية حـ .

∴ حـ = (س^{٣} – ٢ س^{٢} – ٩ س + ١٨) = (س – ٢)(س + ٣) (س – ٣) .

مثال (٤ - ١٨) لتكن حـ = س^{٤} – ٧س^{٣} + ٥س^{٢} + ٣١س – ٣٠ بيّن أن العددين ١ ، –٢ صفران للحدودية .

أ) أوجد بقية أصفار الحدودية . ب) اكتب تحليل الحدودية .

الحـــل

نعوض عن س = ١ ، س = –٢ في الحدودية فنحصل على :

حـ (١) = صفر ∴ (س – ١) عامل من عوامل الحدودية حـ .

حـ (–٢) = صفر ∴ (س + ٢) عامل من عوامل الحدودية حـ .

ولتعين بقية أصفار الحدودية حـ نقسم الحدودية حـ أولاً على العامل (س – ١) ، ثم نقسم خارج القسمة على العامل (س + ٢) على النحو التالي :

(س^{٤} – ٧ س^{٣} + ٥ س^{٢} + ٣١ س – ٣٠) ÷ (س – ١) = س^{٣} – ٦ س^{٢} – س + ٣٠

(س^{٣} – ٦ س^{٢} – س + ٣٠) ÷ (س + ٢) = س^{٢} – ٨ س + ١٥ = (س – ٣) (س – ٥) .

أي أن (س – ٣) ، (س – ٥) من عوامل الحدودية حـ وفق نظرية العامل فإن ٣ ، ٥ صفران آخران للحدودية حـ .

http://E-learning-moe.edu.ye

ونكتب الحدودية على الشكل التالي :

س^{٤} – ٧ س^{٣} + ٥ س^{٢} + ٣١ س – ٣٠ = (س – ١)(س + ٢) (س – ٣) (س – ٥) .

حـل آخـر :

لإيجاد بقية اصفار الحدودية س^{٤} – ٧ س^{٣} + ٥ س^{٢} + ٣١ س – ٣٠ نقسم الحدودية على حاصل ضرب (س – ١) (س + ٢) ، وبالتالي نحصل على العاملين الآخرين .

ملاحظة :

إذا كانت الحدودية حـ = $أ_{د}$ س^{د} + $أ_{د-١}$ س$^{د-١}$ + ... + $أ_{٠}$ ، **فإن كل صفر من أصفارها الصحيحة هو عامل من عوامل حدها المطلق** $أ_{٠}$.

مثال (٤ – ١٩) لتكن حـ هي س^{٣} + ٢س^{٢} – ٢٥ س – ٥٠ .

فأوجد أ) أصفار الحدودية حـ . ب) مجموعة عواملها .

الحـل

أ) لإيجاد أصفار الحدودية نحلل الحد المطلق –٥٠ .

عوامل العدد ٥٠ = (–) (١ ، ٢ ، ٥ ، ١٠ ، ٢٥ ، ٥٠) ، أي أن بعضها ممكن يأخذ إشارة السالب .

نأخذ س تساوي احد عوامل الحد المطلق ، ولتكن س = ١

∴ حـ(١) = (١)^{٣} + ٢ (١)^{٢} – ٢٥ (١) – ٥٠ ≠ صفر .

∴ ١ ليس صفراً للحدودية حـ .

نأخذ س = ٥

∴ حـ (٥) = (٥)^{٣} + ٢ (٥)^{٢} – ٢٥ (٥) – ٥٠ = صفراً .

∴ ٥ صفر من أصفار الحدودية حـ .

∴ (س – ٥) عامل من عوامل الحدودية حـ .

ولإيجاد بقية الأصفار نقسم الحدودية على العامل (س – ٥)

(س^{٣} + ٢س^{٢} – ٢٥ س – ٥٠) ÷ (س – ٥) = س^{٢} + ٧ س + ١٠ = (س + ٢) (س + ٥) .

∴ –٥ ، –٢ صفران آخران للحدودية حـ .

لاحظ أن أصفار الحدودية –٢ ، ٥ ، –٥ من عوامل الحد المطلق –٥٠ .

ب) مجموعة عوامل الحدودية س^{٣} + ٢س^{٢} – ٢٥ س – ٥٠ = (س – ٥) (س + ٥) (س + ٢) .

http://Yaman.E-learning-moe.edu.ye

تمارين ومسائل (٤ : ٤)

[١] أوجد أصفار كل من الحدوديات التالية :

١ – $\frac{٣}{٢}$ س + ٦ ، ٢ – س^{٢} + ٥ س + ٦ ،

٣ – س^{٢} – ٣س – ٤ ، ٤ – ٢س^{٢} + ٥ س – ٦ ،

٥ – ٣ س^{٢} + $\frac{١}{٢}$ س – ١ ، ٦ – س^{٣} – ٢ س^{٢} – س + ٢ ،

٧ – س^{٣} – ٥س^{٢} – ٨س + ١٢ ، ٨ – س^{٤} – س^{٣} – ٣١ س^{٢} + ٢٥ س + ١٥٠ .

[٢] معطى في كل مما يأتي حدودية وأحد أصفارها ، فأوجد بقية اصفارها :

أ) س^{٢} + ٧ س + ٦ ، س = –١ .

ب) س^{٣} – ٦ س^{٢} – ١٣ س + ٤٢ ، س = ٧ .

جـ) س^{٣} + ١٠ س^{٢} + ٢٩ س + ٢٠ ، س = – ٤ .

د) س^{٤} – ٣ س^{٢} + ٢ ، س = ١ ، س = – ١ .

هـ) س^{٣} + س^{٢} – ٨ س – ١٢ ، س = – ٢ .

و) س^{٤} – ٣ س^{٣} – ١٩ س^{٢} + ٢٧ س + ٩٠ ، س = – ٢ .

[٣] اكتب كلا من الحدوديات التالية على شكل حاصل ضرب عواملها :

أ) س^{٢} – ٣ س – ١٠ ، ب) س^{٣} – ٥ س^{٢} – ٩ س + ٤٥ ،

جـ) س^{٤} + س^{٣} – ١٣ س^{٢} – ٢٥س – ١٢ .

http://E-learning-moe.edu.ye

٥ : ١ العملية الثنائية

تذكر أن عملية الجمع مغلقة على ط ، أي أنه ∀ ا ، ب ∈ ط نجد أن : ا + ب ∈ ط ، فمثلاً:

٢ + ٧ = ٩ ، ١٥ + ١١ = ٢٦ . أي أن : (٢ ، ٧) ⟵± ٩ ، (١٥ ، ١١) ⟵± ٢٦ ،

ومعنى ذلك أن عملية الجمع على مجموعة الأعداد الطبيعية تقرن « أو تربط » كل عددين طبيعيين على صورة زوج مرتب (ا ، ب) بعدد وحيد من ط . أي أن عملية الجمع على ط تمثل تطبيقاً مجاله ط × ط ، ومجاله المقابل المجموعة ط نفسها أي أن :

+ : ط × ط ← ط .

أن أن عملية الجمع (+) عملية ثنائية على ط ، أما عملية الطرح (−) ليست عملية ثنائية على ط ، فمثلاً العددان ٢ ، ٥ ∈ ط ولكن ٢ − ٥ = −٣ ∉ ط

تعريف (٥ : ١)

العملية الثنائية ○ على مجموعة غير خالية س هي تطبيق مجاله س × س ومجاله المقابل المجموعة س نفسها .

ملاحظات :

- تسمى العملية الثنائية أحياناً بالعملية الداخلية أو بقانون التشكيل الداخلي .
- تتعين العملية الثنائية بربط كل زوج مرتب (س ، ص) من س × س بعنصر وحيد من س .
- العملية الثنائية قد لاتكون جمعاً أو ضرباً ولكنها نوع من أنواع التطبيقات يُعرف تعريفاً تاماً ، هو ما يعرف بقاعدة التطبيق .
- يرمز للعملية الثنائية برمز مثل : ○ أو * أو ⊕ أو ⊙ أو T أو Δ ... .

تدريب (٥ − ١) عين أياً من العمليات الأربع الاساسية عملية ثنائية على كل من المجموعات :

ط ، ص ، ف ، ح .

http://Yaman.E-learning-moe.edu.ye

مثال (٥ – ١) لتكن س = { ١ ، ٢ ، ٣ ، ٤ } والعملية « + » معرفة بالجدول (٥ – ١) التالي :

جدول (٥ – ١)

+	١	٢	٣	٤
١	٢	٣	٤	٥
٢	٣	٤	٥	٦
٣	٤	٥	٦	٧
٤	٥	٦	٧	٨

هل العملية « + » ثنائية ؟

الحـــل

تلاحظ من الجدول أن العملية « + » ليست ثنائية

لأن (١ ، ٤) ← ٥ ، ٥ ∉ س .

مثال (٥ – ٢) لتكن العمليتان ⊕ ، ⊙ معرفتين على س = { ٢ ، ٤ ، ٦ ، ٨ } على النحو التالي :

ا ⊕ ب = باقي قسمة ا + ب على ١٠ ، ا ⊙ ب = باقي قسمة ا ب على ١٠ ، بين

اياً من العملتين ثنائية على س .

الحـــل نكوّن جدولاً لكل عملية على النحو التالي :

⊕	٢	٤	٦	٨
٢	٤	٦	٨	٠
٤	٦	٨	٠	٢
٦	٨	٠	٢	٤
٨	٠	٢	٤	٦

جدول (٥ –٢)

⊙	٢	٤	٦	٨
٢	٤	٨	٢	٦
٤	٨	٦	٤	٢
٦	٢	٤	٦	٨
٨	٦	٢	٨	٤

جدول (٥ –٣)

تلاحظ من الجدول (٥ – ٢) أن العملية ⊕ ليست ثنائية لأن الصفر ∉ س .

وتلاحظ من الجدول (٥ – ٣) أن العملية ⊙ ثنائية لأن كل عناصر الجدول تنتمي إلى س .

ملاحظات :

١) عند تكوين جدول عملية ما على مجموعة س وكانت جميع عناصر الجدول تنتمي إلى س تكون العملية ثنائية.

٢) ص$_{ن}$ = { ٠ ، ١ ، ٢ ، ... ، (ن – ١) } .

ص$_{ن}^{*}$ = { ١ ، ٢ ، ٣ ، ... ، (ن – ١) } .

فمثلاً ص$_{٧}$ = { ٠ ، ١ ، ٢ ، ٣ ، ٤ ، ٥ ، ٦ } ، ص$_{٥}^{*}$ = { ١ ، ٢ ، ٣ ، ٤ } .

كل من عملية الجمع ⊕ ، عملية الضرب ⊙ على ص$_{ن}$ تعرف كما يلي :

ا ⊕ ب = باقي قسمة ا + ب على ن ∀ ا ، ب ∈ ص$_{ن}$.

ا ⊙ ب = باقي قسمة ا ب على ن ∀ ا ، ب ∈ ص$_{ن}$.

٣) إذا كانت س مجموعة مكونة من عنصرين فإن :

http://E-learning-moe.edu.ye

١ – عدد عناصر س × س = ٢ × ٢ = ٤ .

٢ – عدد العمليات الثنائية « التطبيقات » من س × س إلى س = $٢^{٤}$ = ١٦ .

وبصورة عامة : إذا كانت س مجموعة مكونة من ن عنصر فإن عدد العمليات الثنائية التي يمكن تعريفها من س × س إلى س يساوي (ن)^{٢} .

مثال (٥ – ٣) إذا كانت العملية * ثنائية على ص معرفة بالقاعدة :

أ * ب = أ + ٢ ب ∀ أ ، ب ∈ ص . فاوجد ما يلي :

١) ٢ * ٧ ، ٢) ٣ * ـ٥ ،

٣) ـ٥ * ـ٦ ، ٤) س حيث س * ٥ = ٣

الحـــل

١) ٢ * ٧ = ٢ + ١٤ = ١٦ ، ٢) ٣ * ـ٥ = ٣ ـ ١٠ = ـ ٧ ،

٣) ـ٥ * ـ٦ = ـ٥ ـ ١٢ = ـ ١٧ ،

٤) س * ٥ = س + ١٠ = ٣

∴ س = ٣ ـ ١٠

∴ س = ـ ٧

تمارين ومسائل (٥–١)

[١] أكمل الفراغات في الجدول (٥ – ٤) .
بنعم إذا كانت العملية ثنائية ، بـ لا إذاكانت العملية ليست ثنائية .

المجموعة \ العملية	+	–	×	÷
ط	نعم	لا		
ص				لا
ن			نعم	
ح				

جدول (٥ – ٤)

[٢] لتكن س = { ٠ ، ١ ، ٢ ، ٣ ، ٤ ، ٥ } ، ولنعرف على س العمليتين ⊕ ، ⊙ بالجدولين التاليين :

http://Yaman.E-learning-moe.edu.ye

⊕	٠	١	٢	٣	٤	٥
٠			٢	٣		
١			٣	٤		
٢	٢	٣	٤	٥	٠	١
٣			٥	٠		
٤			٠	١		
٥		٠	١			

جدول (٥ –٥)

⊙	٠	١	٢	٣	٤	٥
٠					٠	
١					٤	
٢	٠	٢	٤	٠	٢	٤
٣					٠	
٤					٤	
٥					٢	

جدول (٥ –٦)

١ – أكمل الجدولين . ٢ – هل كل عملية ثنائية على $ص_{ن}$ ؟ اذكر السبب .

٣ – عيّن قاعدة كل عملية من جدولها .

[٣] إذا كانت العملية * ثنائية على $ص_{ن}$ معرفة بالقاعدة : أ * ب = أ + ب – ٥ $\forall$ أ ، ب $\in$ $ص_{ن}$ ، فأوجد ما يلي :

١ – ٣ * ٥ ، –٥ * ٢ ، –٧ * –٢ . ٢ – س حيث س *٩ = ٧ .

[٤] لتكن ع : ط × ط ← ط معرفة بالقاعدة :

$$ع(س ، ص) = \begin{cases} س & \text{إذا كان } س \geq ص \\ ص & \text{إذا كان } س < ص \end{cases}$$

هل ع عملية ثنائية ؟

[٥] لتكن $ص_{٥} = \{ ٠ ، ١ ، ٢ ، ٣ ، ٤ \}$ ، وعرّفنا عليها العمليتين ⊕ ، ⊙ كما يلي :

أ ⊕ ب = باقي قسمة أ + ب على ٥ ، أ ⊙ ب = باقي قسمة أ ب على ٥ .

بيّن أياً من العمليتين ثنائية على $ص_{٥}$ ، واذكر السبب .

[٦] إذا عرفنا العملية ⊙ على $ص_{١٠}$ بالقاعدة :

أ ⊙ ب = باقي قسمة أ ب على ١٠ $\forall$ أ ، ب $\in$ $ص_{١٠}$.

١ – مثل العملية ⊙ في جدول . ٢ – أوجد مجموعة الحل للآتي :

٢ ⊙ س = ٠ ، س ⊙ ٣ = ١ ، ٤ ⊙ س = ٣ .

[٧] إذا عرفنا العملية * على ط بالقاعدة :

أ * ب = $\frac{١}{٢}$ (أ + ب) $\forall$ أ ، ب $\in$ ط . بيّن أن العملية * ليست ثنائية على ط .

[٨] هل عملية الطرح على مجموعة الأعداد الصحيحة التي تقبل القسمة على ٣ ثنائية ؟

http://E-learning-moe.edu.ye

٥ : ٢ خواص العملية الثنائية

١) خاصية الابدال :

تعريف (٥ : ٢)

العملية الثنائية ○ على مجموعة س تكون تبديلية إذا كان ا ○ ب = ب ○ ا

∀ ا ، ب ∈ س .

مثال (٥ – ٤) إذا عرفنا على ط* العمليتين * ، Δ كما يلي :

١ – ا * ب = ا٢ + ب٢ . ٢ – ا Δ ب = ا٣ بيّن أي من العمليتين تبديلية .

الحـــل

١ – ا * ب = ا٢ + ب٢ ، ب * ا = ب٢ + ا٢ ، حيث ا٢ + ب٢ = ب٢ + ا٢ .

∴ ا * ب = ب * ا ∴ العملية * تبديلية على ط* .

٢ – ا Δ ب = ا٣ ، ب Δ ا = ب٣ .

فمثلاً ٣ Δ ٢ = ٣٢ = ٩ ، ٢ Δ ٣ = ٢٣ = ٨ .

∴ ا Δ ب ≠ ب Δ ا ∴ العملية Δ ليست تبديلية .

مثال (٥ – ٥) لتكن صـ٥* = { ١ ، ٢ ، ٣ ، ٤ } ، وعرفنا عليها العملية ⊙ كما يلي :

ا ⊙ ب = باقي قسمة ا ب على ٥ ، هل العملية ⊙ تبديلية ؟

الحـــل

نكوّن جدولاً للعملية ⊙ كما يلي :

⊙	١	٢	٣	٤
١	١	٢	٣	٤
٢	٢	٤	١	٣
٣	٣	١	٤	٢
٤	٤	٣	٢	١

جدول (٥ – ٧)

القطر الرئيس

ومنه تلاحظ أن :

∀ ا ، ب ∈ صـ٥* ، ا ⊙ ب = ب ⊙ ا .

∴ العملية ⊙ تبديلية .

ملاحظة

– في الأنظمة الرياضية التي تمثل عملياتها بجدول ؛ لكي تكون العملية تبديلية يكفي أن تكون العناصر المتناظرة بالنسبة لعناصر القطر الرئيسي متطابقة .

– القطر الرئسي :هو القطر الهابط من الزاوية اليمنى أعلى الجدول إلى الزاوية اليسرى أسفل الجدول . (الجدول٥–٧)

http://Yaman.E-learning-moe.edu.ye

٢) خاصية التجميع « الدمج » :

تعريف (٥ : ٣)

العملية الثنائية ○ على مجموعة س غير خالية تكون تجميعية إذا كان ا ○ (ب ○ جـ) = (ا ○ ب) ○ جـ

∀ ا ، ب ، جـ ∈ س .

مثال (٥ – ٦) لتكن س = {ا ، ب} ، وعرفنا عليها العملية ∇ بالجدول التالي. هل ∇ تجميعية؟

∇	ا	ب
ا	ا	ب
ب	ب	ب

جدول (٥ – ٨)

الحـــل

ا ∇ (ا ∇ ا) = ا ∇ ا = ا ، (ا ∇ ا) ∇ ا = ا ∇ ا = ا .

ا ∇ (ا ∇ ب) = ا ∇ ب = ب ، (ا ∇ ا) ∇ ب = ا ∇ ب = ب .

ا ∇ (ب ∇ ا) = ا ∇ ب = ب ، (ا ∇ ب) ∇ ا = ب ∇ ا = ب .

ا ∇ (ب ∇ ب) = ا ∇ ب = ب ، (ا ∇ ب) ∇ ب = ب ∇ ب = ب .

ب ∇ (ا ∇ ا) = ب ∇ ا = ب ، (ب ∇ ا) ∇ ا = ب ∇ ا = ب .

ب ∇ (ب ∇ ب) = ب ∇ ب = ب ، (ب ∇ ب) ∇ ب = ب ∇ ب = ب .

ب ∇ (ب ∇ ا) = ب ∇ ب = ب ، (ب ∇ ب) ∇ ا = ب ∇ ا = ب .

ب ∇ (ا ∇ ب) = ب ∇ ب = ب ، (ب ∇ ا) ∇ ب = ب ∇ ب = ب .

لاحظ أن عدد جميع الحالات الممكنة = ٨ وجميعها تحقق خاصية التجميع .

مثال (٥ – ٧) إذا عرّفنا العملية * على ص بالقاعدة :

س * ص = س + ص – ٥ ∀ س ، ص ∈ ص .

١ – هل العملية * تبديلية ؟ ٢ – هل العملية * تجميعية ؟

الحـــل

١ – س * ص = س + ص – ٥ ، ص * س = ص + س – ٥ ،

∵ الجمع على ص ابدالي .

∴ س * ص = ص * س . ∴ العملية * تبديلية .

٢ – لكي تكون العملية * تجميعية يجب أن يكون :

س * (ص * ع) = (س * ص) * ع ∀ س ، ص ، ع ∈ ص .

الطرف الأيمن = س * (ص * ع) = س * (ص + ع – ٥) = س + ص + ع – ٥ – ٥

= س + ص + ع – ١٠ .

http://E-learning-moe.edu.ye

الطرف الأيسر = (س * ص) * ع = (س + ص – ٥) * ع = س + ص – ٥ + ع – ٥

= س + ص + ع – ١٠ .

∵ الطرف الأيمن يساوى الطرف الأيسر .

∴ العملية * تجميعية .

مثال (٥ – ٨) لتكن العملية ⊥ معرّفة على مجموعة الأعداد النسبية ℚ بالقاعدة :

ا ⊥ ب = ا^{٢} + ٢ ب ، هل العملية ⊥ تجميعية ؟

الحـــل

لكي تكون العملية ⊥ تجميعية يجب أن يكون :

ا ⊥ (ب ⊥ جـ) = (ا ⊥ ب) ⊥ جـ ، ∀ ا ، ب ، جـ ∈ ℚ .

الأيمن = ا ⊥ (ب ⊥ جـ) = ا ⊥ (ب^{٢} + ٢ جـ) = ا^{٢} + ٢ (ب^{٢} + ٢ جـ) = ا^{٢} + ٢ب^{٢} + ٤جـ .

الأيسر = (ا ⊥ ب) ⊥ جـ = (ا^{٢} + ٢ب) ⊥ جـ = (ا^{٢} + ٢ب)^{٢} + ٢جـ

= ا^{٤} + ٤ ا^{٢} ب + ٤ ب^{٢} + ٢ جـ .

∴ ا ⊥ (ب ⊥ جـ) ≠ (ا ⊥ ب) ⊥ جـ

∴ العملية ⊥ ليست تجميعية .

٣) العنصر المحايد :

تعريف (٥ : ٤)

إذا كانت العملية ○ ثنائية على مجموعة ℚ غير خالية وأمكن إيجاد عنصر و ∈ ℚ بحيث يكون :

و ○ س = س ○ و = س ∀ س ∈ ℚ فإن : و عنصراً محايداً للعملية ○ .

مثال (٥ – ٩) لنعرّف على ℚ العملية الثنائية * بالقاعدة : ا * ب = ا + ب – ٣ .

أوجد العنصر المحايد للعملية * .

الحـــل لكي يكون للعملية * عنصر محايد (و) يجب أن يكون :

و * س = س * و = س ∀ س ∈ ℚ .

و * س = و + س – ٣ = س ، س * و = س + و – ٣ = س

و – ٣ = ٠ ⇐ و = ٣ .

∴ العنصر المحايد هو ٣ .

http://Yaman.E-learning-moe.edu.ye

مثال (٥ – ١٠) لتكن س = { ٢ ، ٤ ، ٦ ، ٨ } ، وعرفنا عليها العمليتين ⊕ ، ⊙ قياس العدد ١٠ ، عين أياً من العمليتين لها عنصر محايد .

الحـــل نكوّن جدولاً لكل عملية على حدة كما يلي .

⊕	٢	٤	٦	٨
٢	٤	٦	٨	٠
٤	٦	٨	٠	٢
٦	٨	٠	٢	٤
٨	٠	٢	٤	٦

جدول (٥ – ٩)

⊙	٢	٤	٦	٨
٢	٤	٨	٢	٦
٤	٨	٦	٤	٢
٦	٢	٤	٦	٨
٨	٦	٢	٨	٤

جدول (٥ – ١٠)

من الجدول (٥ – ٩) تلاحظ أن العملية ⊕ ليست ثنائية لأن ٠ ∉ س .

∴ العملية ⊕ ليس لها عنصر محايد .

من الجدول (٥ – ١٠) نلاحظ أن العملية ⊙ ثنائية ، وحسب تعريف العنصر المحايد نجد أن العنصر المحايد ٦ ، لأن ٦ ⊙ س = س .

فمثلاً ٦ ⊙ ٢ = ١٢ – ١٠ = ٢ ، ٦ ⊙ ٤ = ٤ ، ...

مما سبق نجد أن : العنصر المحايد هو العنصر الناتج من تقاطع صف يطابق الصف الرئيسي في الجدول مع عمود يطابق العمود الرئيسي .

مثال (٥ – ١١) إذا عرفنا على س = { جـ ، ء } العمليات * ، ⊙ ، Δ بالجداول التالية :

*	جـ	ء
جـ	ء	جـ
ء	ء	ء

جدول (٥ – ١١)

⊙	جـ	ء
جـ	جـ	ء
ء	جـ	جـ

جدول (٥ – ١٢)

Δ	جـ	ء
جـ	ء	جـ
ء	جـ	ء

جدول (٥ – ١٣)

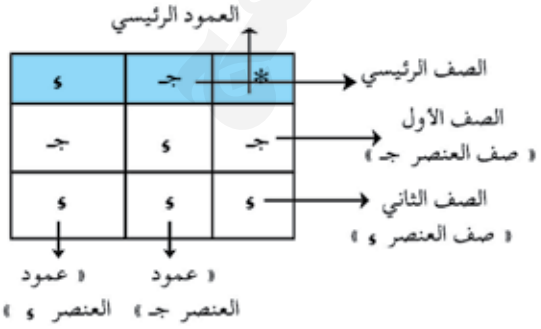

نلاحظ في الجدول (٥ – ١١) لا توجد عناصر تطابق الصف الرئيسي بالترتيب رغم أنه يوجد عناصر تطابق العمود الرئيسي .

∴ لايوجد عنصر محايد للعملية * .

في الجدول (٥ – ١٢) تلاحظ عناصر الصف جـ تطابق عناصر الصف الرئيسي ولكن عناصر العمود جـ لا تطابق عناصر العمود الرئيسي .

http://E-learning-moe.edu.ye

∴ لايوجد للعملية ⊙ عنصر محايد .

في الجدول (٥ – ١٣) تلاحظ أن عناصر الصف ع تطابق عناصر الصف الرئيسي وعناصر عموده تطابق عناصر العمود الرئيسي .

∴ العنصر المحايد للعملية Δ هو ع . (ع هو عنصر تقاطع الصف الثاني والعمود الثاني) .

٤) نظير « أو معكوس » العنصر :

تعريف (٥ : ٥)

إذا كانت العملية ○ ثنائية على مجموعة غير خالية س ، لها عنصر محايد « و » ، وكان ∀ س ∈ س يوجد س̄ ∈ س بحيث يكون: س ○ س̄ = س̄ ○ س = و نسمي س̄ نظير (أو معكوس) العنصر س بالنسبة للعملية الثنائية ○ في س .

مثال (٥ – ١٢) إذا عرّفنا العملية الثنائية * على ح* بالقاعدة :

ا * ب = ٢ ا ب ∀ ا ، ب ∈ ح* ، عيّن العنصر المحايد ونظير كل عنصر (إن أمكن) .

الحـــل

– لكي يكون للعملية الثنائية * عنصر محايد (و) يجب أن يكون :

ا * و = و * ا = ا ∀ ا ∈ ح* ، أي أن: ا * و = ٢ ا و = ا « عملية الضرب على ح ابدالية » .

∴ و = $\frac{١}{٢}$

– لكي يكون ∀ س ∈ ح* نظير س̄ ∈ ح* يجب أن يكون :

س * س̄ = س̄ * س = و .

أي أن س * س̄ = ٢ س س̄ = $\frac{١}{٢}$ ، س̄ * س = ٢ س̄ س = $\frac{١}{٢}$.

∴ س̄ = $\frac{١}{٤ س}$.

أي أن نظير أيّ عنصر يساوى مقلوب أربعة أمثال العنصر .

فمثلاً نظير العنصر ٥ يساوى $\frac{١}{٥ \times ٤}$ = $\frac{١}{٢٠}$ ، نظير العنصر (–٣) يساوى $\frac{١}{-٣ \times ٤}$ = $\frac{-١}{١٢}$.

مثال (٥ – ١٣) لتكن س = { ٣ ، ٦ ، ٩ ، ١٢ } ، وعرّفنا عليها العمليتين ⊕ ، ⊙ قياس ١٥ ، عين أيّاً من العمليتين لها عنصر محايد ، هل لكل عنصر نظير ؟

http://Yaman.E-learning-moe.edu.ye

الحـــل

نكوّن جدولاً لكل عملية .

⊕	٣	٦	٩	١٢
٣	٦	٩	١٢	٠
٦	٩	١٢	٠	٣
٩	١٢	٠	٣	٦
١٢	٠	٣	٦	٩

جدول (٥ – ١٤)

⊙	٣	٦	٩	١٢
٣	٩	٣	١٢	٦
٦	٣	٦	٩	١٢
٩	١٢	٩	٦	٣
١٢	٦	١٢	٣	٩

جدول (٥ – ١٥)

من الجدول (٥ – ١٤) نلاحظ أن العملية ⊕ ليست عملية ثنائية لأن ٠ ∉ س .

∴ ليس للعملية ⊕ عنصر محايد ، لايمكن البحث عن نظير كل عنصر .

من الجدول (٥ – ١٥) نلاحظ أن العملية ⊙ ثنائية .

∴ العنصر المحايد هو ٦ . هو العنصر الناتج من تقاطع الصف الثاني (الذي يطابق الصف الرئيسي) والعمود الثاني (الذي يطابق العمود الرئيسي) .

النظير ٣ ⊙ ١٢ = ١٢ ⊙ ٣ = ٦ ، العنصران ٣ ، ١٢ متناظران .

٦ ⊙ ٦ = ٦ العنصر المحايد نظير نفسه .

٩ ⊙ ٩ = ٦ العنصر ٩ نظير نفسه .

مثال (٥ – ١٤) إذا عرّفنا على س = { أ ، ب ، جـ } العمليات * ، ○ ، ∇ ، Δ في الجداول التالية :

*	أ	ب	جـ
أ	أ	ب	جـ
ب	ب	جـ	أ
جـ	جـ	أ	أ

جدول (٥ – ١٦ – أ)

○	أ	ب	جـ
أ	جـ	أ	ب
ب	أ	ب	جـ
جـ	أ	جـ	ب

جدول (٥ – ١٦ – ب)

∇	أ	ب	جـ
أ	ب	أ	أ
ب	أ	ب	جـ
جـ	أ	جـ	ب

جدول (٥ – ١٦ – جـ)

Δ	أ	ب	جـ
أ	جـ	أ	ب
ب	أ	ب	جـ
جـ	ب	جـ	أ

جدول (٥ – ١٦ – ء)

بيّن الخواص « الإبدال ، التجميع ، العنصر المحايد ، النظير » في كل من الأنظمة التالية :

(س ، *) ، (س ، ○) ، (س ، ∇) ، (س ، Δ) .

الحـــل

النظام (س ، *) إبدالي ، ليس تجميعي لأن :

ب * (ب * جـ) = ب * أ = ب ≠ (ب * ب) * جـ = جـ * جـ = أ .

http://E-learning-moe.edu.ye

العنصر المحايد ا . ا نظيره ا ، ب نظيره جـ ، جـ له نظيران ب ، جـ .

النظام (س ، ○) : غير إبدالي لأن العناصر المتناظر بالنسبة لعناصر القطر الرئيسي غير متطابقة، تجميعي لجميع الحالات « ٢٧ حاله » تأكد من ذلك .

العنصر المحايد ب .

النظير ا ○ جـ = ب ، جـ ○ ا = ا ، ∴ ا ○ جـ ≠ جـ ○ ا .

∴ ا ليس له نظير .

ب نظيره ب « عنصر محايد » ، جـ ○ جـ = جـ نظير نفسه .

النظام (س ، ∇) : إبدالي . لماذا ؟

ليس تجميعي لأن ا ∇ (ا ∇ جـ) = ا ∇ ا = ب ، (ا ∇ ا) ∇ جـ = ب ∇ جـ = جـ .

∴ ا ∇ (ا ∇ جـ) ≠ (ا ∇ ا) ∇ جـ .

العنصر المحايد ب

النظير كما في الجدول المقابل.

العنصر	ا	ب	جـ
النظير	ا	ب	جـ

النظام (س ، Δ) : ابدالي . تجميعي « تأكد من ذلك »

العنصر المحايد ب

النظير كما في الجدول المقابل.

العنصر	ا	ب	جـ
النظير	جـ	ب	ا

ملاحظات :

– إذا كان ليس للعملية الثنائية عنصر محايد فلا معنى للبحث عن نظير أي عنصر .

– يتم البحث عن نظير العنصر كما يلي :

■ إذا كان ا عنصراً من عناصر العمود الرئيسي فإن نظيره هو العنصر ب من عناصر الصف الرئيسي تقاطعهما العنصر المحايد والعكس صحيح .

– إذا كانت عناصر القطر الرئيسي هي العنصر المحايد فإن نظير كل عنصر نفسه .

تمارين ومسائل (٥ – ٢)

[١] إذا عرّفنا على س = { ا ، ب ، جـ ، و } العمليات ∇ ، * ، ○ في الجداول التالية عيّن الخواص « الإبدال ، العنصر المحايد ، النظير » لكل عملية.

∇	ا	ب	جـ	و
ا	ا	ب	جـ	و
ب	جـ	جـ	ب	ا
جـ	و	ا	جـ	ب
و	ب	و	ا	جـ

جدول (٥ – ١٧ – ا)

*	ا	ب	جـ	و
ا	جـ	و	ب	ا
ب	و	ب	ا	ب
جـ	ب	ا	و	جـ
و	ا	ب	جـ	و

جدول (٥ – ١٧ – ب)

○	ا	ب	جـ	و
ا	و	جـ	ب	ا
ب	ا	و	جـ	ب
جـ	ب	ا	و	جـ
و	ا	ب	جـ	و

جدول (٥ – ١٧ – جـ)

http://Yaman.E-learning-moe.edu.ye

[٢] لتكن س = { ١ ، ٣ ، ٥ ، ٧ } ، وعرّفنا عليها العمليات ∇ ، * ، ○ ، بالجداول التالية عين العملية الثنائية ومنها . أوجد ما يلي :

١ – عيّن العنصر المحايد – إن وجد – . ٢ – أوجد نظير كل عنصر – إن أمكن – لكل عملية .

٣ – عيّن قاعدة كل عملية .

∇	١	٣	٥	٧
١	١	٢	٣	٤
٣	٢	٣	٤	٥
٥	٣	٤	٥	٦
٧	٤	٥	٦	٧

جدول (٥ – ١٨– أ)

*	١	٣	٥	٧
١	١	٣	٥	٧
٣	٣	٣	٥	٧
٥	٥	٥	٥	٧
٧	٧	٧	٧	٧

جدول (٥ – ١٨– ب)

○	١	٣	٥	٧
١	١	٣	٥	٧
٣	٣	١	٧	٥
٥	٥	٧	١	٣
٧	٧	٥	٣	١

جدول (٥ – ١٨– جـ)

[٣] العملية الثنائية * معرفة على ص بالقاعدة : س * ص = ٣س+٢ ص ∀ س، ص ∈ ص ، أجب عما يأتي :

١ – هل * تبديلية ؟ ٢ – هل * تجميعية ؟

٣ – هل للعملية * عنصر محايد ؟ ٤ – هل لكل عنصر نظير ؟ وضح السبب .

[٤] إذا عرّفنا على ح* العملية الثنائية Δ بالقاعدة أ Δ ب = أب – ٥ ∀ أ ، ب ∈ ح* :

أ) هل العملية Δ تجميعية ؟

ب) هل للعملية الثنائية Δ عنصر محايد ؟ وإذا كانت الإجابة بنعم ، فأوجد قاعدة النظير .

[٥] لنعرّف العمليتين ⊕ ، ⊙ على ص٥ :

١ – كوّن جدولاً لكل عملية . ٢ – بيّن خاصية التجميع لكل عملية .

٣ – عيّن العنصر المحايد لكل عملية . ٤ – عيّن نظير كل عنصر لكل عملية – إن أمكن – .

[٦] لنعرّف العمليتين * ، ○ على ص على النحو التالي :

أ * ب = أ + ب – ١ ، أ ○ ب = أب ∀ أ ، ب ∈ ص* المطلوب

١ – أثبت أن كلٌ من العمليتين * ، ○ تجميعية . ٢ – عيّن العنصر المحايد لكل عملية – إن وجد – .

٣ – أوجد نظير كلٌ من العنصرين ٣ ، ٥ في كلاً من العمليتين .

[٧] لنعرّف العملية ∇ على ح / { ١ } بالقاعدة :

س ∇ ص = س + ص – س ص ∀ س ، ص ∈ ح / { ١ } .

١ – هل العملية تجميعية ؟ ٢ – هل للعملية عنصر محايد ؟

٣ – هل لكل عنصر نظير ؟ وإن كان ذلك . فأوجد قاعدة النظير .

http://E-learning-moe.edu.ye

٥ : ٣ النظام الرياضي

تعريف (٥ : ٦)

الزوج المرتب (س ، *) الذي مسقطه الأول مجموعة غير خالية س ومسقطه الثاني العملية الثنائية * على س يسمى نظاماً رياضياً « أو بنية جبرية » ذا عملية واحدة .

مثال (٥ - ١٥) – كلٌّ من الأزواج (ط ، ×) ، (ف ، +) ، (ص ، −) ، (ح ، ×) أنظمة رياضية بعملية واحدة .

– كلٌّ من الأزواج (ط ، −) ، (ص ، ÷) ليست أنظمة رياضية .

مثال (٥ - ١٦) إذا كانت ف = مجموعة الأعداد الطبيعية الفردية ، عيّن أيًا من الأزواج الآتية يمثل نظاماً رياضياً (ف ، +) ، (ف ، ×) .

الحـــل

∵ مجموع أيّ عددين طبيعيين فرديين يساوى عدداً طبيعياً زوجياً .

∴ العملية + ليست ثنائية على ف .

∴ (ف ، +) لايمثل نظاماً رياضياً .

∵ حاصل ضرب عددين طبيعيين فرديين يساوى عدداً طبيعياً فردياً .

∴ العملية × عملية ثنائية على ف .

∴ (ف ، ×) يمثل نظاماً رياضياً .

مثال (٥ - ١٧) إذا عرفنا العملية * على ط بالقاعدة : س *ص = $\frac{\text{س} + \text{ص}}{٢}$ ∀س ، ص ∈ ط ، هل (ط ، *) نظام رياضي ؟

الحـــل

نميز ثلاث حالات :

١ – إذا كان س ، ص عددين زوجيين فإن : س *ص = عدد طبيعي .

٢ – إذا كان س ، ص عددين فرديين فإن : س *ص = عدد طبيعي .

٣ – إذا كان س أو ص فردياً والآخر زوجياً فإن : س *ص ∉ ط .

مثل ٥ * ٦ = $\frac{٥ + ٦}{٢} = \frac{١١}{٢}$ ∉ ط .

∴ العملية * ليست عملية ثنائية على ط .

∴ (ط ، *) لايمثل نظاماً رياضياً .

http://Yaman.E-learning-moe.edu.ye

مثال (٥ - ١٨) لتكن س = { ا ، ب ، جـ ، ء } ، وعرفنا عليها العملية ◊ بالجدول (٥-١٩) التالي . هل (س ، ◊) نظام رياضي ؟

الحـــل

∀ س ، ص ∈ س نجد أن :

س ◊ ص ∈ س .

∴ ◊ عملية ثنائية على س .

∴ (س ، ◊) نظام رياضي .

◊	ا	ب	جـ	ء
ا	ب	ا	ء	جـ
ب	ا	ب	جـ	ء
جـ	ء	جـ	ب	ا
ء	جـ	ء	ا	ب

جدول (٥ -١٩)

تمارين ومسائل (٥ -٣)

[١] بيّن أيّا من الأزواج الآتية يمثل نظاماً رياضياً : (ط* ، ÷) ، (ص ، ×) ، (ن ، ×) ، (ن ، ÷) ، (ح* ، ×) .

[٢] لتكن العمليتان ○ ، * معرفتين على س = { ١ ، ٣ ، ٥ ، ٧ } ، في الجدولين التاليين :

١ – بيّن أيا من العمليتين تمثل نظاماً رياضياً . ٢ – أوجد قاعدة لكل عملية .

○	١	٣	٥	٧
١	١	٢	٣	٤
٣	٢	٣	٤	٥
٥	٣	٤	٥	٦
٧	٤	٥	٦	٧

جدول (٥ – ٢٠ – ا)

*	١	٣	٥	٧
١	١	٣	٥	٧
٣	٣	٣	٥	٧
٥	٥	٥	٥	٧
٧	٧	٧	٧	٧

جدول (٥ – ٢٠ – ب)

[٣] لتكن س = { ٣ ، ٩ ، ١٥ ، ٢١ } ، والعمليتان ن Δ ، ○ معرفتان على س ، كما يلي :

١) ا Δ ب = $\frac{ا + ب}{٣}$. ٢) ا ○ ب = $\frac{ا \times ب}{٣}$.

هل الزوجان (س ، Δ) ، (س ، ○) يمثلان نظامين رياضيين ؟ واذكر السبب .

[٤] لتكن س = { ٥ ، ١٠ ، ١٥ ، ٢٠ ، ٢٥ } ، والعملية □ معرفة على س بالقاعدة :

ا □ ب = ب كوّن جدولاً للعملية ، وهل (س ، □) نظام رياضي ؟

[٥] لتكن العملية * معرفة على ط بالقاعدة س * ص = س^{٢} + ص^{٢} . هل (ط ، *) نظام رياضي ؟

http://E-learning-moe.edu.ye

[٦] لتكن صـ٤ = { ٠ ، ١ ، ٢ ، ٣ } ، والعمليتان ⊕ ، ⊙ معرفتان كما يلي :

ا ⊕ ب = باقي قسمة ا + ب على ٤ ∀ ا ، ب ∈ صـ٤ ،

ا ⊙ ب = باقي قسمة ا ب على ٤ ∀ ا ، ب ∈ صـ٤*

١ – كوّن جدولاً لكل عملية .

٢ – بين أيّا من (صـ٤ ، ⊕) ، (صـ٤* ، ⊙) يمثل نظاماً رياضياً.

[٧] إذا عرّفنا العملية ○ على ح بالقاعدة : س ○ ص = ٣ س + ٢ ص . هل (ح ، ○) نظام رياضي؟

[٨] إذا عرّفنا العملية ◊ على ح بالقاعدة : ا ◊ ب = ا + ب – ا ب ، هل (ح ، ◊) نظام رياضي؟

٥ : ٤ الـــزمـــــرة

تعريف (٥ : ٧)

يسمى النظام الرياضي (س ، *) زمرة إذ تحققت فيه الشروط التالية :

١ – العملية * تجميعية . ٢ – يوجد عنصر محايد .

٣ – يوجد لكل عنصر س ∈ س نظير س̄ ∈ س ،

وإذا كانت * عملية إبدالية « يسمى النظام زمرة إبدالية » .

لاحظ أن :

ا) الأنظمة (صـ ، +) ، (ح* ، ×) (ق ، +) يمثل كلٌ منها زمرة إبدالية :

ب) النظام (ط ، +) لايمثل زمرة لأن الشرط الثالث لم يتوفر أي لايوجد لكل عنصر من ط نظير جمعي عدا العنصر المحايد .

مثال (٥ – ١٩) لتكن صـ٥* = { ١ ، ٢ ، ٣ ، ٤ } ، والعملية ⊙ .

أثبت أن النظام (صـ٥* ، ⊙) زمرة تبديلية .

الحـــل نكون جدولاً للعملية ⊙ ومنه نجد أن :

⊙	١	٢	٣	٤
١	١	٢	٣	٤
٢	٢	٤	١	٣
٣	٣	١	٤	٢
٤	٤	٣	٢	١

جدول (٥ – ٢١)

١ – ∀ ا ، ب ، جـ ∈ صـ٥* ،

ا ⊙ (ب ⊙ جـ) = (ا ⊙ ب) ⊙ جـ

لجميع الحالات « ٦٤ حالة » تأكد من ذلك .

∴ العملية ⊙ تجميعية .

http://Yaman.E-learning-moe.edu.ye

٢ – العنصر المحايد ١ وذلك من تقاطع الصف الأول والعمود الأول المطابقين لنظائرهما الرئيسيين .

٣ – النظير .

أي تقاطع العنصر مع نظيره يعطى العنصر المحايد

العنصر	١	٢	٣	٤
النظير	١	٣	٢	٤

∵ ∀ ا،ب ∈ صـ٥ ، ا ⊙ ب = ب ⊙ ا .

∴ النظام (صـ٥ ، ⊙) زمرة تبديلية .

مثال (٥ – ٢٠) لتكن صـ٦ = { ٠ ، ١ ، ٢ ، ٣ ، ٤ ، ٥ } ، والعمليتان ⊕ ، ⊙ معرّفتان كما في الجدولين التاليين ، عيّن اياً من النظامين (صـ٦ ، ⊕) ، (صـ٦ ، ⊙) يمثل زمرة .

⊕	٠	١	٢	٣	٤	٥
٠	٠	١	٢	٣	٤	٥
١	١	٢	٣	٤	٥	٠
٢	٢	٣	٤	٥	٠	١
٣	٣	٤	٥	٠	١	٢
٤	٤	٥	٠	١	٢	٣
٥	٥	٠	١	٢	٣	٤

جدول (٥ – ٢٢)

⊙	٠	١	٢	٣	٤	٥
٠	٠	٠	٠	٠	٠	٠
١	٠	١	٢	٣	٤	٥
٢	٠	٢	٤	٠	٢	٤
٣	٠	٣	٠	٣	٠	٣
٤	٠	٤	٢	٠	٤	٢
٥	٠	٥	٤	٣	٢	١

جدول (٥ – ٢٣)

أولاً – النظام (صـ٦ ، ⊕) : من الجدول (٥ – ٢٢) نجد أن :

١ – ∀ ا ، ب ، جـ ∈ صـ٦ ، (ا ⊕ ب) ⊕ جـ = ا ⊕ (ب ⊕ جـ) .

أي أن العملية ⊕ تجميعية .

٢– العنصر المحايد هو الصفر الناتج من تقاطع الصف الأول مع العمود الأول .

٣ – النظير لكل عنصر كما في الجدول :

العنصر	٠	١	٢	٣	٤	٥
نظيره	٠	٥	٤	٣	٢	١

∴ (صـ٦ ، ⊕) زمرة .

∵ ∀ ا ، ب ∈ صـ٦ ، ا ⊕ ب = ب ⊕ ا ، ∴ (صـ٦ ، ⊕) زمرة تبديلية .

http://E-learning-moe.edu.ye

ثانياً – النظام (صـ٢ ، ⊙) :

من الجدول (٥ – ٢٣) نجد أن :

١ – ∀ ا ، ب ، جـ ∈ صـ٢ ، (ا ⊙ ب) ⊙ جـ = ا ⊙ (ب ⊙ جـ) .

∴ العملية ⊙ تجميعية .

٢ – العنصر المحايد هو ١ .

٣ – النظير : ١ نظيره ١ « عنصر محايد » ، ٥ نظيره ٥ بقية العناصر ليس لها نظائر .

∴ (صـ٢ ، ⊙) لايمثل زمرة .

مثال (٥ – ٢١) لنعرف العملية * على مجموعة الأعداد الحقيقية ح بالقاعدة :

ا * ب = ا + ب – $\frac{١}{٢}$ ، أثبت أن النظام (ح ، *) زمرة تبديلية .

الحـــل

١ – لكي تكون العملية * تجميعية يجب أن يكون : ∀ ا ، ب ، جـ ∈ ح

ا * (ب * جـ) = (ا * ب) * جـ .

الطرف الأيمن = ا * (ب * جـ) = ا * (ب + جـ – $\frac{١}{٢}$) = ا + ب + جـ – $\frac{١}{٢}$ – $\frac{١}{٢}$

= ا + ب + جـ – ١ .

الطرف الأيسر = (ا * ب) * جـ = (ا + ب – $\frac{١}{٢}$) * جـ = ا + ب – $\frac{١}{٢}$ + جـ – $\frac{١}{٢}$.

= ا + ب + جـ – ١ .

الطرف الأيمن = الطرف الأيسر ، ∴ العملية * تجميعية .

٢ – لكي يكون للعملية * عنصر محايد (و) يجب أن يكون ∀ ا ∈ ح .

ا * و = و * ا = ا .

أي أن : ا * و = ا + و – $\frac{١}{٢}$ = ا .

∴ و – $\frac{١}{٢}$ = ا – ا ، ∵ « الجمع إبدالي »

∴ و – $\frac{١}{٢}$ = ٠ ، ∴ و = $\frac{١}{٢}$.

٣ – لكي يكون لكل عنصر س ∈ ح نظير $\overline{س}$ ∈ ح يجب أن يكون :

http://Yaman.E-learning-moe.edu.ye

س * س$'$ = س$'$ * س = و

أي أن : س * س$'$ = س + س$'$ − $\frac{1}{2}$ = $\frac{1}{2}$ ⇐ س$'$ = ١ − س .

س$'$ * س = س + س$'$ − $\frac{1}{2}$ = $\frac{1}{2}$.

س$'$ = ١ − س أي أن : « نظير أي عنصر يساوى واحد ناقص نفس العنصر » .

∵ ∀ ا ، ب ∈ ح ا * ب = ب * ا « الجمع إبدالي على ح » .

النظام (ح ، *) زمرة تبديلية .

مبرهنة (٥ : ١)

إذا كان (س$_ن$ ، *) زمرة فإن : ١ − يوجد عنصر محايد وحيد . ٢− لكل عنصر من س$_ن$ نظير وحيد .

البرهان :

١) نفرض أن للزمرة (س$_ن$ ، *) عنصرين محايدين و$_١$ ، و$_٢$.

∵ و$_١$ عنصر محايد ∴ و$_١$ * و$_٢$ = و$_٢$ * و$_١$ = و$_٢$ ..... (١)

∵ و$_٢$ عنصر محايد ∴ و$_٢$ * و$_١$ = و$_١$ * و$_٢$ = و$_١$ ..... (٢)

من (١) ، (٢) نجد أن : و$_١$ = و$_٢$ ∴ العنصر المحايد وحيد .

٢) نفرض أن للعنصر س نظيرين س$'$ ، س$''$ فيكون :

(س$'$ * س) * س$''$ = و * س$''$ = س$''$ ، س$'$ * (س * س$''$) = س$'$ * و = س$'$

من خاصية التجميع : (س$'$ * س) * س$''$ = س$'$ * (س * س$''$)

∴ س$'$ = س$''$ « النظير وحيد » .

مبرهنة (٥ : ٢)

إذا كانت (س$_ن$ ، *) زمرة وكان : ١) ا * ب = ا * جـ فإن ب = جـ

٢) ب * ا = جـ * ا فإن ب = جـ

البرهان :

١) ا * ب = ا * جـ أرفق نظير ا (آ) للطرفين من اليمين .

آ * (ا * ب) = آ * (ا * جـ) من خاصية التجميع .

(آ * ا) * ب = (آ * ا) * جـ ⇐ و * ب = و * جـ . ∴ ب = جـ .

http://E-learning-moe.edu.ye

٢) ب * ا = جـ * ا أرفق نظير ا ($\bar{ا}$) للطرفين من اليسار

(ب * ا) * $\bar{ا}$ = (جـ * ا) * $\bar{ا}$ ⇐ ب * (ا * $\bar{ا}$) = جـ * (ا * $\bar{ا}$) ⇐

ب * و = جـ * و . ∴ ب = جـ .

مبرهنة (٥ : ٣)

إذا كانت (س ، *) زمرة فإن للمعادلة : ب * س = جـ حلاً وحيداً هو س = $\bar{ب}$ * جـ ، وكذلك للمعادلة : س * ب = جـ حل وحيد هو س = جـ * $\bar{ب}$.

البرهان :

١) ب * س = جـ بإرفاق $\bar{ب}$ (تظيز ب) من اليمين للطرفين .

$\bar{ب}$ * (ب * س) = $\bar{ب}$ * جـ ⇐ ($\bar{ب}$ * ب) * س = $\bar{ب}$ * جـ ⇐

و * س = $\bar{ب}$ * جـ ، ∴ س = ب * جـ هو حلاً للمعادلة .

لنفرض أن للمعادلة حل آخر هو س = ء ، أي أن : $\bar{ب}$ * ء = جـ

وبنفس الاسلوب السابق نجد أن : ء = ب * جـ . ، ∴ الحل وحيد .

٢) يترك برهان الجزء الثاني كتمرين للطالب .

تعريف (٥ : ٨)

العناصر المنتظمة إذا كانت * عملية ثنائية معرفة على س وكان ا ∈ س فإن ا عنصر منتظم إذا تحقق ما يلي : ∀ ب ، جـ ∈ س فإن : ا * ب = ا * جـ ، ب * ا = جـ * ا ⇐ ب = جـ .

مثال (٥ - ٢٢) إذا عرّفنا على ط العملية * بالقاعدة : س * ص = س + ٢ص ∀ س ، ص ∈ ط .

١ - هل العنصران ٠ ، ١ منتظمان ؟ ٢ - هل توجد عناصر في ط غير منتظمة ؟

الحـــل

١ - ∀ ب ، جـ ∈ ط ، صفر * ب = صفر * جـ ⇐ صفر + ٢ب = صفر + ٢جـ ⇐ ب = جـ

كما أن : ب * ٠ = جـ * ٠ ⇐ ب = جـ . ، ∴ الصفر عنصر منتظم .

وبالمثل ١ * ب = ١ * جـ ⇐ ١ + ٢ ب = ١ + ٢ جـ ⇐ ب = جـ .

كما أن : ب * ١ = جـ * ١ ⇐ ب + ٢ = جـ + ٢ ⇐ ب = جـ .

∴ العنصر « ١ » منتظم .

http://Yaman.E-learning-moe.edu.ye

٢ – بفرض أن س ∈ ط فإن :

س * ب = س * جـ ⇐ س + ٢ ب = س + ٢ جـ ⇐ ب = جـ .

ب * س = جـ * س ⇐ ب + ٢ س = جـ + ٢ س ⇐ ب = جـ .

∴ ∀ س ∈ ط نجد أن س عنصر منتظم .

مثال (٥ – ٢٣) إذا كان النظام (صـ*ن ، ⊗) يمثل زمرة :

١ – عيّن العناصر المنتظمة في صـ*ن . ٢ – حل المعادلتين ، س ⊗ ٤ = ٣ ، ٣ ⊗ س = ٤ .

الحـــل

١ – بفرض س ∈ صـ*ن ∀ ب ، جـ ∈ صـ*ن ، فإن : س ⊗ ب = س ⊗ جـ .

∵ (صـ*ن ، ⊗) زمرة . ∴ س̄ ∈ صـ*ن .

∴ (س̄ ⊗ س) ⊗ ب = (س̄ ⊗ س) ⊗ جـ

و ⊗ ب = و ⊗ جـ ⇐ ب = جـ ـــــ (١)

ب ⊗ س = جـ ⊗ س ⇐ ب ⊗ (س ⊗ س̄) = جـ ⊗ (س̄ ⊗ س)

ب ⊗ و = جـ ⊗ و ⇐ ب = جـ ـــــ (٢)

من (١) ، (٢) نجد أن : جميع عناصر صـ*ن منتظمة .

٢– س ⊗ ٤ = ٣ ⇐ س ⊗ ٤ ⊗ ٤̄ = ٣ ⊗ ٤̄ .

∴ س ⊗ ١ = ٣ ⊗ ٤ ⇐ س = ٢

، ٣ ⊗ س = ٤ ⇐ ٣̄ ⊗ ٣ ⊗ س = ٣̄ ⊗ ٤

∴ س = ٢ ⊗ ٤ . ، ∴ س = ٣ .

تمارين ومسائل (٥–٤)

[١] لتكن سـ = { ١ ، ٢ ، ٣ } ، وعرّفنا عليها العمليات ∇ ، Δ ، * ، ○ بالجداول التالية :

∇	١	٢	٣
١	١	٢	٣
٢	٢	٢	٣
٣	٣	٣	٣

جدول (٥ – ٢٤–أ)

Δ	١	٢	٣
١	١	١	١
٢	٢	١	٢
٣	٣	٢	١

جدول (٥ – ٢٤– ب)

*	١	٢	٣
١	١	٢	٣
٢	٢	٣	١
٣	٣	١	٢

جدول (٥ – ٢٤– جـ)

○	١	٢	٣
١	١	٢	٣
٢	٢	١	٢
٣	٣	٢	١

جدول (٥ – ٢٤ – ء)

بيّن أيّاً من الأنظمة (سـ ، ∇) ، (سـ ، Δ) ، (سـ ، *) ، (سـ ، ○) يمثل زمرة تبديلية .

http://E-learning-moe.edu.ye

[٢] العمليتان ⊕ ، ⊙ معرّفتان على صـ٧ = { ٠ ، ١ ، ٢ ، ٣ ، ٤ ، ٥ ، ٦ } قياس العدد ٧ ، بيّن اياً من الأنظمة التالية يمثل زمرة (صـ٧ ، ⊕) ، (صـ٧ ، ⊗) ، (صـ٧ ، ⊙) .

[٣] بيّن أيّاً من الأنظمة التالية تمثل زمرة : (ط ، ×) ، (ن ، +) ، (ن ، ×) ، (ن* ، ×) .

[٤] لتكن س = { −١ ، ١ } هل (س ، *) زمرة ؟ حيث * عملية الضرب العادي .

[٥] لتكن س = { −١ ، ٠ ، ١ } هل (س ، ○) زمرة ؟ حيث ○ عملية الجمع العادي .

[٦] لتكن س = { س : س = ٧ د ، د ∈ صـ } ، برهن أن (س ، +) زمرة ابدالية .

[٧] أيٌ من الأنظمة التالية تشكل زمرة وأيّها لاتشكل زمرة ، مع ذكر السبب :

١ – (صـ ، *) حيث ا * ب = ا − ٢ ب ∀ ا ، ب ∈ صـ .

٢ – (صـ*+ ، ○) حيث ا ○ ب = ا ب ∀ ا ، ب ∈ صـ*+ .

٣ – (صـ*٥ ، ⊗) حيث ⊗ عملية الضرب قياس العدد ٥ .

[٨] في النظام (ح* ، ○) العملية ○ معرّفة بالقاعدة : ا ○ ب = ٢ ا ب

١ – أثبت أن (ح* ، ○) زمرة تبديلية .

٢ – حل المعادلتين : س ○ ٧ = ٤٢ ، ٣ ○ س = − ٣٠ .

[٩] إذا عرّفنا العملية * على صـ بالقاعدة : س * ص = س + ص − ٥ ∀ س ، ص ∈ صـ .

هل (صـ ، *) يمثل زمرة ؟ وضّح السبب .

[١٠] إذا عرّفنا العملية ○ على ح بالقاعدة : س ○ ص = س + س ص ∀ س ، ص ∈ ح .

١ – بيّن أيّاً من العناصر −١ ، ٠ ، ١ منتظمة .

٢ – ما هي العناصر غير المنتظمة في ح ؟

[١١] إذا عرّفنا العملية * على ح / { −١ } بالقاعدة :

س * ص = س + ص + س ص ∀ س ، ص ∈ (ح / { −١ }) بيّن إن كان (ح / { −١ } ، *) يمثل زمرة .

http://Yaman.E-learning-moe.edu.ye

الإدارة العامة للمناهج

تم بحمد الله

http://E-learning-moe.edu.ye

استبانة تقويم الكتاب

بيانات المستجيب:

الاسم/.....	المؤهل وتاريخه/.....	التخصص/.....
العمل الحالي /.....	المحافظة/.....	

بيانات الكتاب:

المادة /.....	الصف /.....	اسم الكتاب /.....
الجزء/.....	الطبعة.....	السنة الدراسية /.....
تاريخ تعبئة الاستبانة.....		

نهدف من هذه الاستبانة تقويم الكتاب بغرض تحسينه في الطبعات القادمة.
نرجو التكرم بوضع علامة (✓) تحت الوصف الذي تراه مناسباً لإجابتك أمام كل بند.

البنـــد	جيد جداً	جيد	مقبول	ضعيف
أولاً- الأهداف:				
– وضوح الصياغة .				
– تقيس فكرة محددة .				
– يمكن قياسها .				
– شاملة (معرفية – مهارية – وجدانية) .				
ثانياً - المادة العلمية وأسلوب عرضها:				
– ملاءمة لغة الكتاب لمستوى المتعلم .				
– سلامة ووضوح لغة الكتاب .				
– ترسيخ المحتوى للقيم الدينية والوطنية .				
– مادة الكتاب تكسب المتعلم خبرات جديدة .				
– ملامسة المادة لمشكلات المتعلم واهتماماته .				
– مادة الكتاب تساعد المتعلم على فهم المشكلات .				
– مادة الكتاب تراعي الفروق الفردية .				
– خلو الكتاب من التكرار في الموضوعات .				
– يراعي أسلوب عرض المادة الترابط والتسلسل المنطقي .				
– مراعاة مادة الكتاب للحداثة والدقة العلمية .				
– عرض المادة تحفز على القراءة والبحث والتفكير .				
– تحقيق المحتوى لأهداف المادة .				

البنـــد	جيد جداً	جيد	مقبول	ضعيف
ثالثاً - الوسائل التعليمية:				
– وضوحها ودقتها .				
– ارتباطها بموضوعات الدرس .				
– مدى ارتباطها بالأهداف .				
رابعاً -التقويم:				
– الأنشطة والتمارين تكسب المتعلم مهارات متنوعة .				
– بطاقات التفكير تثير دافعية البحث والاطلاع .				
– الأسئلة والتمرينات تقيس مدى تحقيق الأهداف .				
– مناسبة لمستوى المتعلم .				
– دقة ووضوح الصياغة .				
– تراعي الفروق الفردية .				
– متنوعة وشاملة للجوانب المعرفية .				
– تساعد المتعلم في تطبيق ما تعلمه في مواقف الحياة المختلفة .				
– كفاية الأسئلة في مساعدة المتعلم على استيعاب مادة الكتاب .				
خامساً - الشكل والإخراج الفني:				
– ارتباط الغلاف بمحتوى الكتاب .				
– متانة تجليد الكتاب .				
– وضوح الألوان ومناسبتها .				
– وضوح ودقة الطباعة .				
– نوعية ورق الكتاب .				

http://Yaman.E-learning-moe.edu.ye

أسئلة عامة، أجب بـ (نعم) أو (لا):

البنـــد	نعم	لا	
– ينسجم محتوى الكتاب مع نظام الفصلين الدراسيين .			
– عدد الحصص المقررة تكفي لا ستيعاب مادة الكتاب .			
– هل الوسائل التعليمية متنوعة وكافية ؟			
– هل هناك ضرورة لوجود قائمة بالمراجع ومصادر المعلومات ؟			
– هل هناك موضوعات ترى ضرورة حذفها (اذكرها) ؟			
– هل هناك موضوعات ترى ضرورة إضافتها (اذكرها) ؟			
إذا كان لديك ملاحظات أخرى اكتبها			

قائمة الأخطاء العلمية واللغوية والمطبعية:

الخطأ	الصفحة	السطر	الصواب

نرجو التكرم بإرسال الإستبانة إلى

الإدارة العامة للمناهج
+967771761429 Curricula.Ye@gmail.com
للحصول على المناهج الدراسية عبر:
https://e-learning-moe.edu.ye
https://t.me/Books_Yemen_new



الإدارة العامة للتعليم الإلكتروني